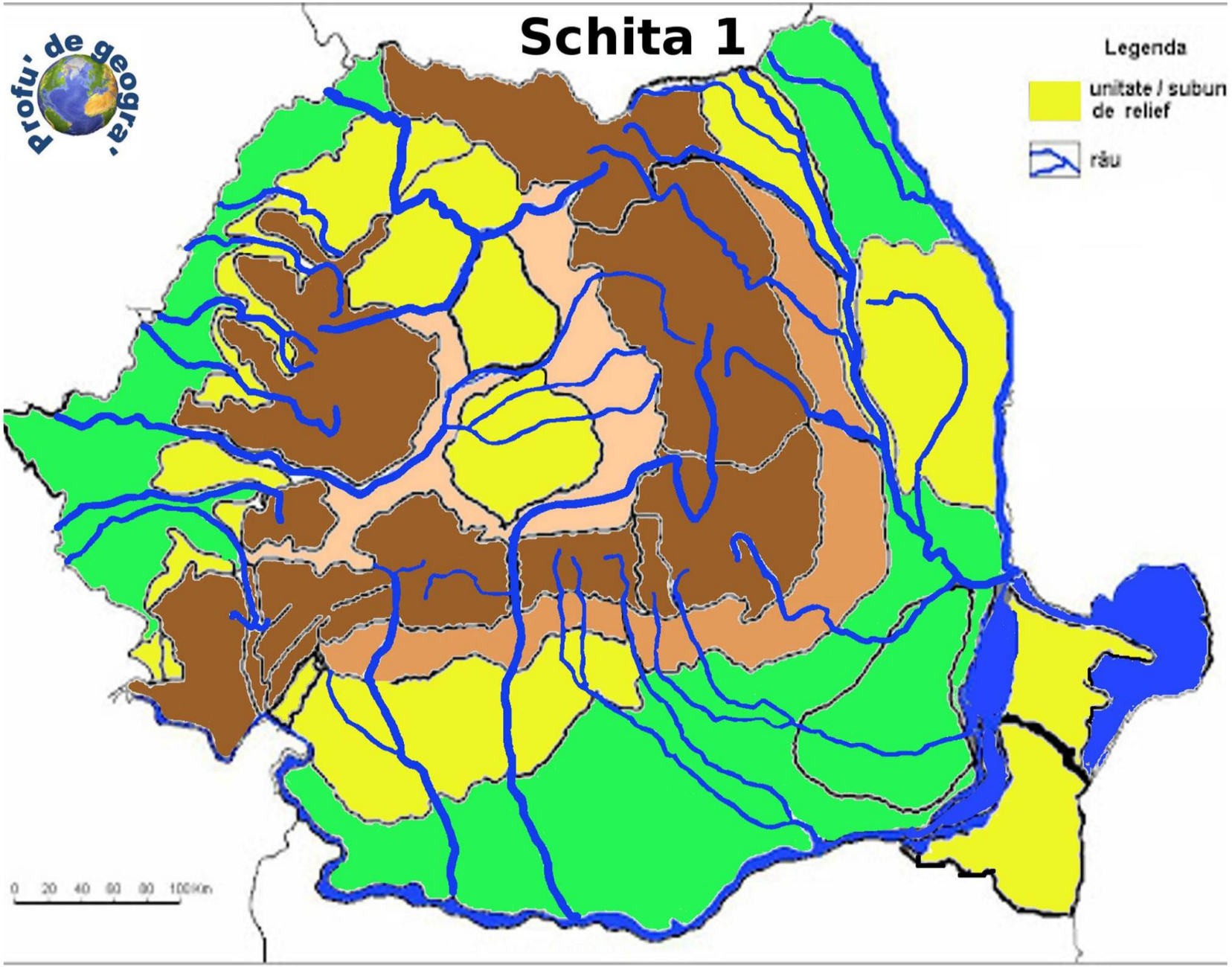

www.profudegeogra.eu

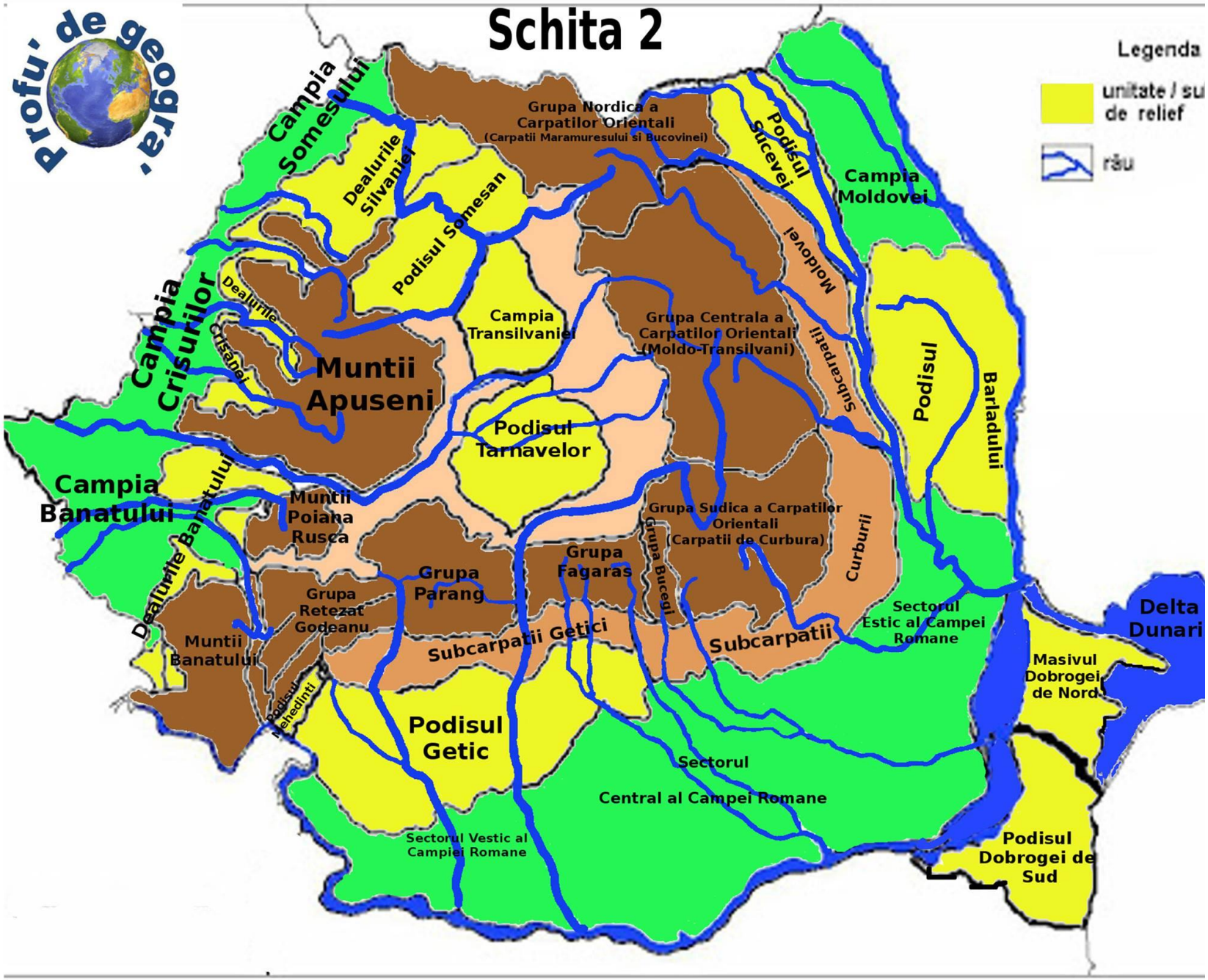
Schita 2
profu' de geogra
Legenda
unitate / su
de relief
râu
Campia Somesului
Grupa Nordica a Carpatilor Orientali
(Carpatii Maramuresului si Bucovinei)
Podisul Sucevei
Campia Moldovei
Dealurile Silvaniei
Podisul Somesan
Moldovei
Campia Crisurilor
Dealurile Crisanei
Campia Transilvaniei
Grupa Centrala a Carpatilor Orientali (Moldo-Transilvani)
Subcarpatii
Podisul
Barladului
Muntii Apuseni
Podisul Tarnavelor
Campia Banatului
Dealurile Banatului
Muntii Poiana Rusca
Grupa Sudica a Carpatilor Orientali (Carpatii de Curbura)
Grupa Bucegi
Curburii
Grupa Fagaras
Grupa Parang
Grupa Retezat Godeanu
Subcarpatii Getici
Subcarpatii
Sectorul Estic al Campei Romane
Delta Dunari
Muntii Banatului
Podisul Mehedinti
Masivul Dobrogei de Nord
Podisul Getic
Sectorul Central al Campei Romane
Sectorul Vestic al Campiei Romane
Podisul Dobrogei de Sud

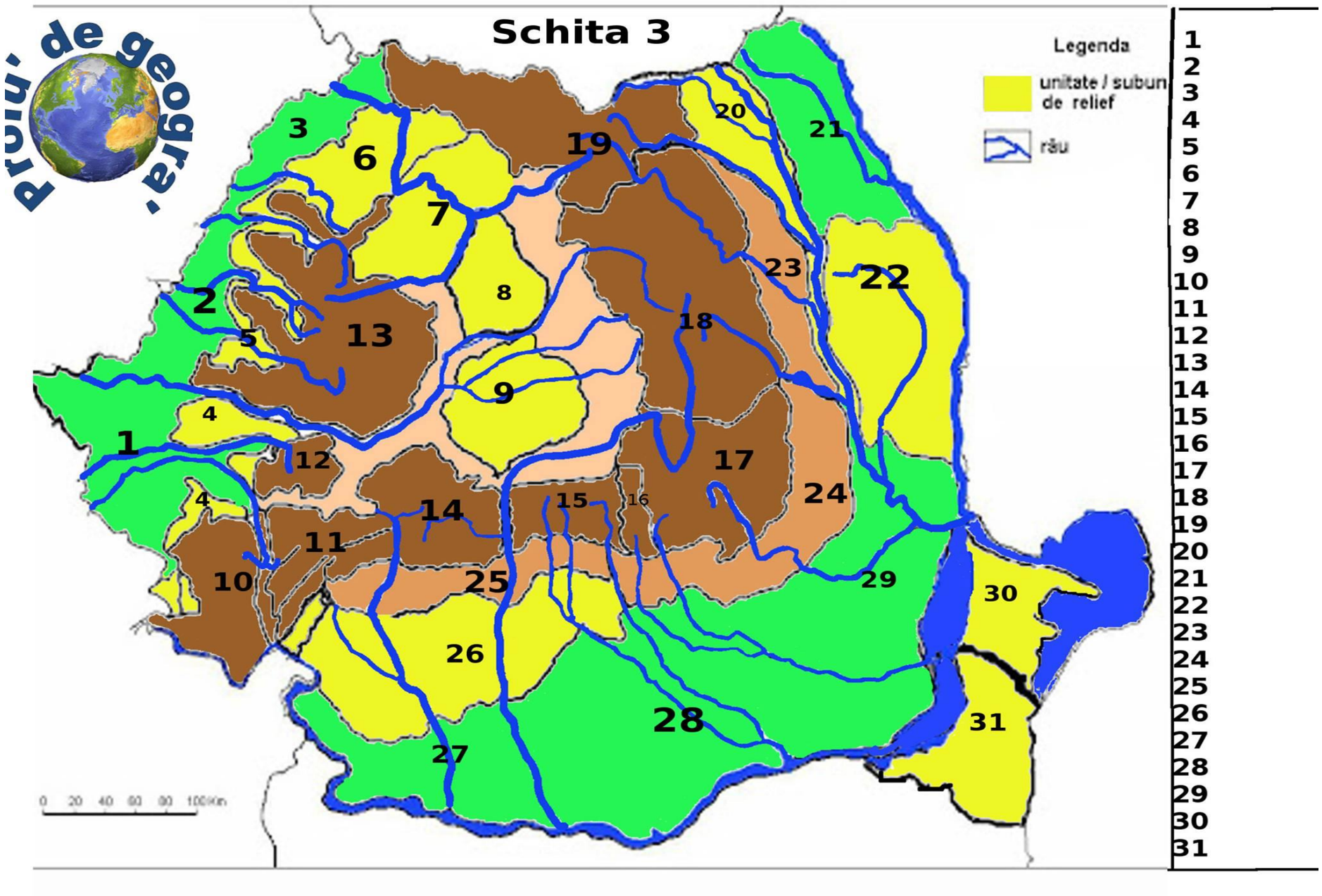
Schita 3
Legenda
unitate / subun de relief
râu
0 20 40 60 80 100Km
1
2
3
4
5
6
7
8
9
10
11
12
13
14
15
16
17
18
19
20
21
22
23
24
25
26
27
28
29
30
31

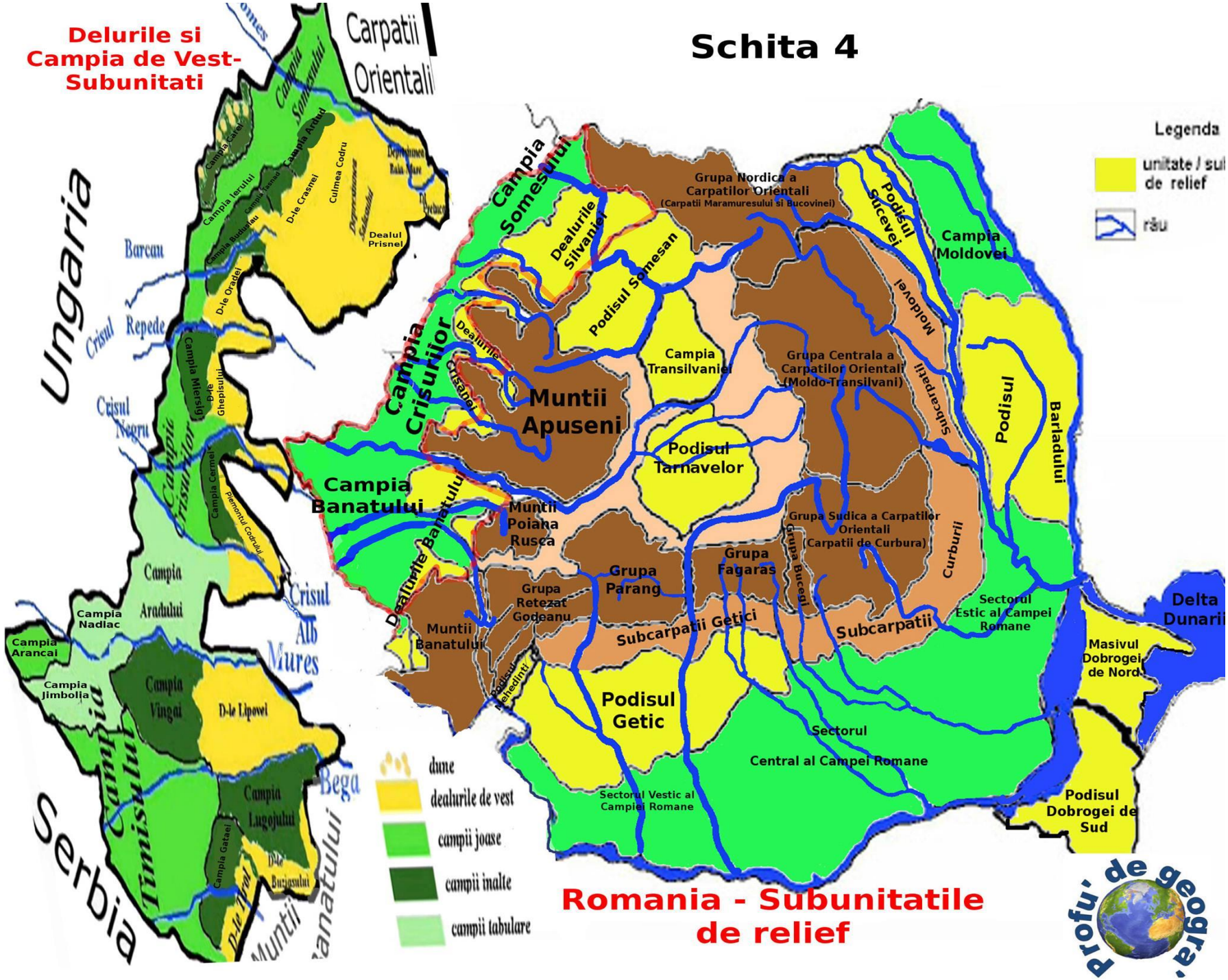
Delurile si Campia de Vest- Subunitati
Schita 4
Carpatii Orientali
Ungaria
Serbia
Barcau
Crisul Repede
Crisul Negru
Crisul Alb
Mures
Bega
Campia Somesului
Campia Crisurilor
Campia Banatului
Campia Transilvaniei
Campia Moldovei
Campia Aradului
Campia Timisului
Campia Lugojului
Campia Vingai
Campia Nadlac
Campia Arancai
Campia Jimbolia
Campia Miersig
Campia Cermei
Campia Carei
Campia Ierului
Campia Ardud
Campia Someseni
Campia Badurlau
Campia Gataei
D-le Oradei
D-le Ghepisului
D-le Crasnei
D-le Lipovei
D-le Bujoiului
Culmea Codru
Depresiunea Baia Mare
Depresiunea Sebesului
Dealul Prisnel
Piemontul Codrului
Dealurile Crisanei
Dealurile Banatului
Dealurile Silvaniei
Podisul Somesan
Muntii Apuseni
Podisul Tarnavelor
Muntii Poiana Rusca
Muntii Banatului
Podisul Mehedinti
Grupa Nordica a Carpatilor Orientali (Carpatii Maramuresului si Bucovinei)
Grupa Centrala a Carpatilor Orientali (Moldo-Transilvani)
Grupa Sudica a Carpatilor Orientali (Carpatii de Curbura)
Grupa Retezat Godeanu
Grupa Parang
Grupa Fagaras
Grupa Bucegi
Podisul Sucevei
Moldovei
Subcarpatii
Podisul
Barladului
Curburii
Subcarpatii Getici
Podisul Getic
Sectorul Estic al Campiei Romane
Sectorul Central al Campiei Romane
Sectorul Vestic al Campiei Romane
Masivul Dobrogei de Nord
Podisul Dobrogei de Sud
Delta Dunarii
dune
dealurile de vest
campii joase
campii inalte
campii tabulare
Legenda
unitate / sub de relief
rau
Romania - Subunitatile de relief
Profu' de geogra.

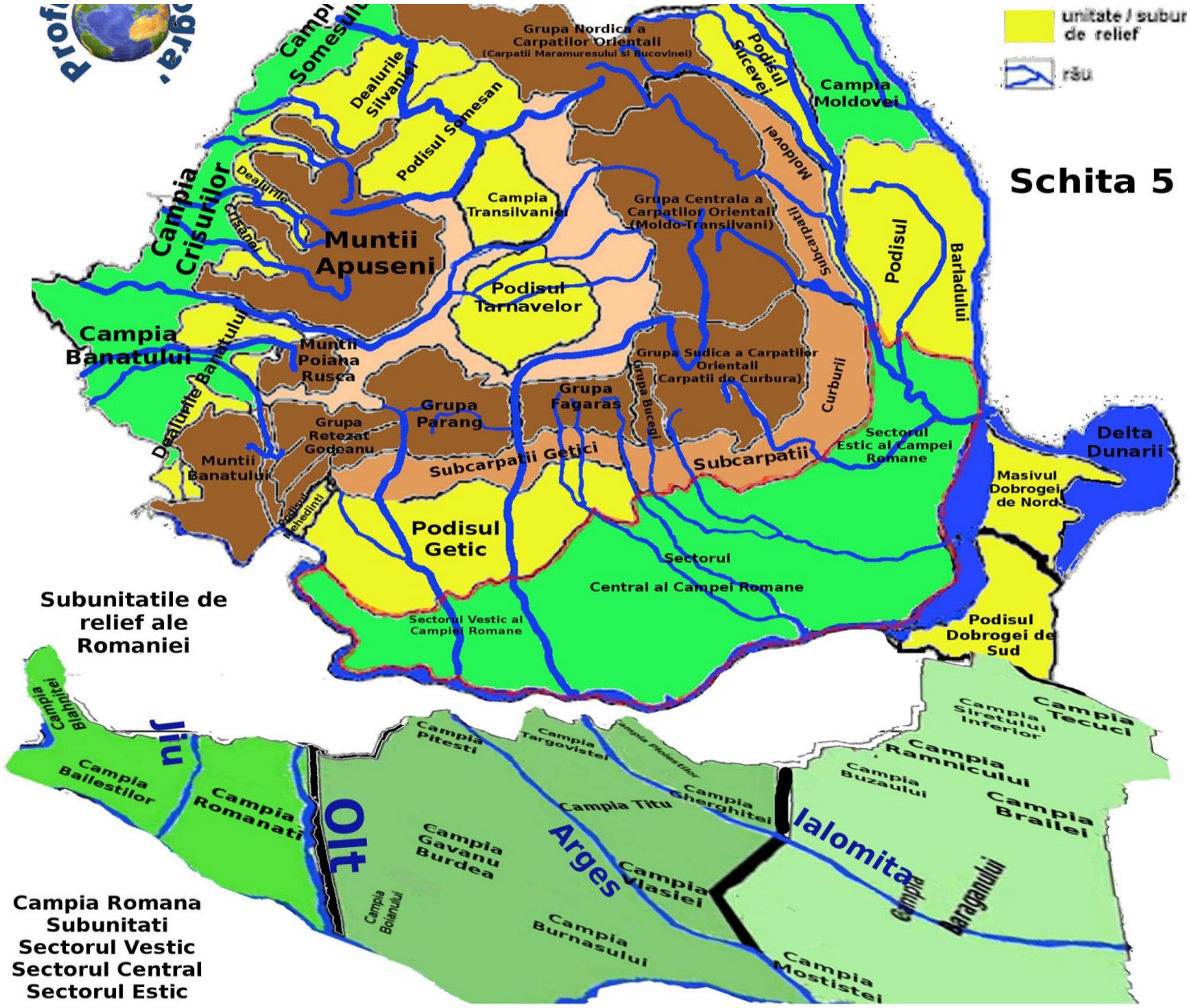

www.profudegeogra.eu

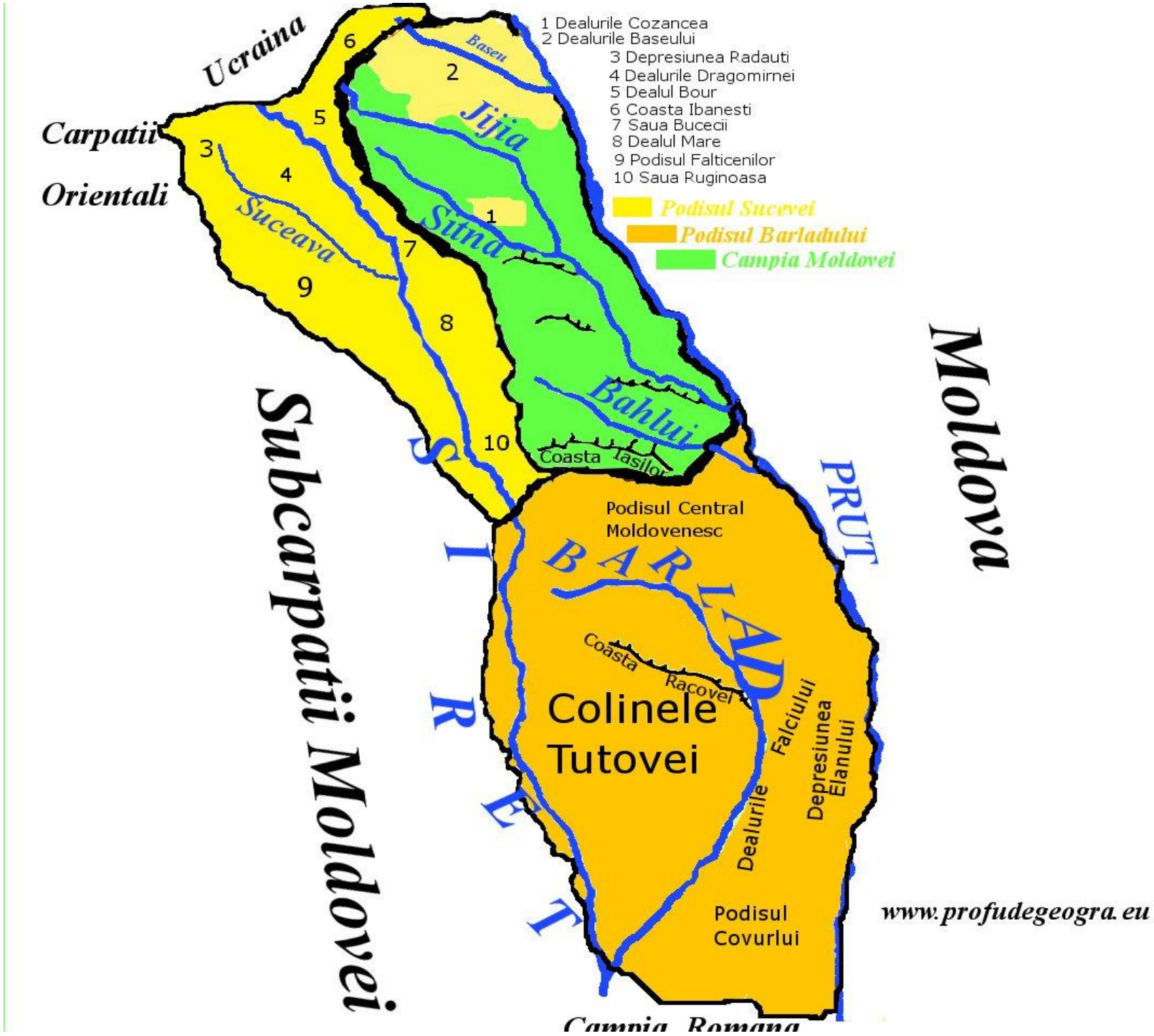
Ucraina
Carpatii Orientali
Subcarpatii Moldovei
Moldova
Campia Romana
1 Dealurile Cozancea
2 Dealurile Baseului
3 Depresiunea Radauti
4 Dealurile Dragomirnei
5 Dealul Bour
6 Coasta Ibanesti
7 Saua Bucecii
8 Dealul Mare
9 Podisul Falticenilor
10 Saua Ruginoasa
Podisul Sucevei
Podisul Barladului
Campia Moldovei
Baseu
Jijia
Sitna
Suceava
Bahlui
Coasta Tasilor
SIRET
PRUT
Podisul Central Moldovenesc
BARLAD
Coasta Racovei
Colinele Tutovei
Falciului
Depresiunea Elanului
Dealurile
Podisul Covurlui
www.profudegeogra.eu

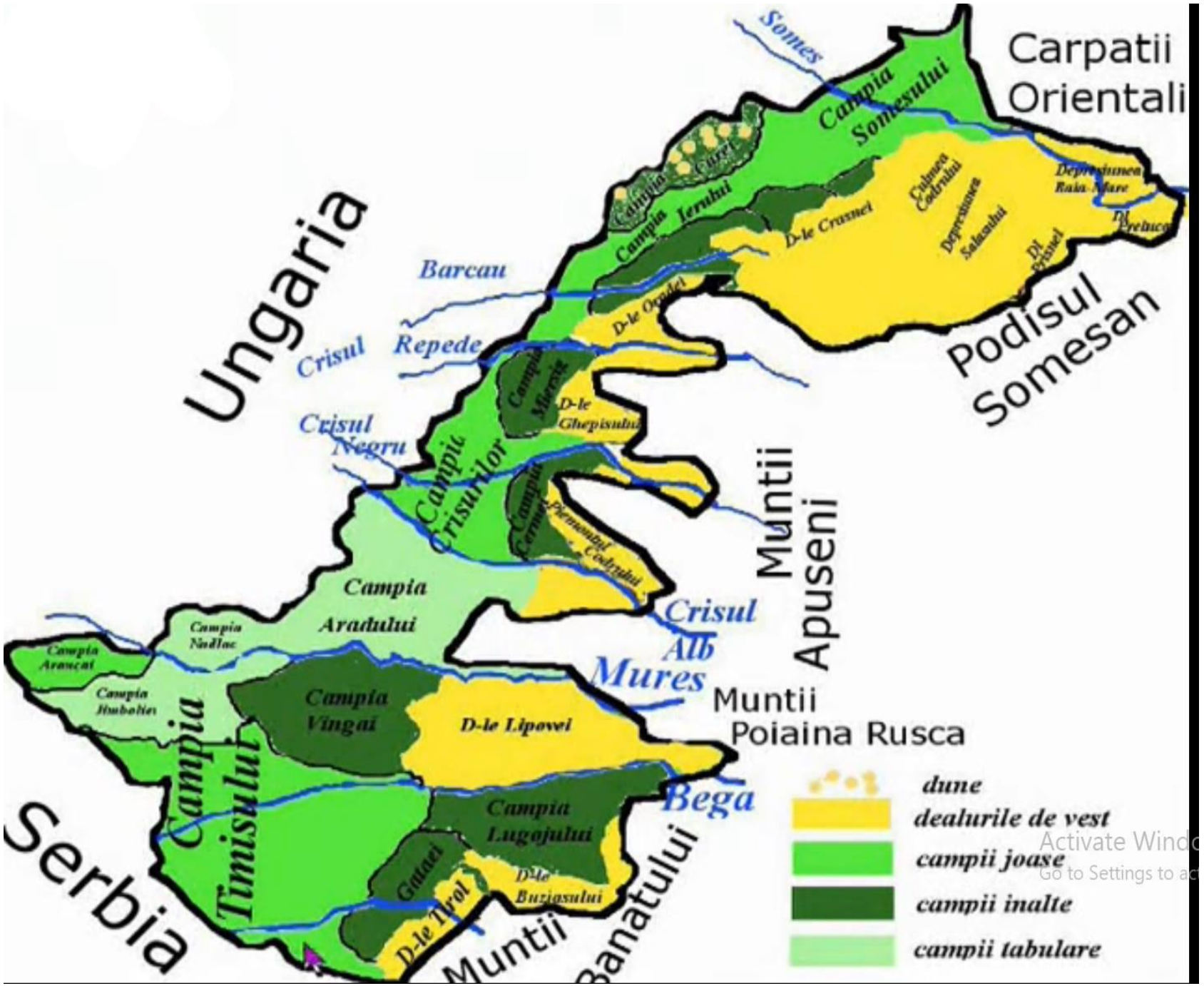
Carpatii Orientali
Somes
Campia Somesului
Ungaria
Barcau
Crisul Repede
Crisul Negru
Campia Ierului
D-le Crasnei
Podisul Somesan
Campia Crisurilor
D-le Ghepisului
Muntii Apuseni
Campia Aradului
Crisul Alb
Mures
Muntii Poiaina Rusca
Campia Vingai
D-le Lipovei
Campia Timisului
Campia Lugojului
Bega
Serbia
Muntii Banatului
dune
dealurile de vest
campii joase
campii inalte
campii tabulare

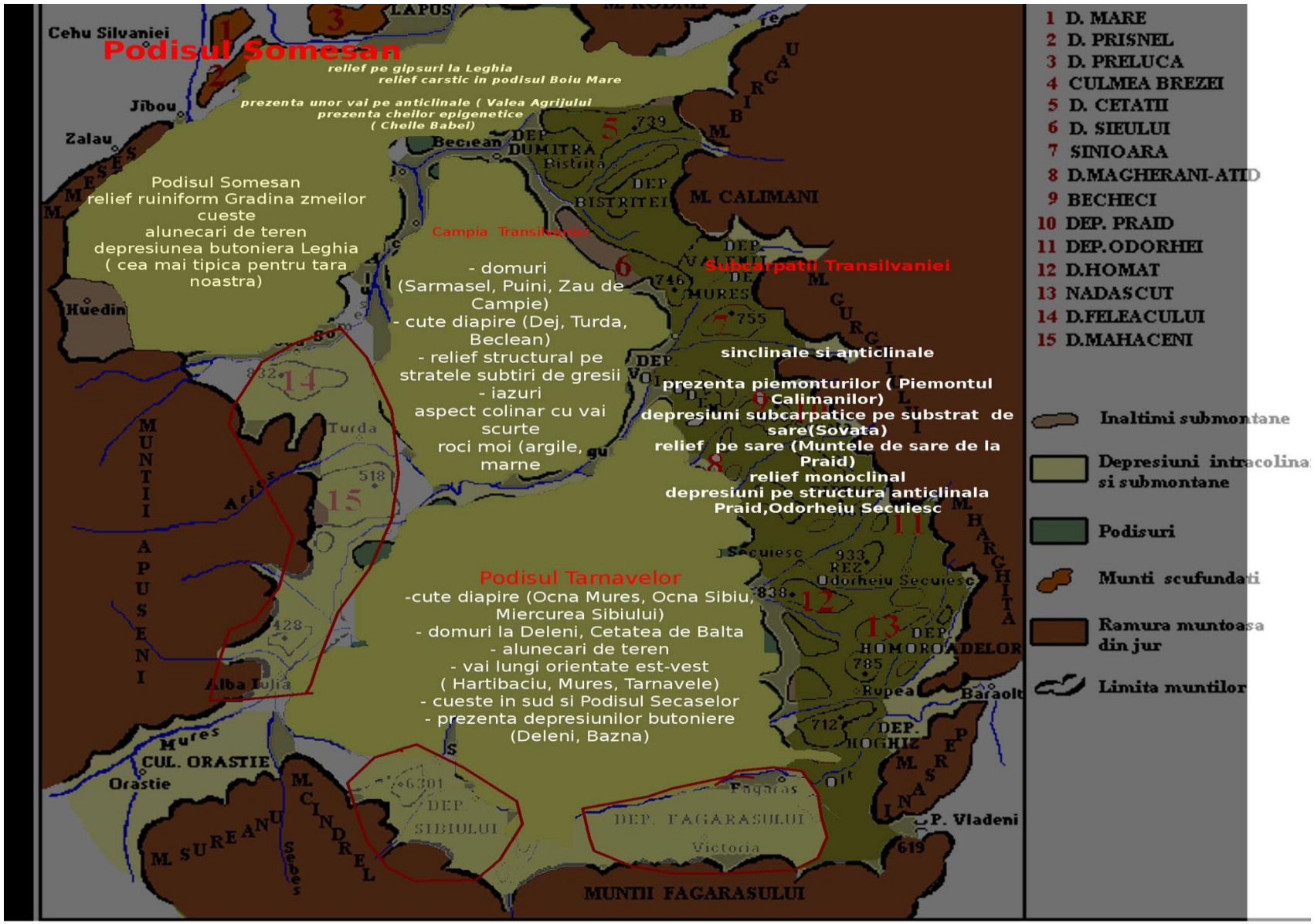

www.profudegeogra.eu

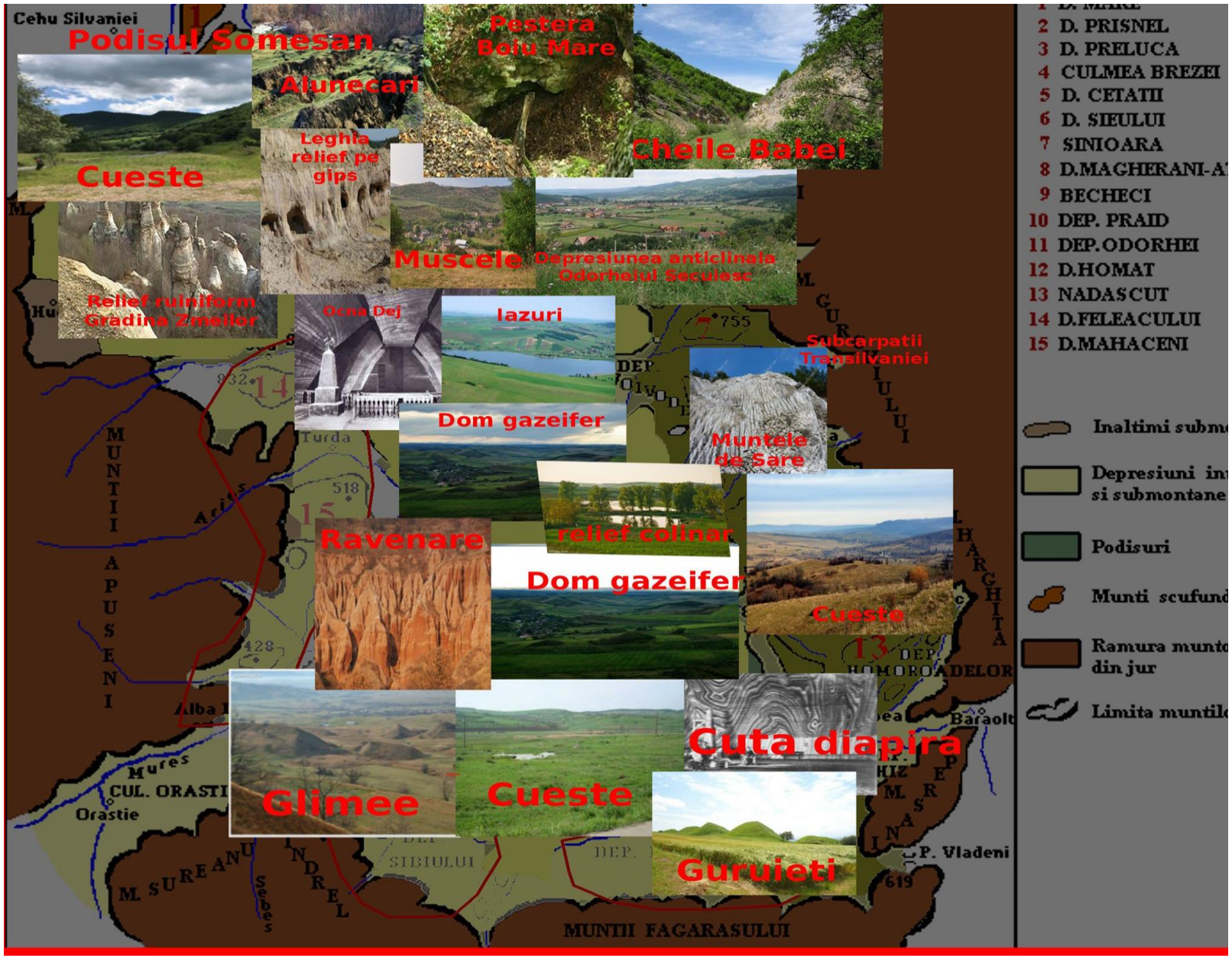

www.profudegeogra.eu

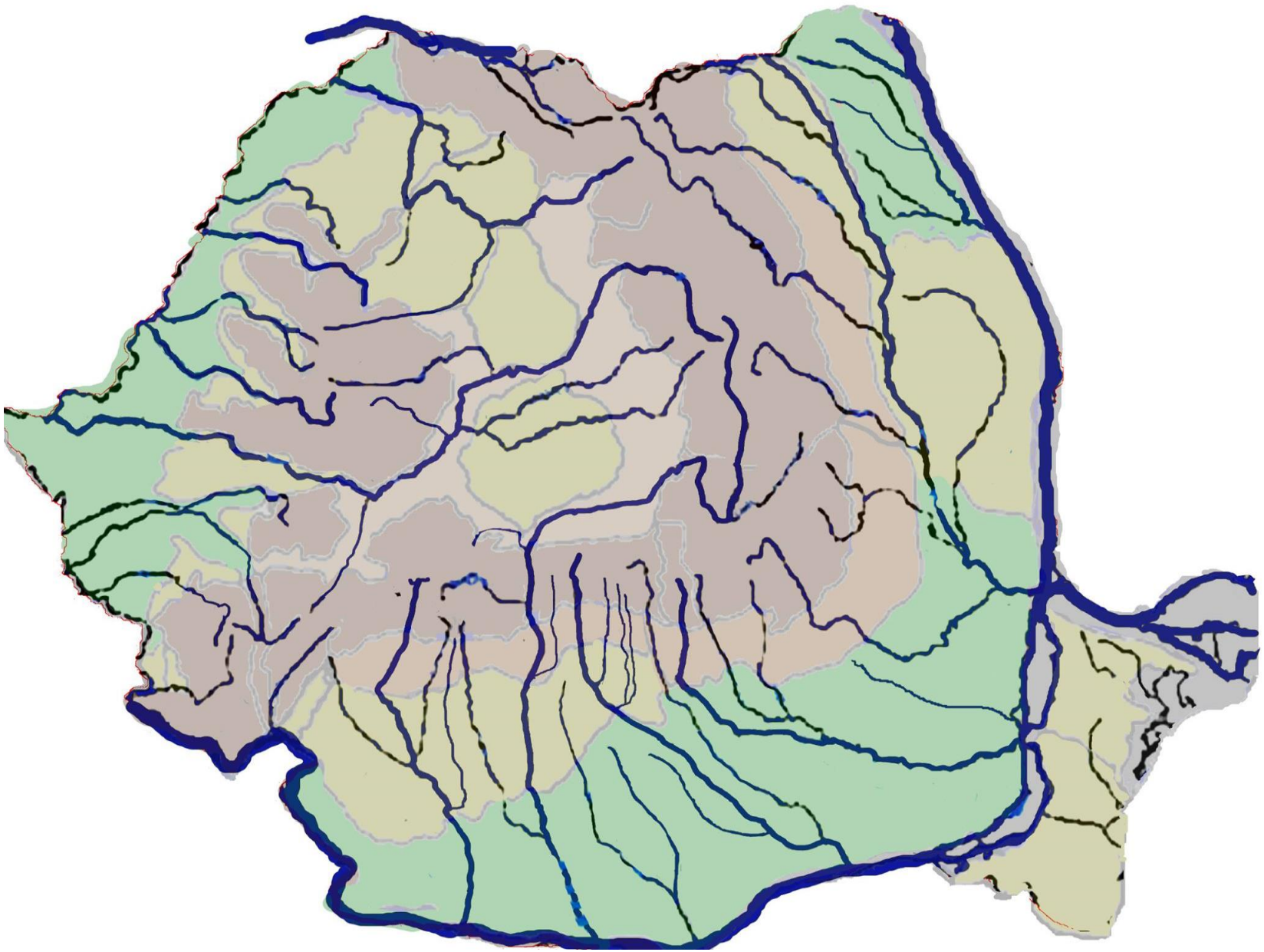

www.profudegeogra.eu

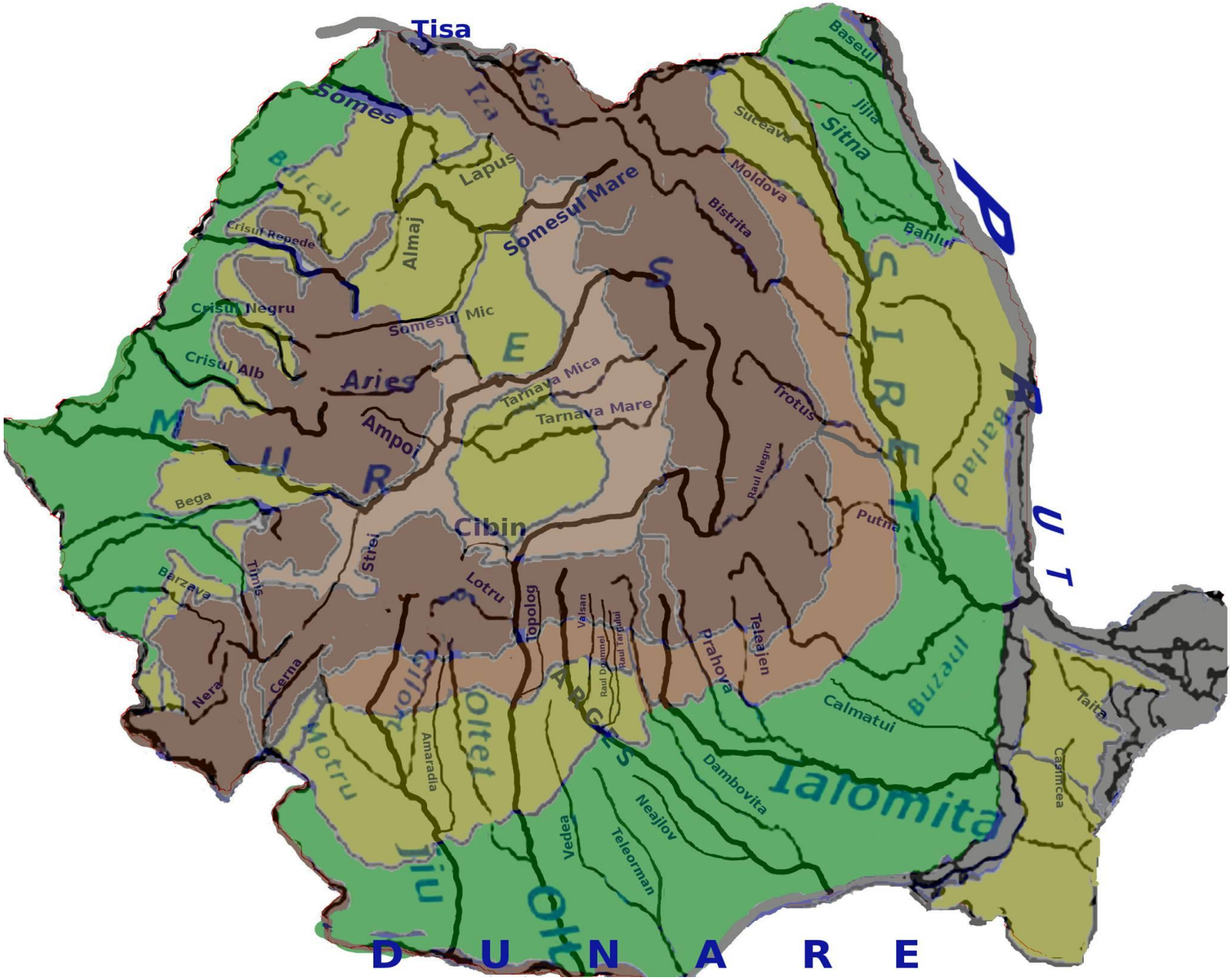
Tisa
Somes
Iza
Visea
Baseul
Jijia
Sitna
Suceava
Moldova
Bistrita
Bahlui
Barcau
Lapus
Somesul Mare
Crisul Repede
Almaj
Crisul Negru
Somesul Mic
Crisul Alb
Aries
Tarnava Mica
Tarnava Mare
Ampoi
Trotus
Raul Negru
Barlad
Putna
Bega
Cibin
Strei
Barzava
Timis
Lotru
Topolog
Valsan
Raul Doamnei
Raul Targului
Prahova
Teleajen
Buzaul
Calmatui
Taita
Casimcea
Nera
Cerna
Motru
Amaradia
Oltet
Dambovita
Ialomita
Neajlov
Teleorman
Vedea
Jiu
Olt
D U N A R E

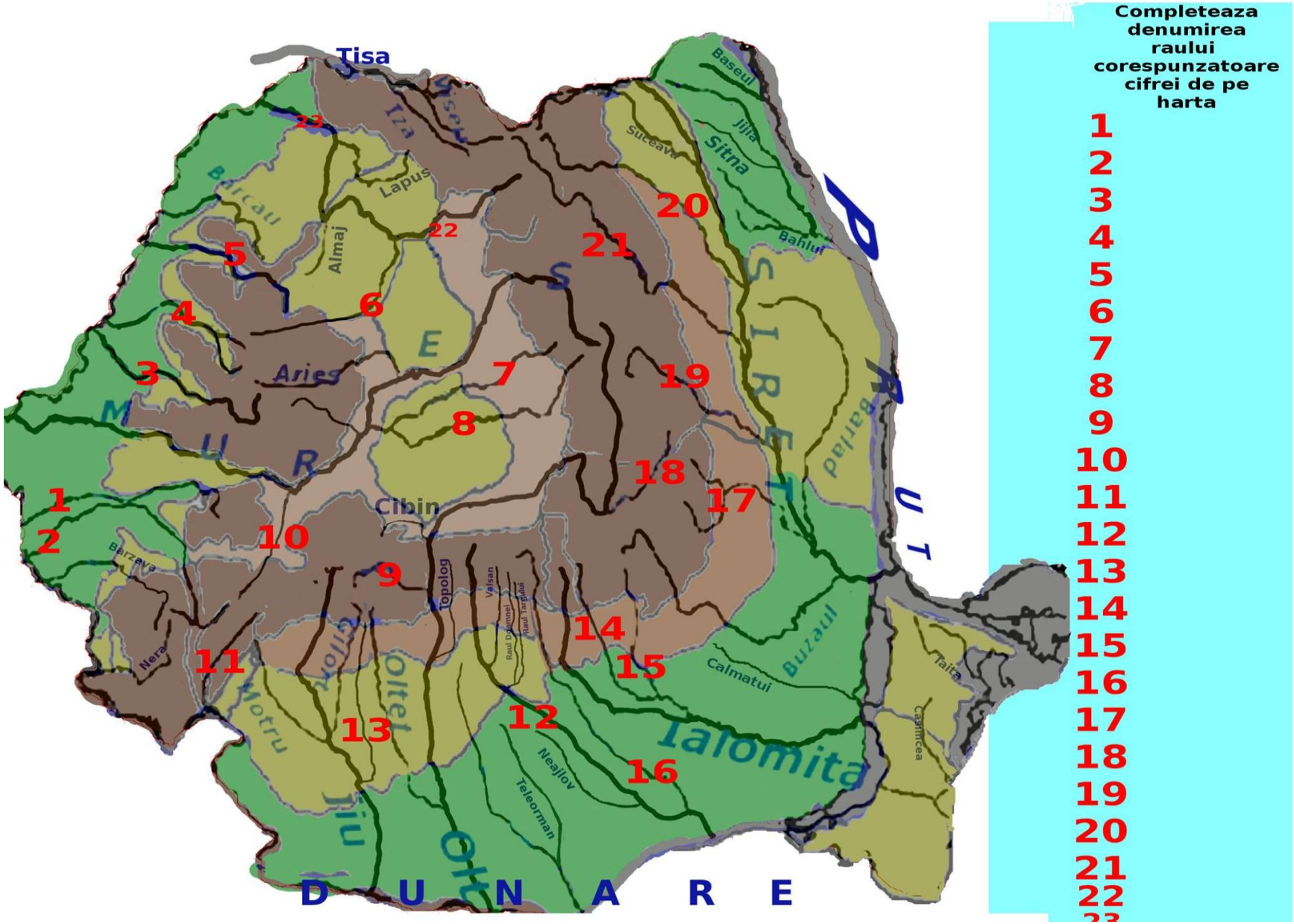

www.profudegeogra.eu

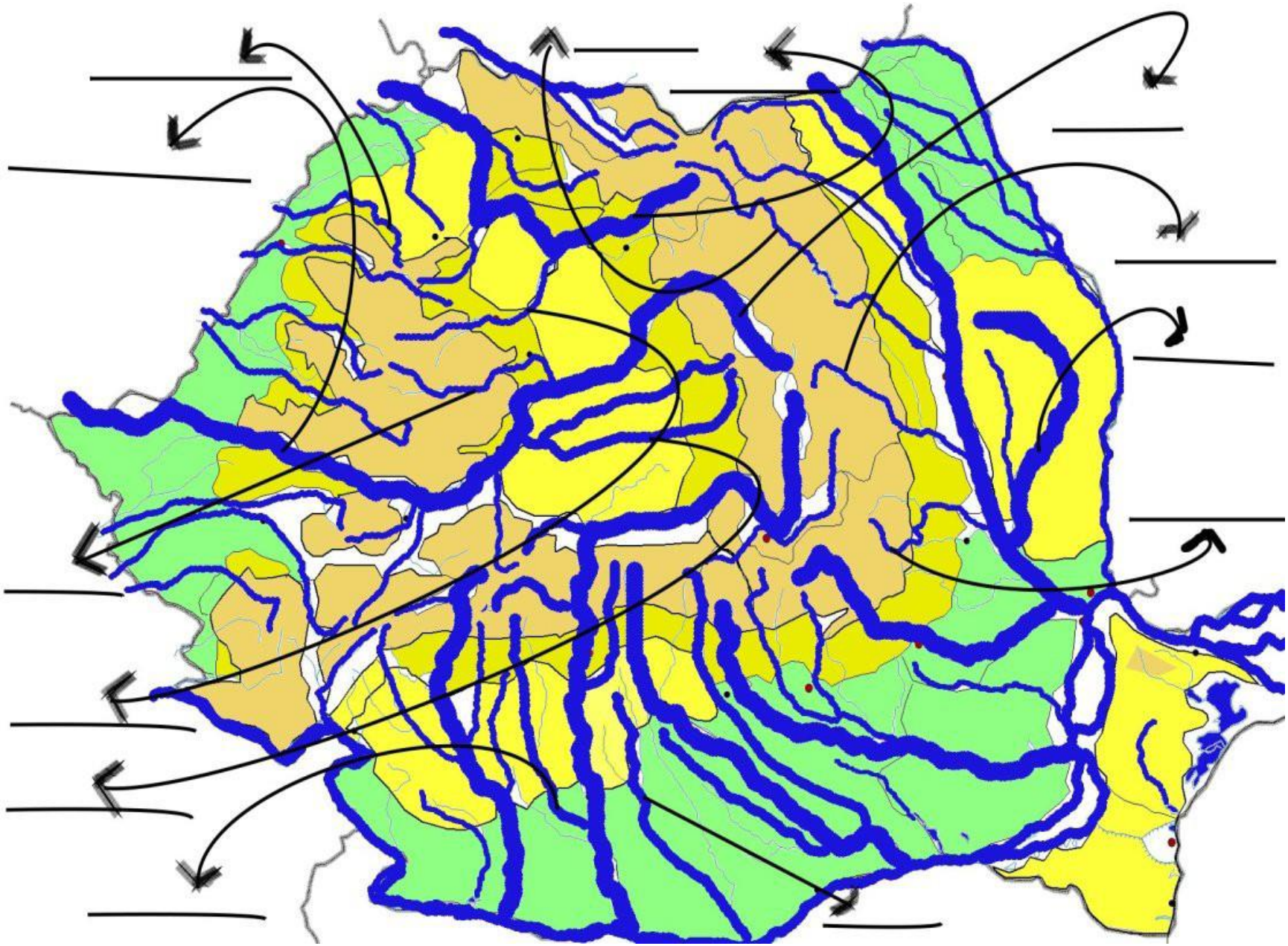

www.profudegeogra.eu

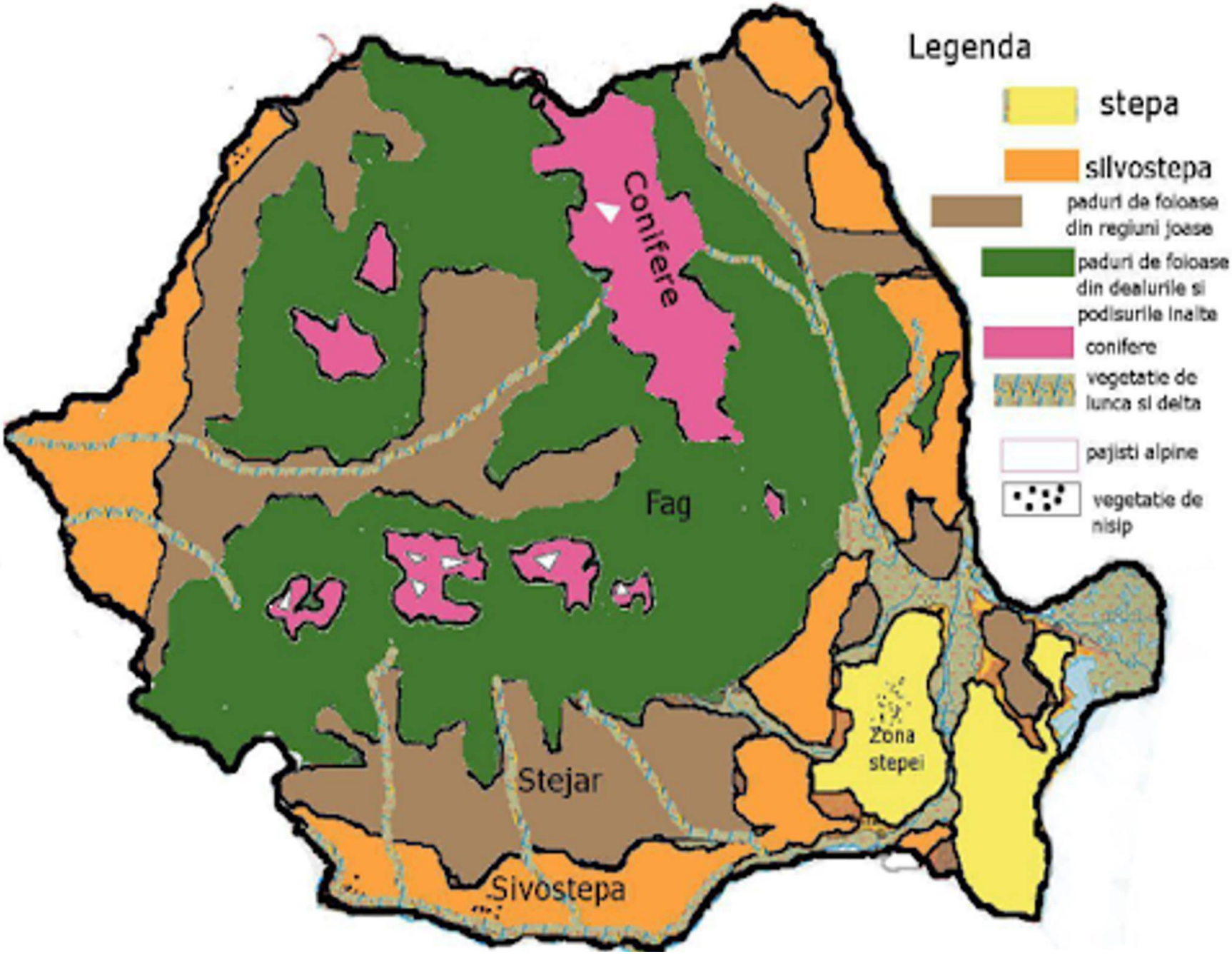
Legenda
stepa
silvostepa
paduri de foioase din regiuni joase
paduri de foioase din dealurile si podisurile inalte
conifere
vegetatie de lunca si delta
pajisti alpine
vegetatie de nisip
Conifere
Fag
Stejar
Sivostepa
Zona stepei

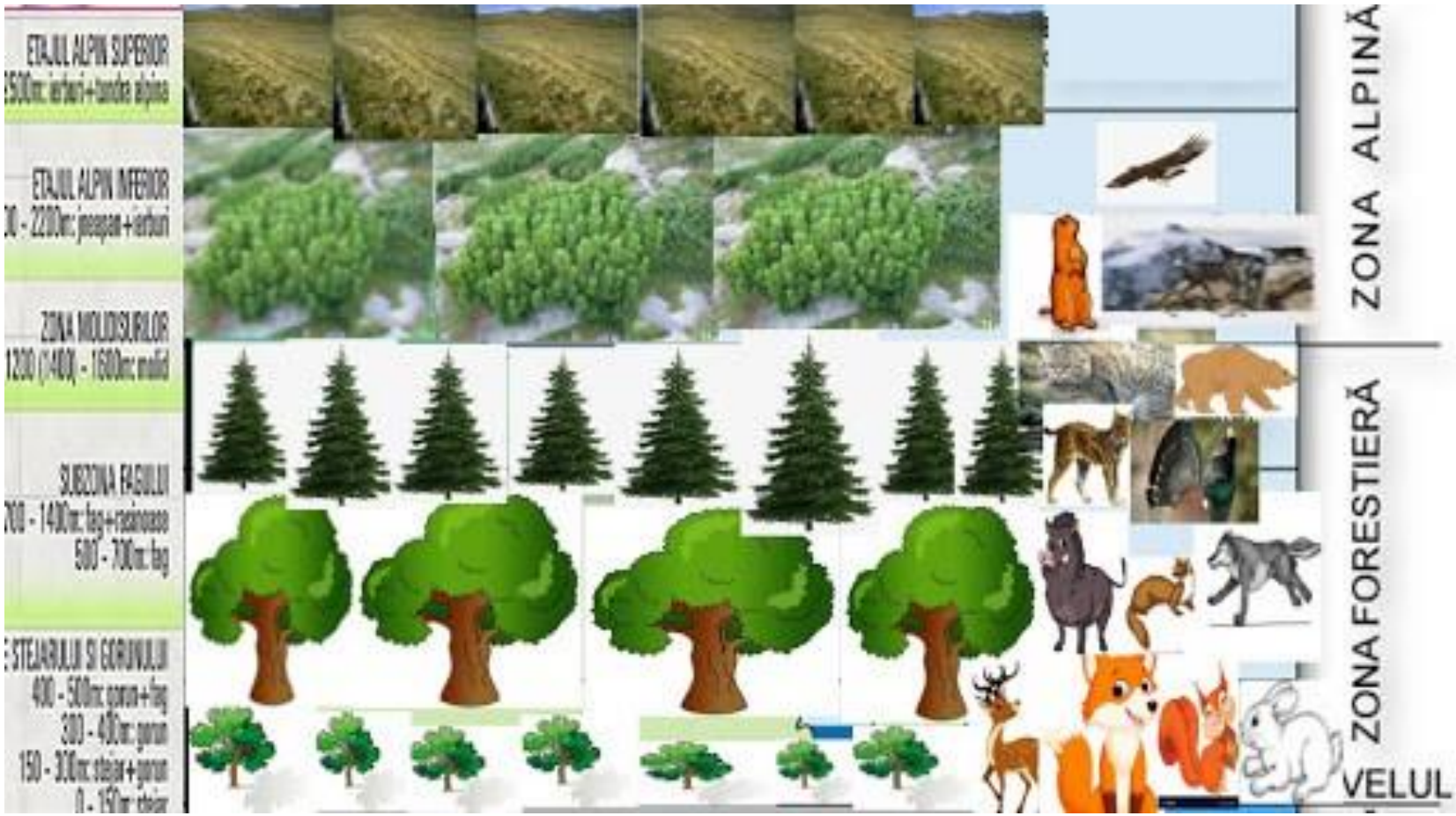

www.profudegeogra.eu

Colorati in casuta din dreptul plantei folosind culoarea potrivita zonei in care aceasta traieste(ex: in dreptul bradului colorati cu roz)

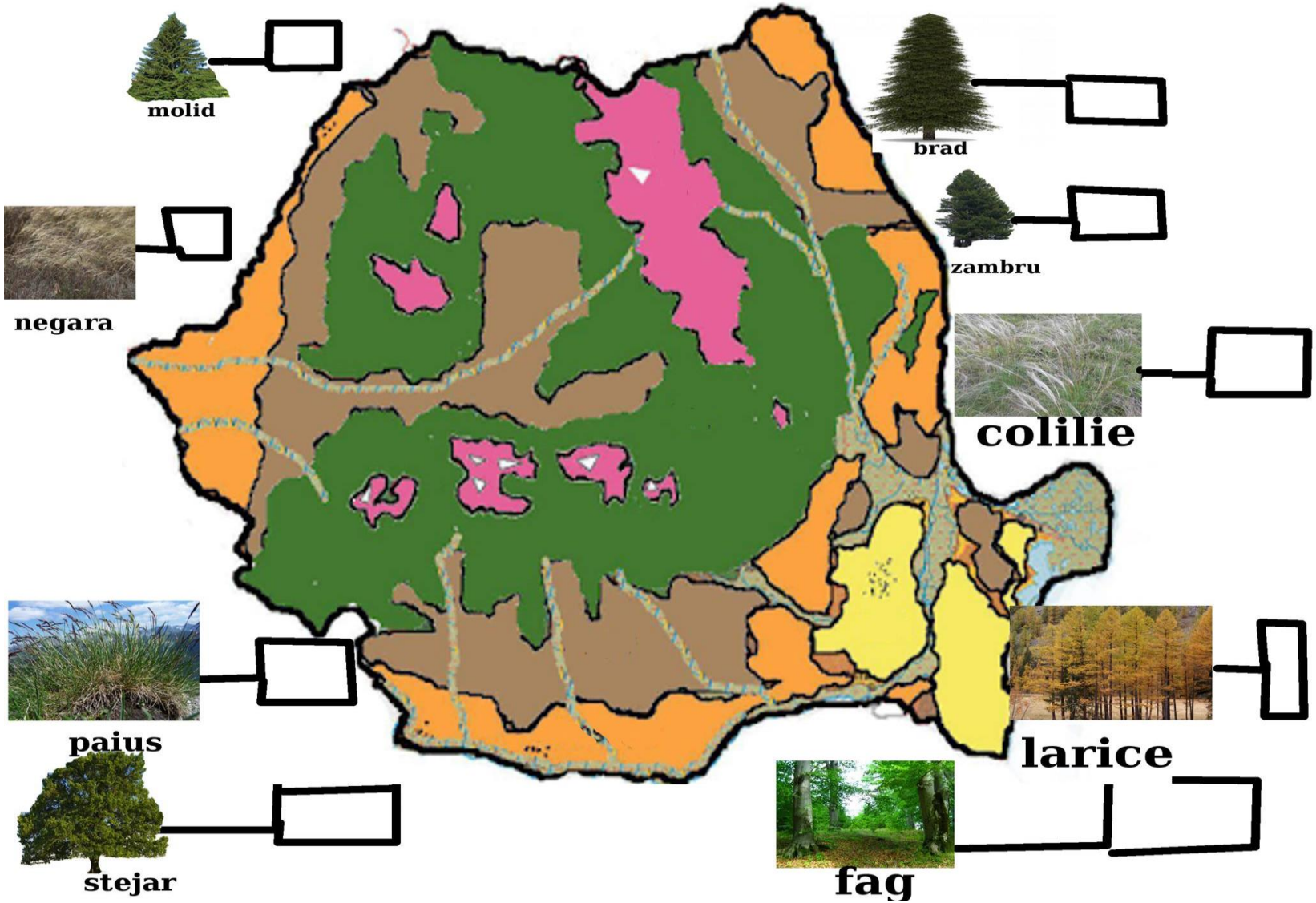

www.profudegeogra.eu

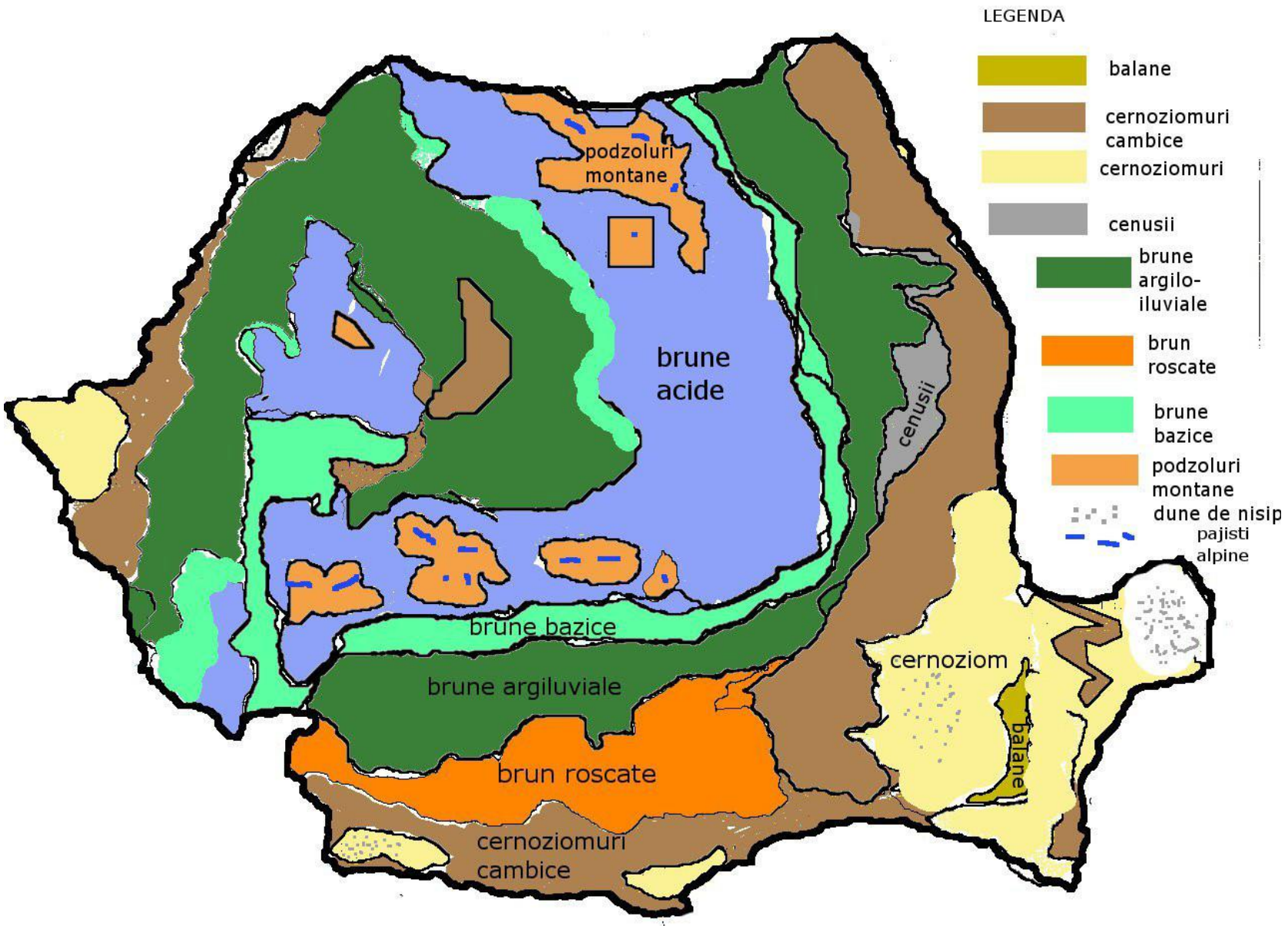

www.profudegeogra.eu

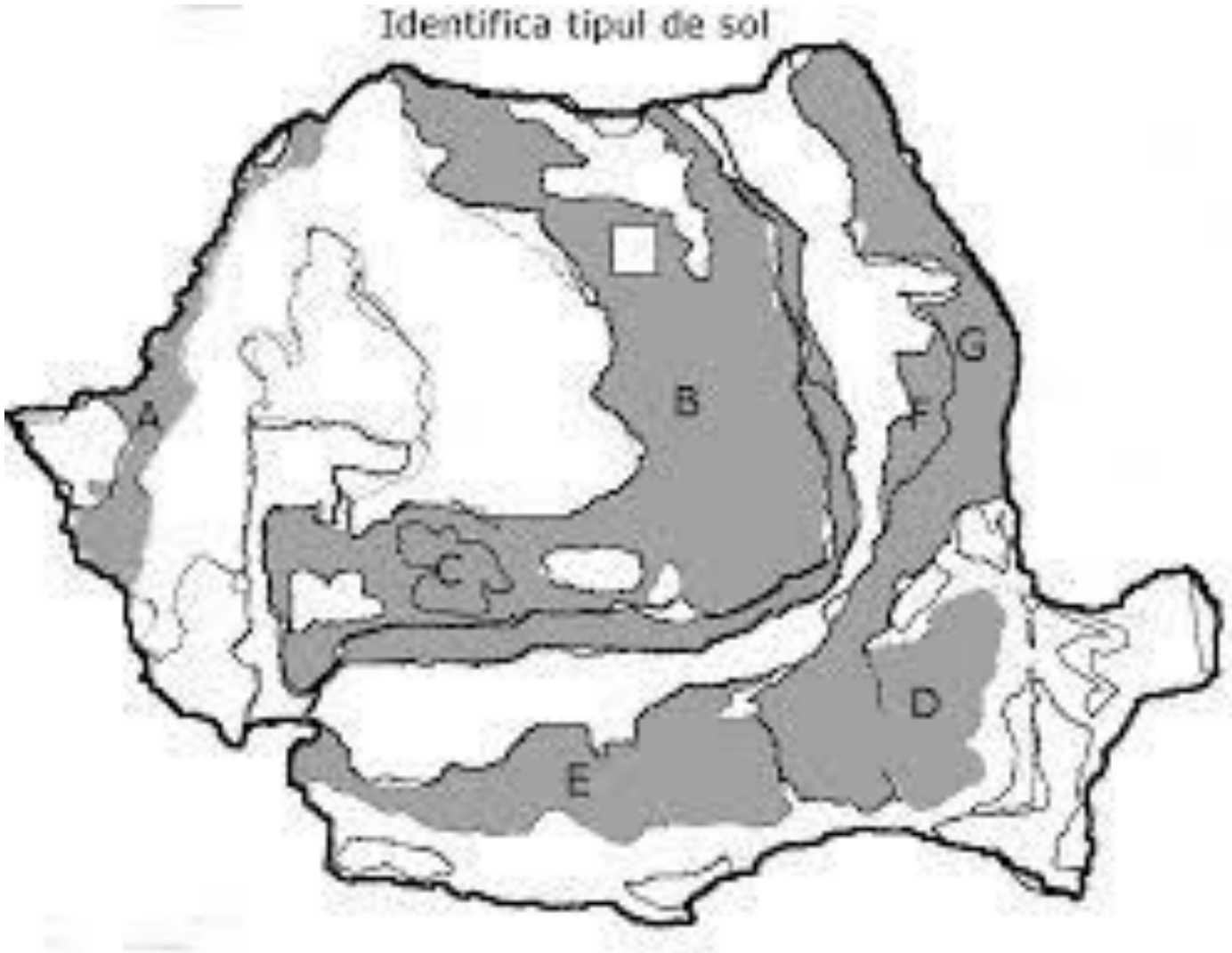

www.profudegeogra.eu

1

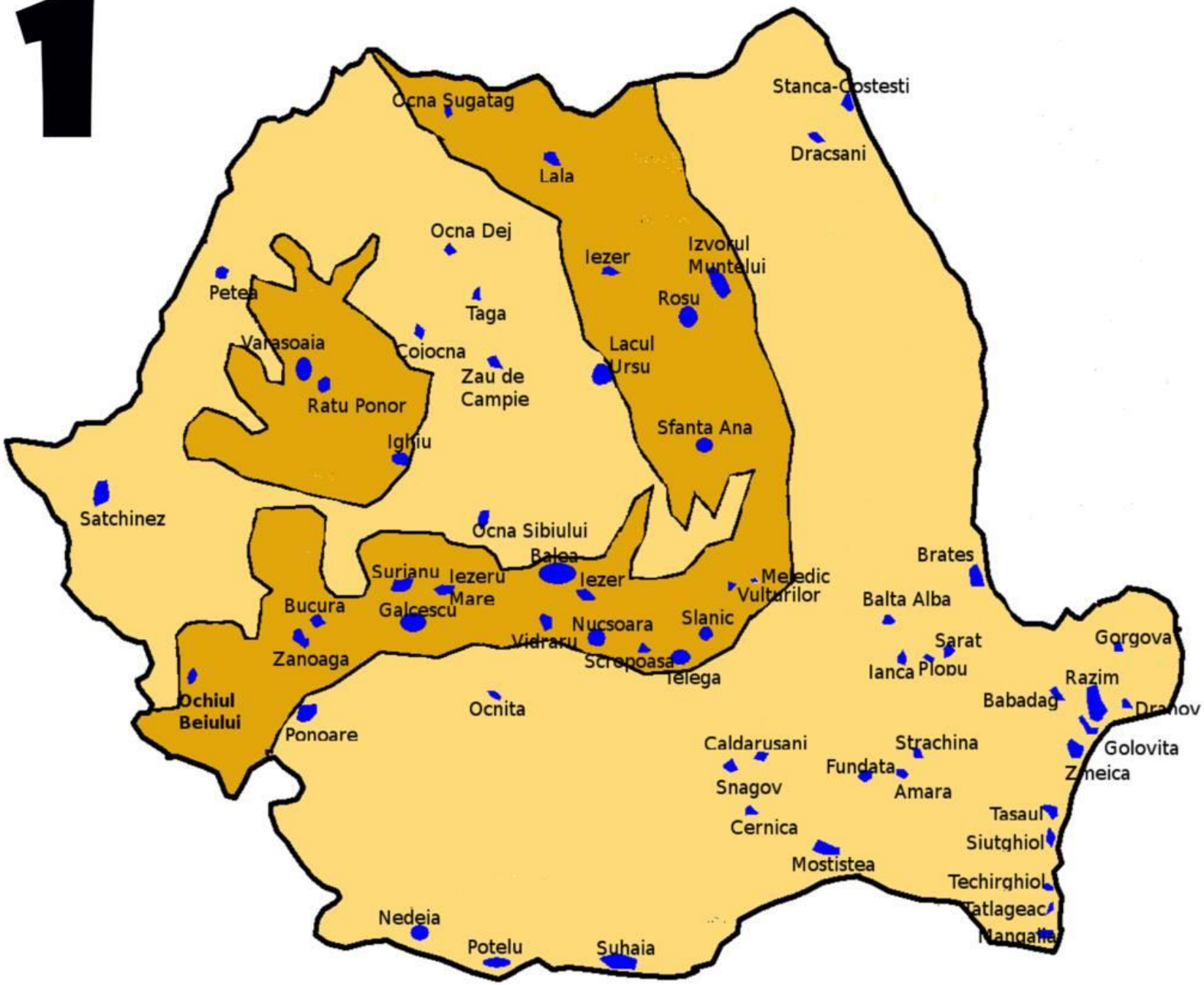
Ocna Sugatag
Stanca-Costesti
Dracsani
Lala
Ocna Dej
Izvorul Muntelui
Iezer
Petea
Rosu
Taga
Varasoaia
Coiocna
Lacul Ursu
Zau de Campie
Ratu Ponor
Sfanta Ana
Ighiu
Satchinez
Ocna Sibiului
Baloa
Brates
Surianu
Iezeru Mare
Iezer
Meledic
Vulturilor
Balta Alba
Bucura
Galcescu
Slanic
Nucsoara
Sarat
Gorgova
Vidraru
Zanoaga
Scropoasa
Ianca
Plopu
Telega
Razim
Babadag
Ochiul Beiului
Ocnita
Ponoare
Caldarusani
Strachina
Golovita
Fundata
Zmeica
Snagov
Amara
Tasaul
Cernica
Siutghiol
Mostistea
Techirghiol
Tatlageac
Nedeia
Potelu
Suhaia

2

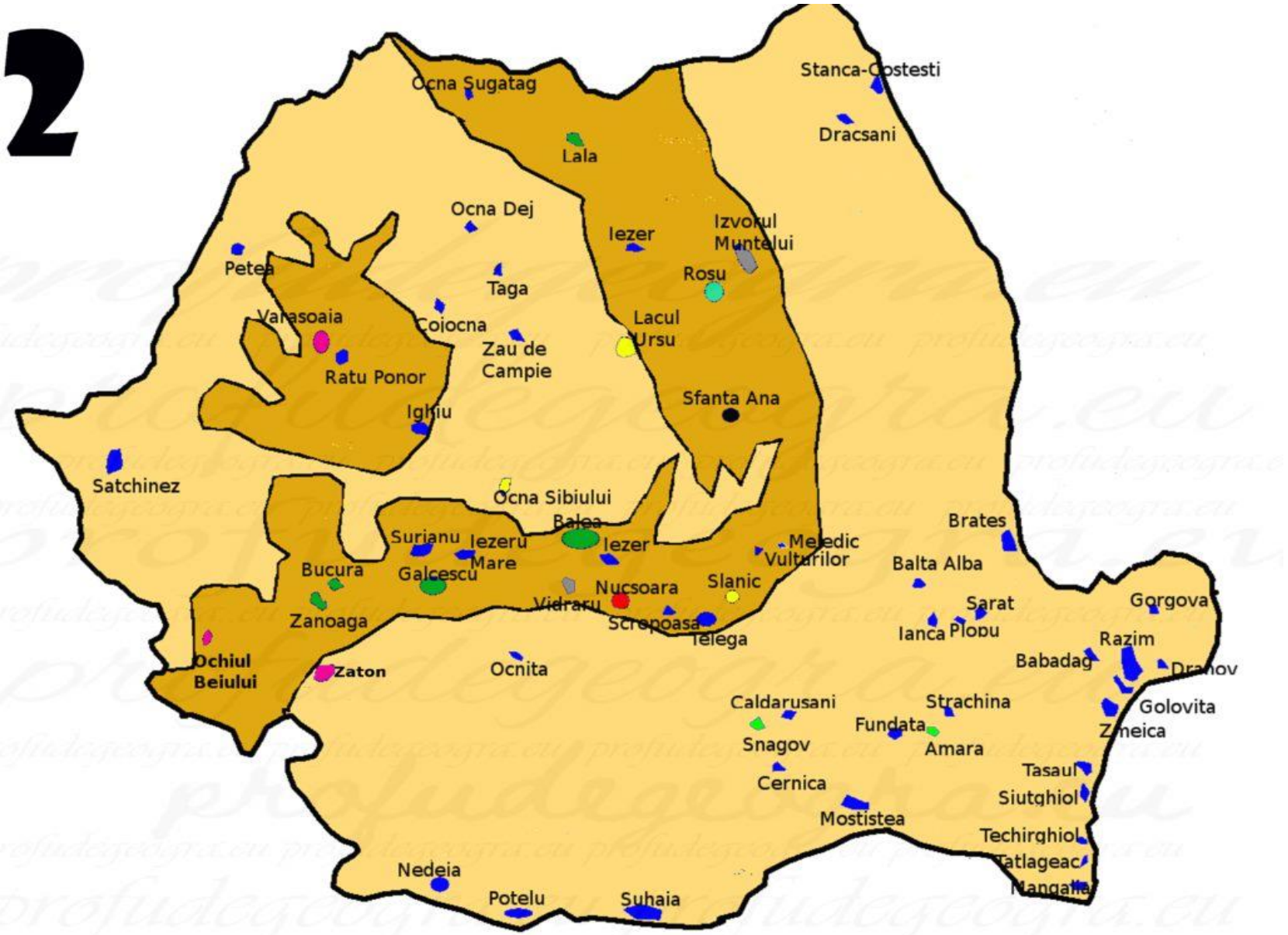
Ocna Sugatag
Stanca-Costesti
Dracsani
Lala
Ocna Dej
Izvorul Muntelui
Iezer
Petea
Rosu
Taga
Varasoaia
Cojocna
Lacul Ursu
Zau de Campie
Ratu Ponor
Sfanta Ana
Ighiu
Satchinez
Ocna Sibiului
Balea
Brates
Surianu
Iezeru Mare
Iezer
Meledic
Vulturilor
Bucura
Galcescu
Balta Alba
Slanic
Nucsoara
Sarat
Gorgova
Vidraru
Zanoaga
Screpoasa
Ianca
Plopu
Telega
Razim
Ochiul Beiului
Zaton
Ocnita
Babadag
Dranov
Caldarusani
Strachina
Golovita
Fundata
Zmeica
Snagov
Amara
Tasaul
Cernica
Siutghiol
Mostistea
Techirghiol
Tatlageac
Mangalia
Nedeia
Potelu
Suhaia
liman fluviatil
lac format in depresiune carstica
lacuri in masive de sare
lac de baraj natural
lac carstic format pe gips
lac de origine vulcanica
lacuri glaciare
lac de baraj artificial

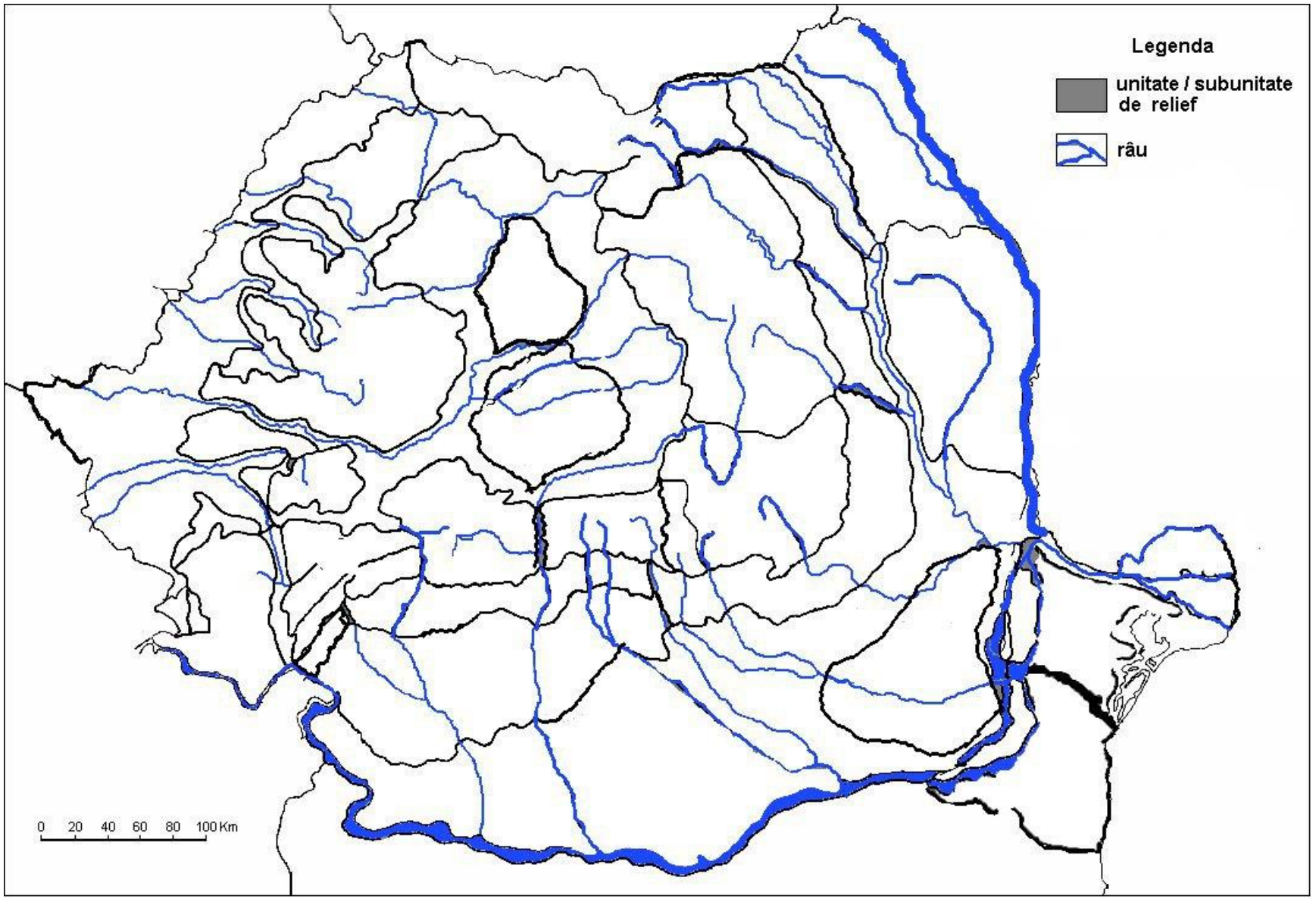

www.profudegeogra.eu

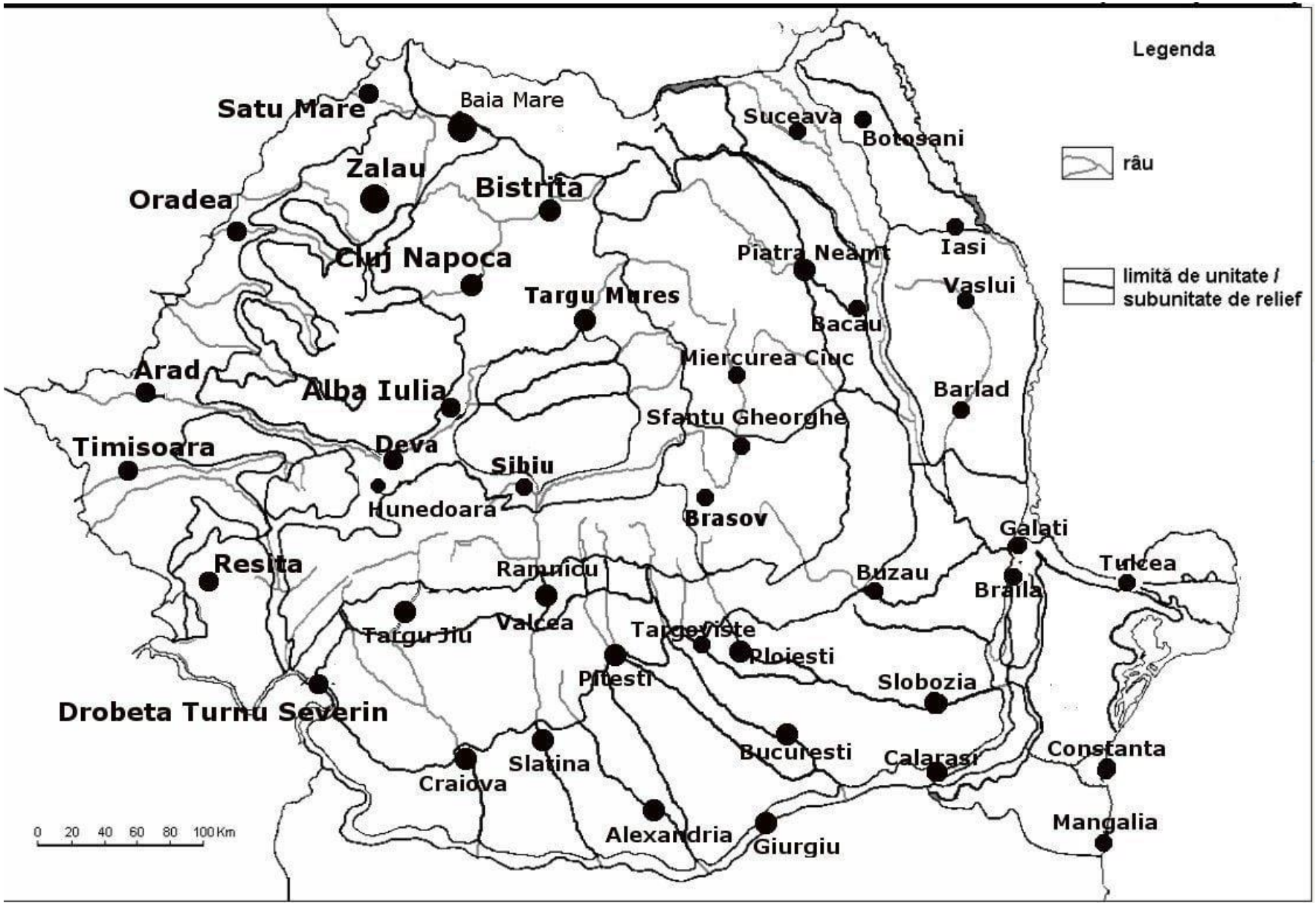

www.profudegeogra.eu

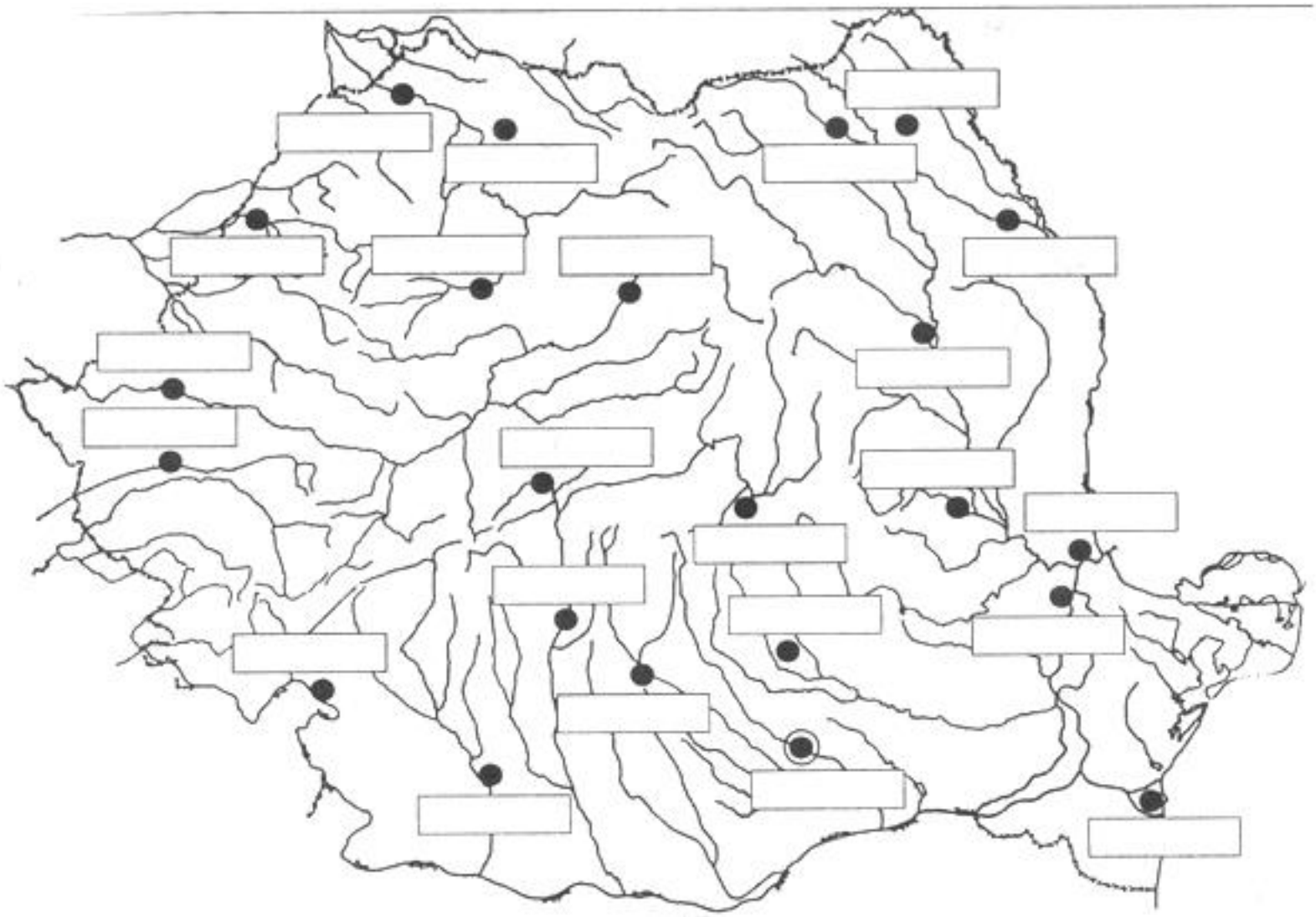

www.profudegeogra.eu

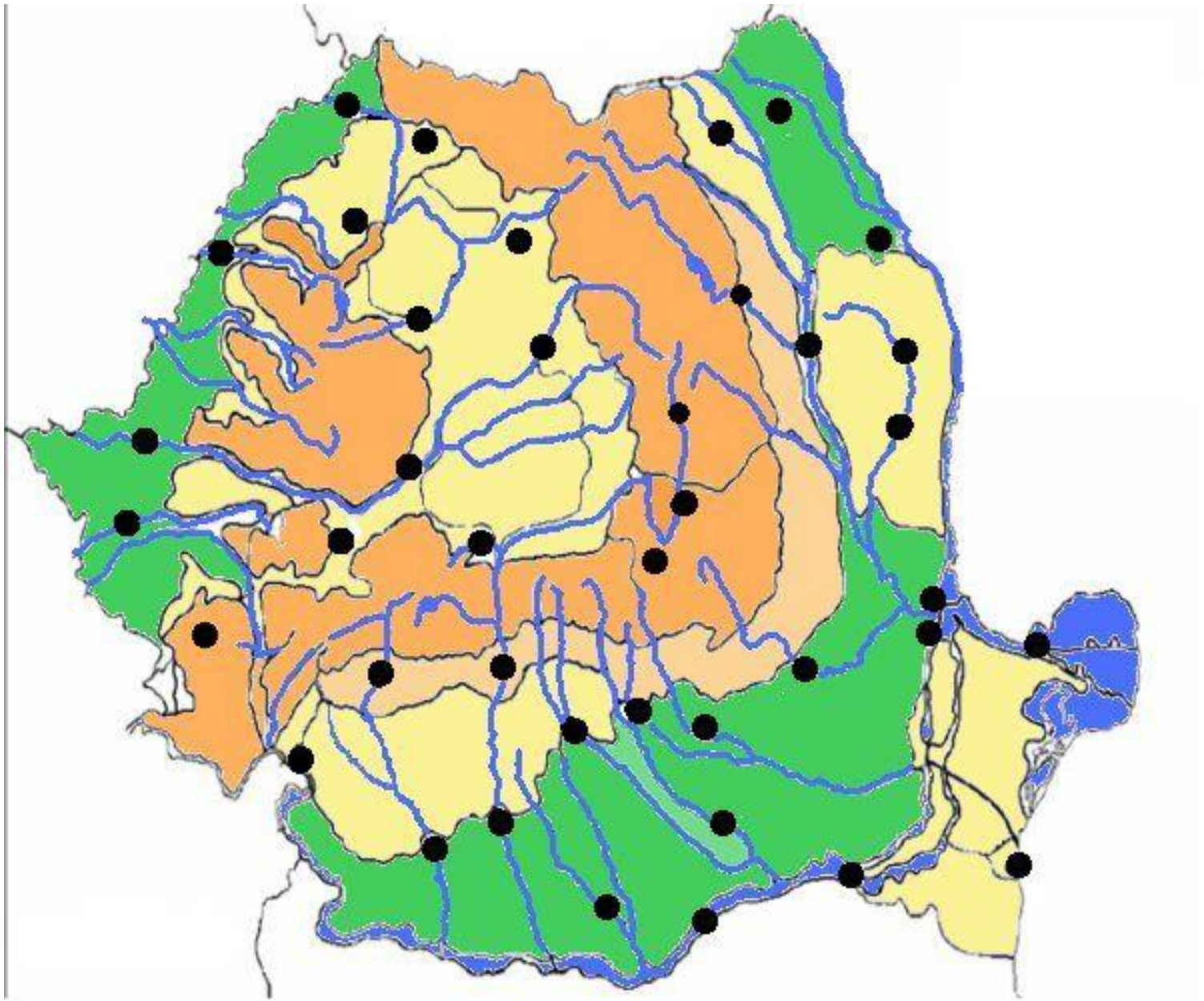

www.profudegeogra.eu

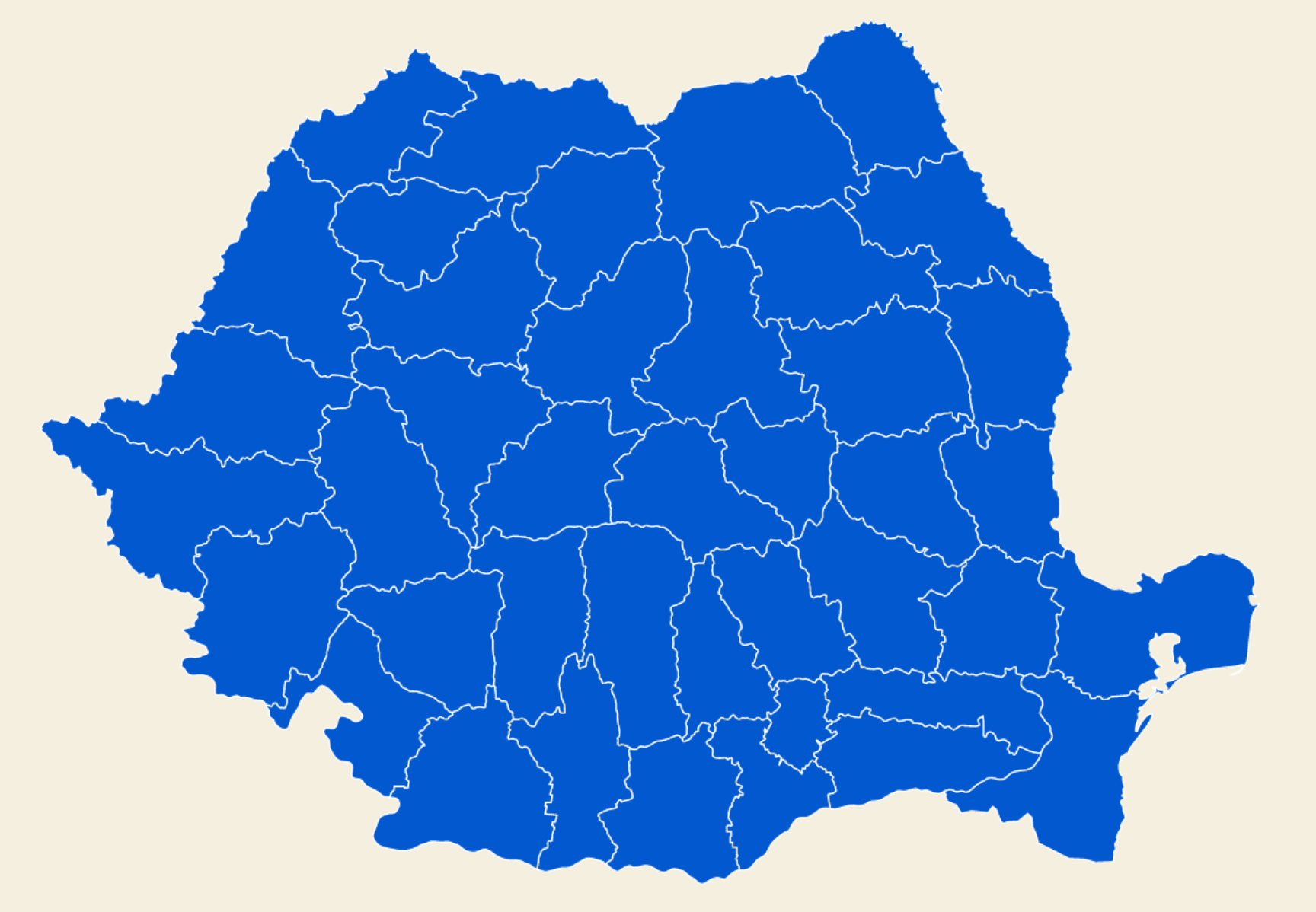

www.profudegeogra.eu

OBIECTIVE TURISTICE NATURALE DIN ROMANIA

1 LITORALUL MARII NEGRE
2 DELTA DUNARII
3 BALTA MICA A BRAILEI (BR)
4 LACUL STRACHINA (IL)
5 LACUL AMARA (IL)
6 OSTROVUL SOIMUL (CL)
7 PARCUL NATURAL COMANA (GR)
8 OSTROVUL MARE (IL)
9 LACUL SNAGOV (IF)
10 REZERVATIA DE DROPII BOIANU (OT)
11 REZERVAłIA DE BUJORI SĂLBATICI DIN PĂDUREA CĂLUGĂREASCĂ (OT)
12 DUNELE DE LA DABULENI (DJ)
13 REZERVATIA ORNITOLOGICA CIUPERCENII NOI (DJ)
14 CHEILE OLTETULUI (GJ)
15 CHEILE SOHODOLULUI (GJ)
16 PIRAMIDELE DIN VALEA STANCIOIULUI (VL)
17 TROVANTII DE LA COSTESTI (VL)
18 CASCADA LOTRISOR (VL)
19 LACUL INVARTITA (AG)
20 CHEILE DAMBOVICIOAREI (AG)
21 LACUL VIDRARU (AG)
22 LACUL SCROPOASA (DB)
23 CHEILE ZANOAGEI (DB)
24 BABELE SI SFINXUL (PH)
25 MUNTELE DE SARE SLANIC (PH)
26 FOCURILE VII DE LA LOPATARI (BZ)
27 VULCANII NOROIOSI DE LA BERCA (BZ)
28 CASCADA PUTNA (VN)
29 FOCURILE VII DE LA ANDREIASU DE JOS (VN)
30 LUNCA JOASA A PRUTULUI (GL)
31 DUNELE DE NISIP DE LA HANUL CONACHII (GL)
32 COASTA RUPTURILE - TANACU (VS)
33 LACURILE DE LA CARJA (VS)
34 REZERVAłIA PALEONTOLOGICĂ REPEDEA (IS)
35 REZERVATIA NATURALA COTUL BRAN, PRUT (IS)
36 PADUREA TUDORA (BT)
37 BALTILE SIRETULUI DUCECEA (BT)
38 PIETRELE DOAMNEI -RARAU (SV)
39 REZERVATIA 12 APOSTOLI - CALIMANI (SV)
40 POLITELE CU CRINI -CEAHLAU (NT)
41 LACUL IZVORUL MUNTELUI (NT)
42 PIATRA TEIULUI (NT)
43 LACUL BOLATAU (BC)
44 REZERVATIA NEMIRA (BC)
45 CHEILE VARGHISULUI (CV)
46 LACUL SFANTA ANA (HR)
47 LACUL ROSU (HR)
48 CHEILE BICAZULUI (HR)
49 DEFILEUL MURESULUI(MS)
50 LACUL SOVATA(MS)
51 LACUL LALA MARE (BN)
52 LACUL COLIBITA (BN)
53 LACUL IEZERUL RODNEI (MM)
54 CASCADA CAILOR (MM)
55 CREASTA COCOCULUI-MUNTII OAS (MM)
56 CHEILE TURZII (CJ)
57 LACUL BELIS (CJ)
58 SALINA TURDA (CJ)
60 PESTERA SCARISOARA (AB)
61 RAPA ROSIE (AB)
62 PARCUL NATURAL CANDREL (SB)
63 LACUL OCNA SIBIULUI (SB)
64 CANIONUL MIHAILENI (SB)
65 CANIONUL 7 SCARI (BV)
66 DEALUL TAMPA (BV)
67 COLOANELE DE BAZALT DE LA RACOS (BV)
68 CHEILE BANITEI (HD)
69 SARMISEGETUZA REGIA (HD)
70 MLASTINILE DE LA SATCHINEZ (TM)
71 VULCANII NOROIOSI DE LA PISCHIA ™
72 LACUL SURDUC (TM)
73 CASCADA BIGAR (CS)
74 LACUL OCHIUL BEIULUI (CS)
75 CASCADA BEUSNITA (CS)
76 CAZANELE DUNARII (MH)
77 PODUL LUI DUMNEZEU (MH)
78 PARCUL NATURAL LUNCA MURESULUI (AR)
79 REZERVATIA MIXTA MONEASA (AR)
80 PESTERA URSILOR (BH)
81 CHEILE GALBENEI (BH)
82 GROAPA RUGINOASA (BH)
83 PLAIUL PADIS (BH)
84 GRADINA ZMEILOR (SJ)
85 TINOAVELE DIN NORTUL OAS (SM)
86 DUNELE DE LA NISIP DE FOENI (SM)

www.profudegeogra.eu

Caiet pregatire

BAC Geografie

2012

Cuprins:

1) SPATIUL EUROPEAN SI SPATIUL ROMANESC 5

1.1 SPATIUL EUROPEAN 5
Exercitiul 1 5
1.2 SPATIUL ROMANESC 5
Exercitiul 1 5

2) ELEMENTE GEOGRAFICE DE BAZA 6

2.1 RELIEFUL MAJOR AL EUROPEI 6
Exercitiul 1 7
Exercitiul 2 7
Exercitiul 3 8
Exercitiul 4 9
Exercitiul 5 9
Exercitiul 6 10
2.2 RELIEFUL MAJOR AL ROMANIEI 10
Subunitatile de relief 11
Exercitiul 1 12
Exercitiul 2 13
Exercitiul 3 13
Exercitiul 4 13

3) CLIMA ROMANIEI/CLIMA EUROPEI 15

2.3 CLIMA EUROPEI 15
Exercitiul 1 15
Exercitiul 2 17
2.4 CLIMA ROMANIEI 17
Exercitiul 1 17
Exercitiul 2 18

4) HIDROGRAFIA ROMANIEI/HIDROGRAFIA EUROPEI 20

4.1 HIDROGRAFIA EUROPEI 20
Exercitiul 1 20
Exercitiul 2 21
Exercitiul 3 22
Exercitiul 4 22
4.2 HIDROGRAFIA ROMANIEI 23
Exercitiul 1 24
Exercitiul 2 24
Exercitiul 3 25

5) INVELISUL BIOPEDOGEOGRAFIC IN ROMANIA SI EUROPA 25

5.1 ZONELE BIO-PEDOGEOGRAFICE DIN EUROPA 25
Exercitiul 1 25
5.2 ZONELE BIO-PEDOGEOGRAFICE DIN ROMANIA 26
HARTA ZONELOR DE VEGETATIE DIN ROMANIA 26
Exercitiul 1 26
Exercitiul 2 27
Exercitiul 1 28
Exercitiul 2 29

6) RESURSELE NATURALE ALE EUROPEI/ROMANIEI 29

Exercitiul 1 29

7) ELEMENTE DE GEOGRAFIE UMANA ALE EUROPEI SI ROMANIEI 30

Exercitiul 1 ..... *30*
Exercitiul 2 ..... *32*
Exercitiul 3 ..... *32*

8) POPULATIA SI CARACTERISTICILE EI GEODEMOGRAFICE 33

9) SISTEMUL DE ORASE AL EUROPEI SI ROMANIEI 34

9.1 SISTEMUL DE ORASE DIN EUROPA 34
Exercitiul 1 ..... *34*
Exercitiul 2 ..... *35*
Exercitiul 3 ..... *35*
9.2 SISTEMUL DE ORASE DIN ROMANIA 35
Exercitiul 1 ..... *36*

10) ACTIVITATILE ECONOMICE IN EUROPA SI ROMANIA 38

10.1 INDUSTRIA EUROPEI 38
Exercitiul 1 ..... *38*
Exercitiul 2 ..... *38*
Exercitiul 3 ..... *39*
10.2 INDUSTRIA ROMANIEI 39
Exercitiul 1 ..... *39*
10.3 AGRICULTURA EUROPEI 40
Exercitiul 1 ..... *40*
Exercitiul 2 ..... *40*
10.4 AGRICULTURA ROMANIEI 41
Exercitiul 1 ..... *41*

11) TRANSPORTURILE IN EUROPA SI ROMANIA 41

11.1 TRANSPORTURILE IN EUROPA 41
Exercitiul 1 ..... *41*
11.2 TRANSPORTURILE IN ROMANIA 41

12) TARILE VECINE ROMANIEI 41

Ucraina *41*
Exercitiul 1 ..... *42*
Bulgaria *43*
Exercitiul 1 ..... *43*
Moldova *43*
Exercitiul 1 ..... *43*
Serbia *43*
Exercitiul 1 ..... *44*
Ungaria *44*
Exercitiul 1 ..... *44*

13) UNIUNEA EUROPEANA 44

13.1 FORMAREA UNIUNII EUROPENE SI EVOLUTIA INTEGRARII EUROPENE 44
Exercitiul 1 ..... *44*
Exercitiul 2 ..... *45*
Exercitiul 3 ..... *45*
Exercitiul 4 ..... *45*
Exercitiul 5 ..... *46*
13.2 CARACTERISTICI GEOGRAFICE ECONOMICE SI POLITICE 46
Exercitul 6 ..... *46*
13.3 STATELE UNIUNII EUROPENE 47
Germania *47*
Exercitiul 1 ..... *47*

Franta *47*
Exercitiul 1 ..... *47*
Exercitiul 2 ..... *48*
Regatul Unit al Marii Britanii si Irlandei de Nord *49*
Italia *50*
Exercitiul 1 ..... *50*
Exercitiul 2 ..... *50*
Spania *51*
Exercitiul 1 ..... *51*
Exercitiul 2 ..... *51*
Grecia *51*
Tarile Benelux *52*
Belgia *52*
Exercitiul 1 ..... *52*
Olanda *52*
Exercitiul 1 ..... *52*
Luxembourg *52*
Exercitiul 1 ..... *52*
Tarile nordice *53*
Exercitiul 1 ..... *53*
Exercitiul 2 ..... *53*
Alte tari central-europene *54*
Exercitiul 1 ..... *54*
Tarile baltice *54*
Exercitiul 1 ..... *54*

14) ROMANIA PARTE A UNIUNII EUROPENE 55

14.1 OPORTUNITATI GEOGRAFICE ALE ROMANIEI CU SEMNIFICATIE PENTRU UNIUNEA EUROPEANA 55
Exercitiul 1 ..... *55*
14.2 OPORTUNITATI UMANE SI ECOMICE 55
Exercitiul 1 ..... *55*

15) PROBLEMA ENERGIEI IN UNIUNEA EUROPEANA 56

16) EUROPA SI UNIUNEA EUROPEANA IN LUMEA CONTEMPORANA 56

Exercitiul 1 ..... *56*

17) ROLUL EUROPEI IN CONSTRUCTIA LUMII CONTEMPORANE 56

Exercitiul 1 ..... *56*

18) UNIUNEA EUROPEANA SI ANSAMBLURILE CONTEMPORANE 56

Exercitiul 1 ..... *56*
Exercitiul 2 ..... *56*
Exercitiul 3 ..... *57*

19) MONDIALIZARE, INTERNATIONALIZARE SI GLOBALIZARE DIN PERSPECTIVA EUROPEANA 57

Exercitiul 1 ..... *57*
Exercitiul 2 ..... *57*
Exercitiul 3 ..... *57*

20) ELEMENTE DE GEOGRAFIE A SERVICIILOR SI ADMINISTRATIE 58

20.1 CAILE DE COMUNICATII IN EUROPA 58
Exercitiul 1 ..... *58*
Exercitiul 2 ..... *58*
Exercitiul 3 ..... *59*
20.2 CAILE DE COMUNICATII IN ROMANIA 59

21) DIVERSITATEA UMANA EUROPEI (LINGVISTICA, RELIGIOASA SI ETNICA) 59
21.1 IN EUROPA 59
21.2 IN ROMANIA 59

1) Spatiul european si spatiul romanesc

1.1 Spatiul European

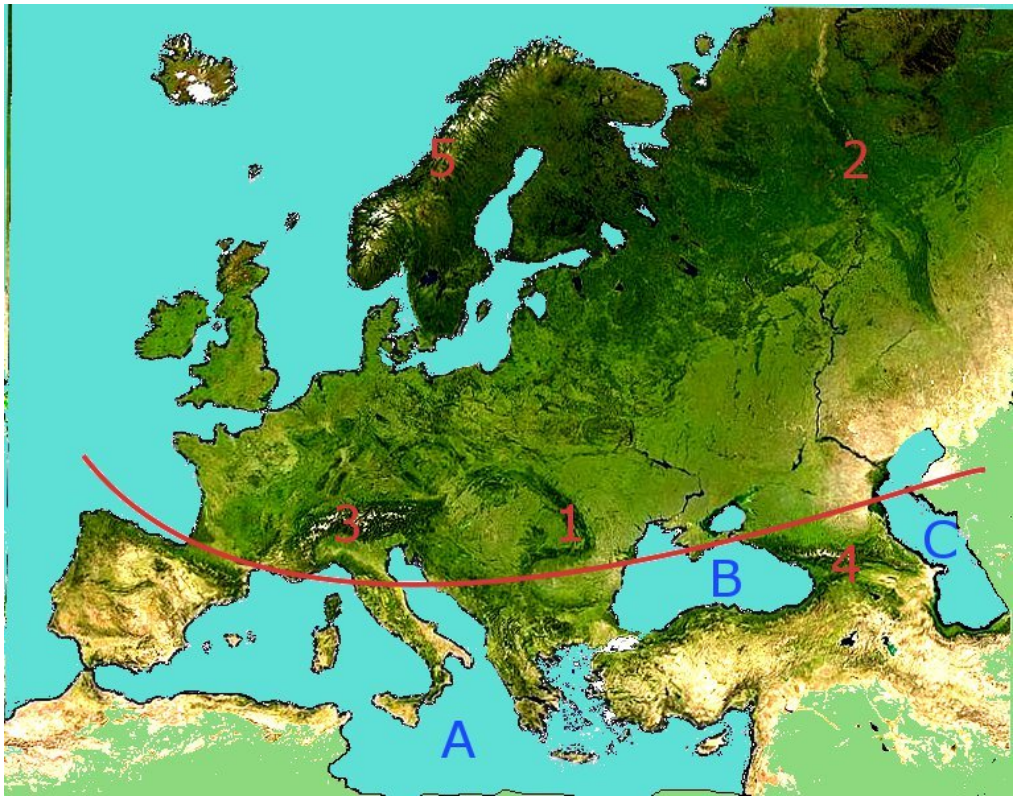

Exercitiul 1

- numiti numele lanturilor montane notate cu cifrele 1, 2, 3, 4,5
- numiti numele marilor notate pe harta cu literele A,B,C
- linia rosie trasata pe harta reprezinta paralela de .....grade

1.2 Spatiul Romanesc

Exercitiul 1

Folosind harta de mai jos raspunde urmatoarelor cerinte:

- noteaza in dreptunghiuri la ce distanta (kilometri) se afla Romania fata de punctele extreme ale Europei

- numeste punctele extreme ale Europei notate pe harta cu literele a, b, c, d
- denumirea marilor notate pe harta cu literele A,B,C

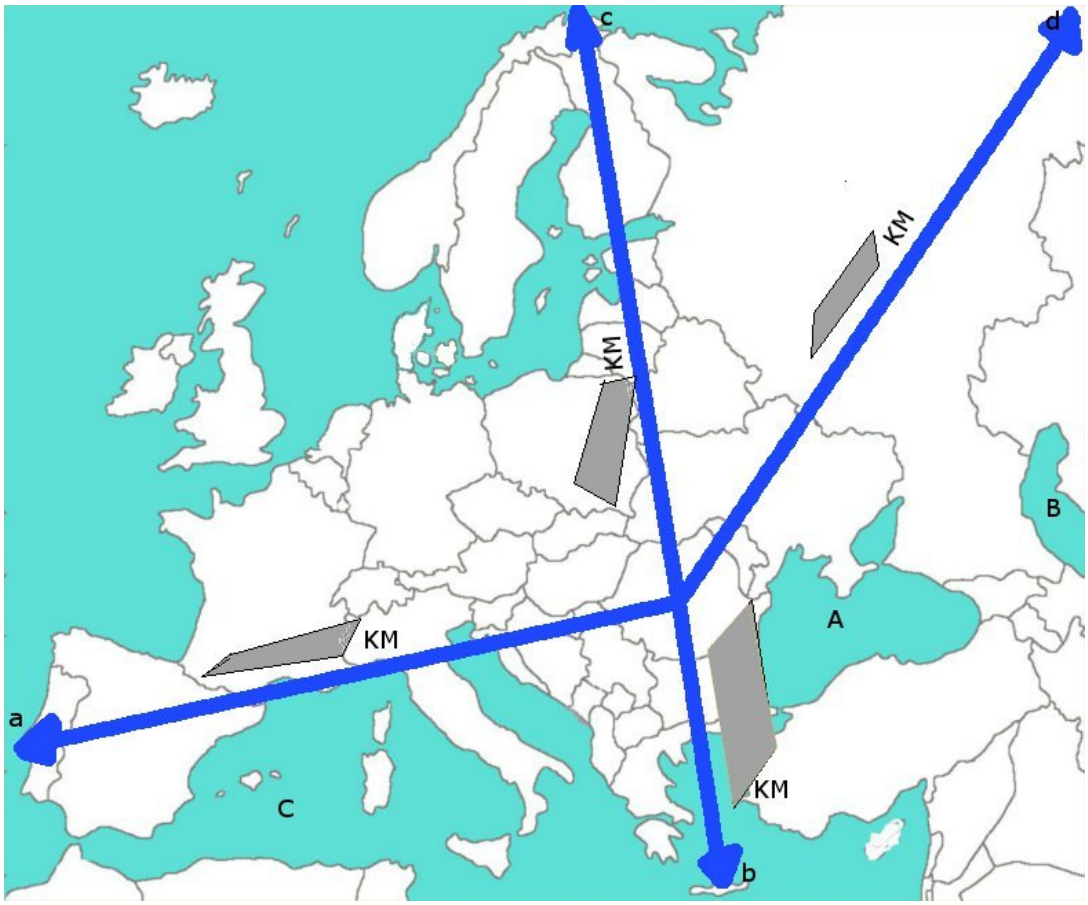

2) Elemente geografice de baza

2.1 Relieful major al Europei

Exercitiul 1

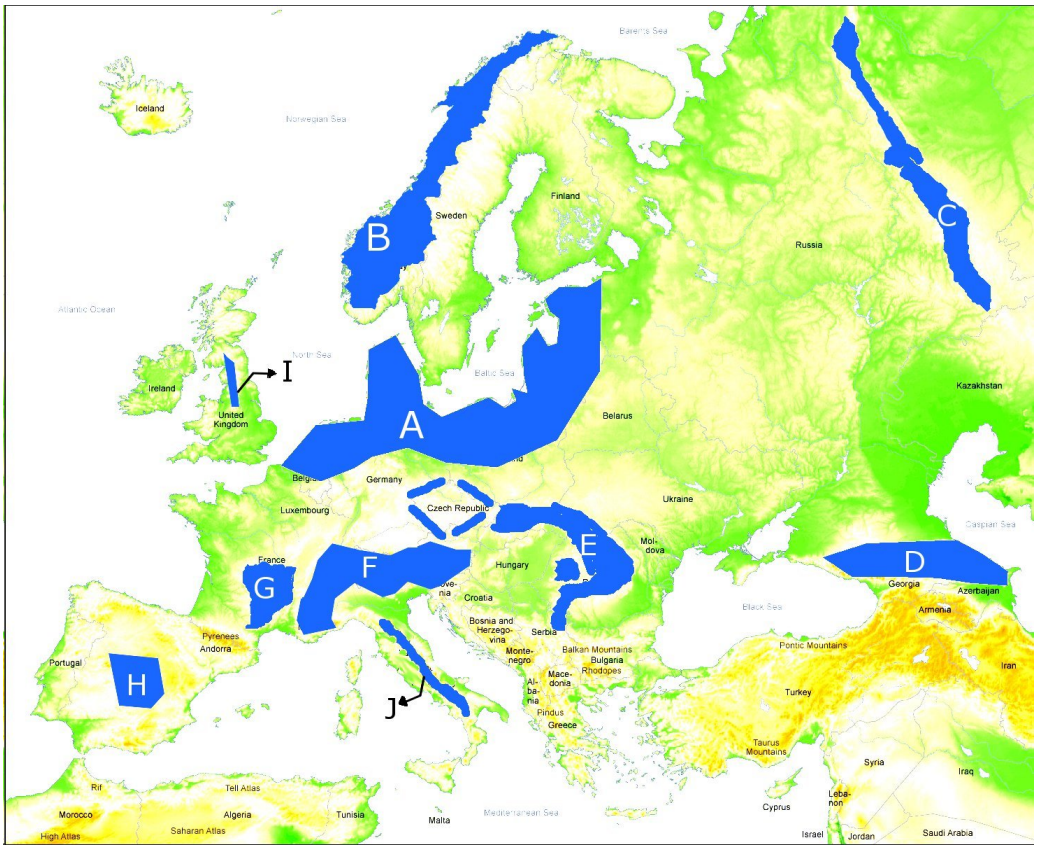

a) Numiti unitatile fizico-geografice notate pe harta cu literele A,B,C,D,E,F,G,H,I

A.....
B.....
C.....
D.....
F.....
G.....
H.....
I.....

b) Enumerati 2 caracteristici ale reliefului din unitatea notata pe harta cu litera G

1.....
2.....

Exercitiul 2

Completati spatiile libere

- ✓ Alpii Scandinaviei s-au format in timpul cutarilor.....
- ✓ Lacul glaciar Commo se intalneste in unitatea de relief notata pe harta cu litera.....
- ✓ Muntii Penini se gasesc pe teritoriul statului numit.....
- ✓ Altitudinea maxima din unitatea F este de.....

- ✓ Muntii Ural se gasesc pe teritoriul statului numit.....
- ✓ Relieful glaciar de calota se intalneste in unitatea notata pe harta cu litera.....

Exercitiul 3

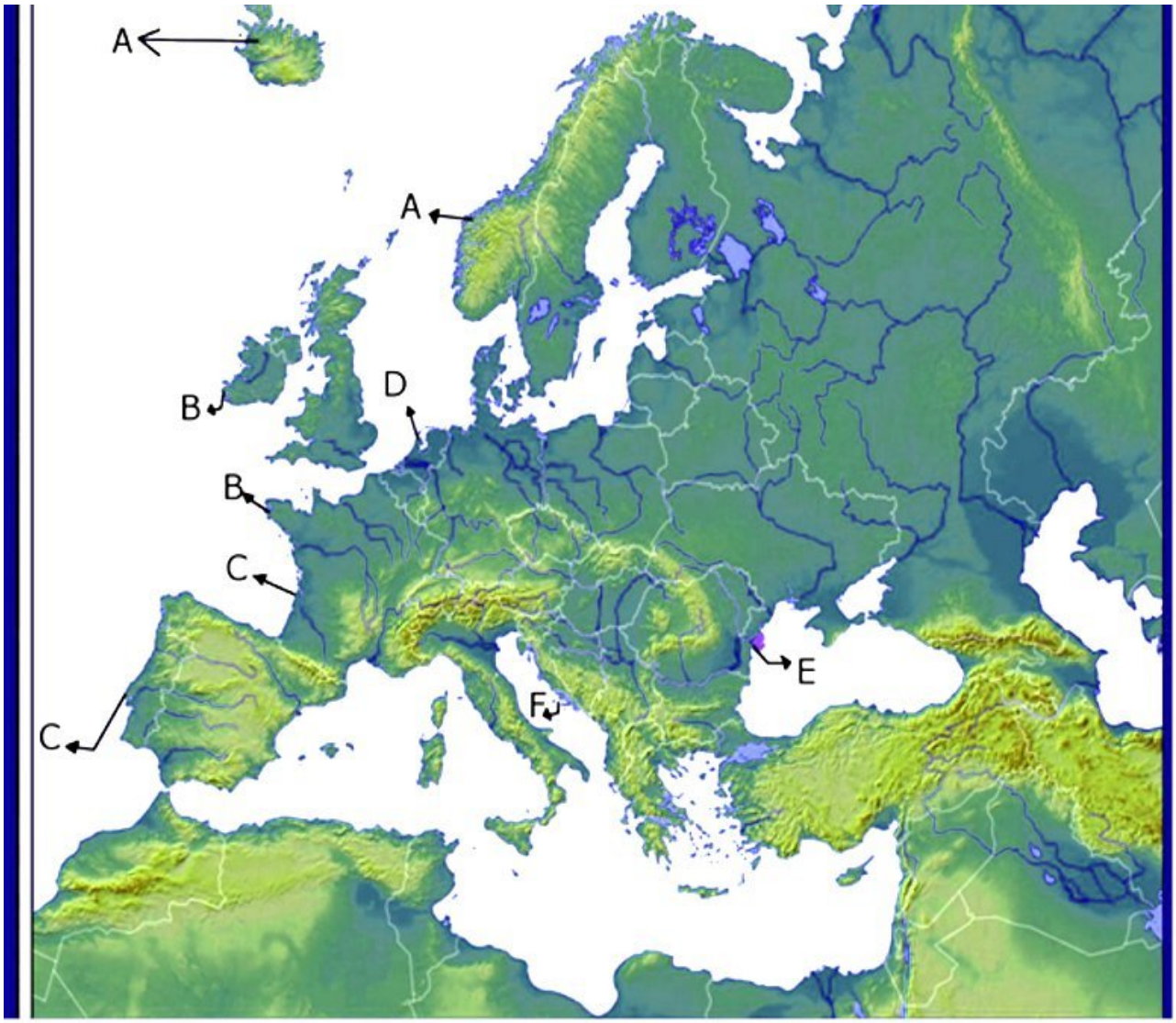

Identificati tipurile de tarmuri notate pe harta cu literele:A,B,C,D,E,F

A.....
B.....
C.....
D.....
E.....
F.....

Exercitiul 4

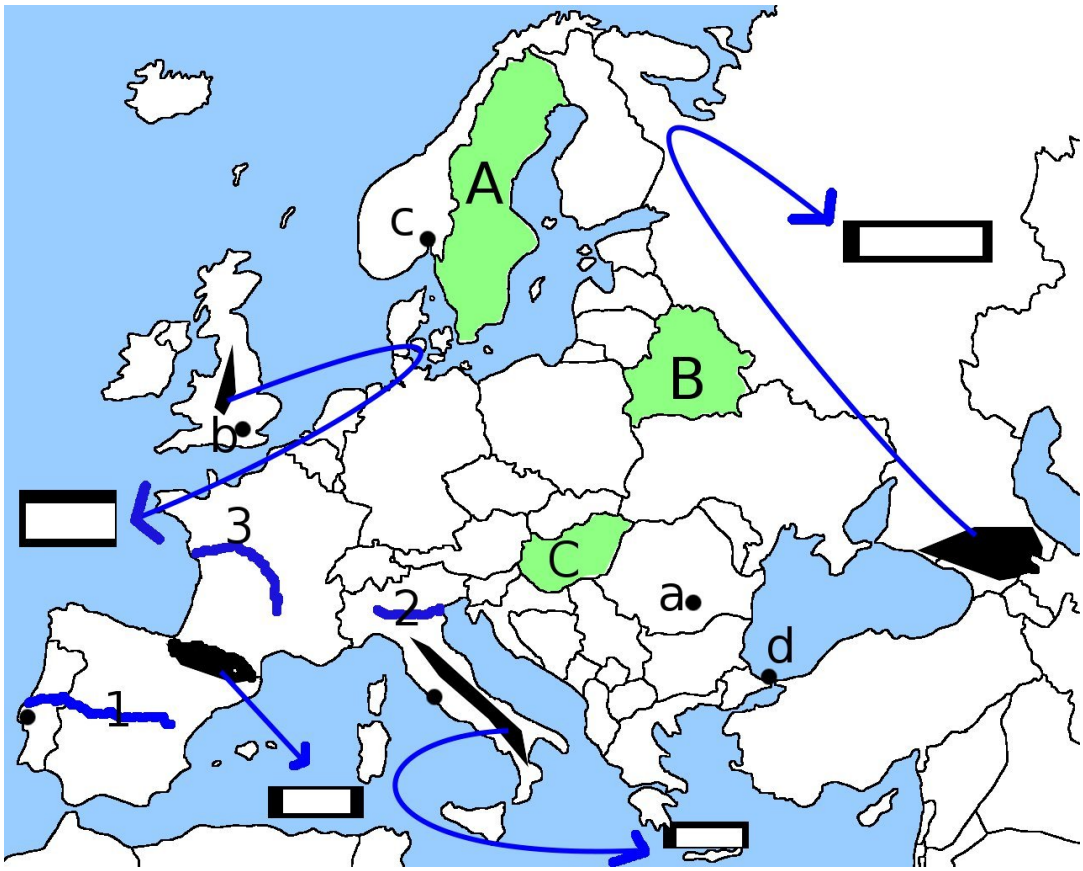

- Numiti raurile numerotate pe harta cu cifre de la 1 la 3
  1……..;2……;3……
- Numiti statele numerotate cu litere de la A la C
  A……..;B……..;C…….
- Notati in dreptunghiuri denumirile unitatilor fizico-geografice.
- Numiti tipul de clima din nordul statului notat cu litera A
- Numiti orasele notate pe harta cu litere de la a la d
  a…….;b…….;c…….....……..;d…….

Exercitiul 5

Notati in dreptul fiecarei unitati perioada in care a aparut (cutari, caledonice, hercinice, alpine)

Muntii Alpi→→→→→→→→→→→→.....
Muntii Padurea Neagra→→→→→→→.....
Muntii Vosgi→→→→→→→→→→→→.....
Muntii Apenini→→→→→→→→→→→.....
Masivul Central Francez→→→→→→→.....

Muntii Rilla→→→→→→→→→→→→→.....
Muntii Olimp→→→→→→→→→→→→→.....
Alpii Scandinaviei→→→→→→→→→→.....
Muntii Ural→→→→→→→→→→→→→.....
Muntii Carpati→→→→→→→→→→→→→.....
Podisul Boemiei→→→→→→→→→→→→.....

Exercitiul 6

In coloana din dreapta sunt tipuri si forme de relief, iar in coloana din stanga unitatile fizico-geografice. Realizati corespondenta corecta

Muntii Alpi	Relieful carstic
Campia Nordica	Relieful vulcanic
Podisul Karst	Relieful glaciar montan
Campia Marii Capice	Drumlini, kamesuri
Islanda	Relief eolian

2.2 Relieful major al Romaniei

Unitatile majore de relief

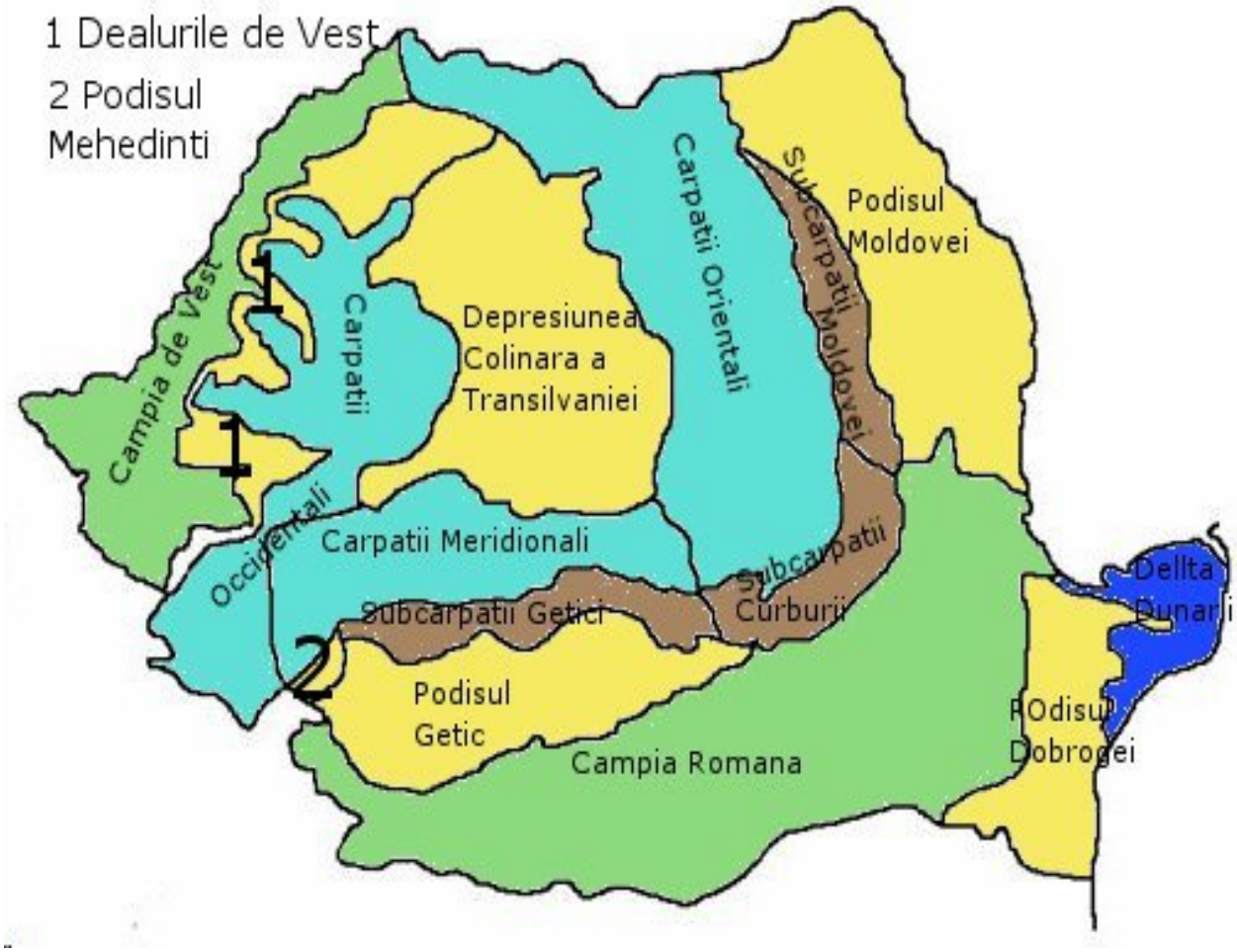

Subunitatile de relief

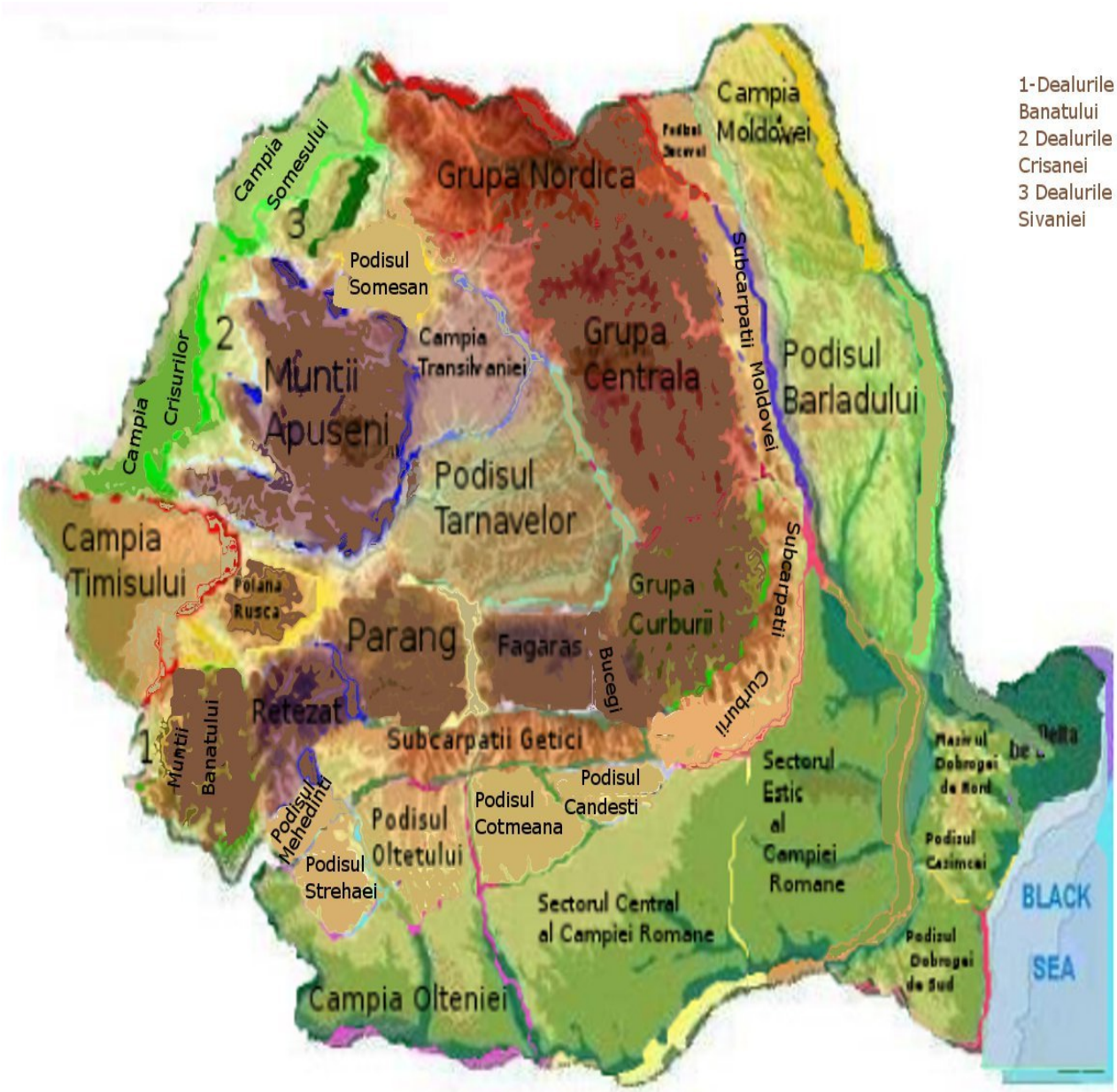

Exercitiul 1

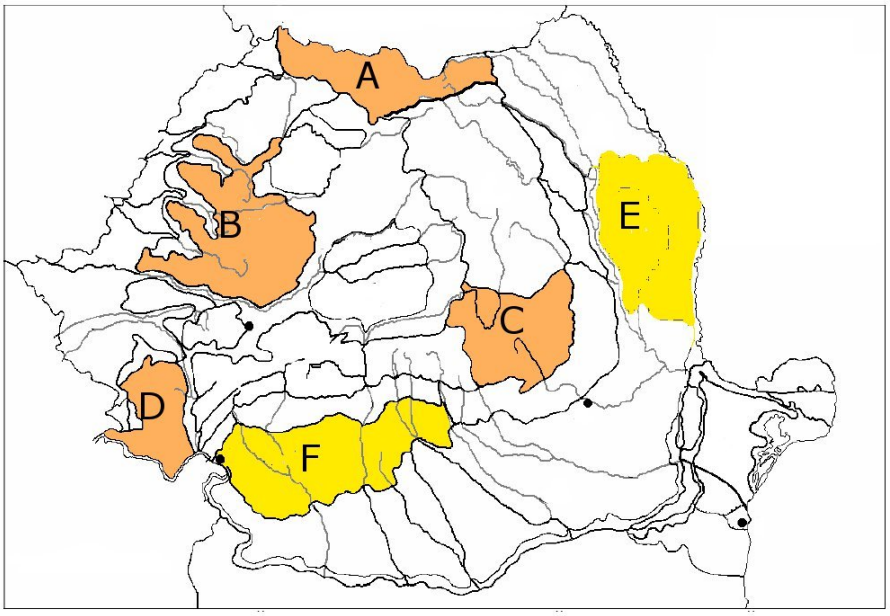

Numiti unitatile notate pe harta cu literele: A,B,C,D,E,F
A.....
B.....
C.....
D.....
E.....
F.....

Exercitiul 2

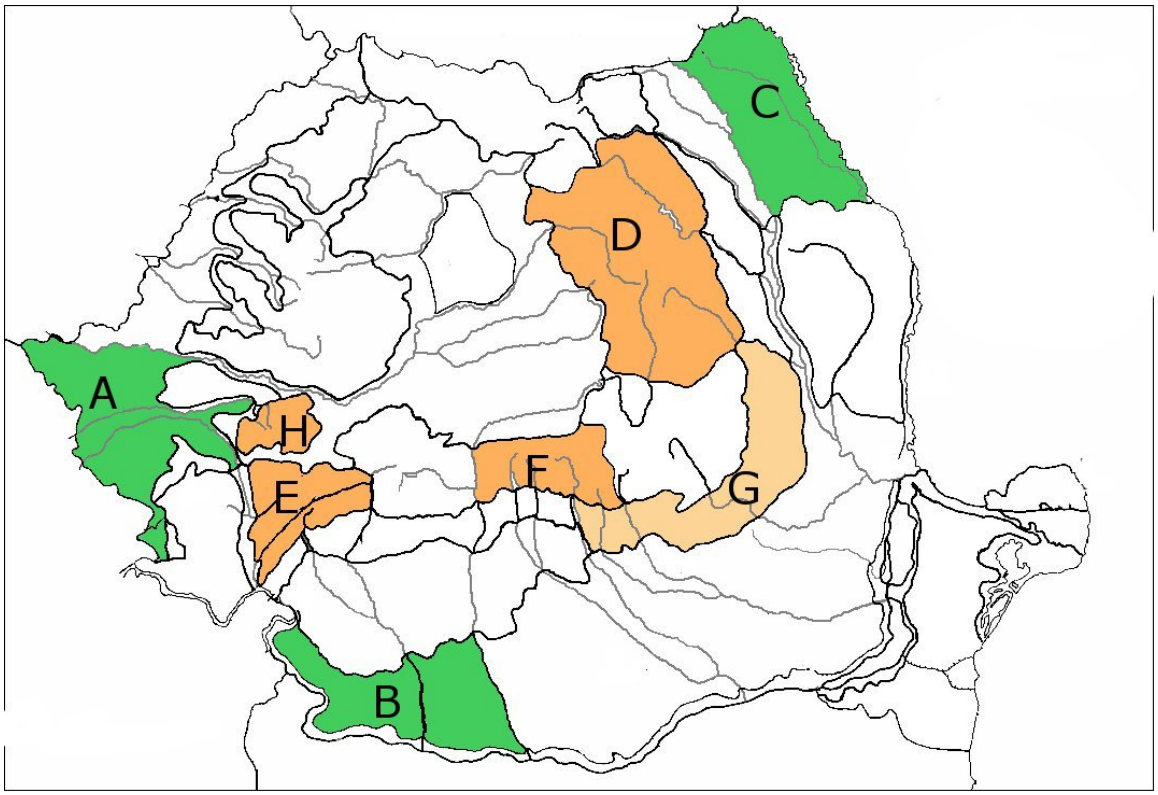

Numiti unitatile notate pe harta cu literele:A,B,C,D,E,F,G,H

A.....
B.....
C.....
D.....
E.....
F.....
G.....
H.....

Exercitiul 3

Realizati o corespondenta intre tipurile de relief si unitatile in care sunt localizate:

Relieful glaciar	Fagaras
Relieful carstic	Muntii Aninei
Relieful vulcanic	Campia Olteniei
Relieful ruiniform	Muntii Bucegi
Relieful pe loess	Campia Baraganului

Exercitiul 4

Precizati 3 deosebiri si o asemananare intre relieful Grupei Centrale a Carpatilor Orientali si relieful muntilor Apuseni. Deosebirile se pot referi la oricare dintre următoarele aspecte ale reliefului: mod de
formare, tipuri de roci, distribuția spațială a altitudinilor, gradul de fragmentare, orientarea culmilor
şi văilor principale, tipuri genetice de relief, alte aspecte specifice ale reliefului

Deosebiri:

.....
.....
.....

Asemanari
.....

Precizati 3 deosebiri si o asemanare intre relieful Podisului Dobrogei si relieful Podisului Moldovei. Deosebirile se pot referi la oricare dintre următoarele aspecte ale reliefului: mod de formare, tipuri de roci, distribuția spațială a altitudinilor, gradul de fragmentare, orientarea culmilor
şi văilor principale, tipuri genetice de relief, alte aspecte specifice ale reliefului.
Deosebiri
.....
.....
.....

Asemanari
.....

Precizati 3 deosebiri si o asemanare intre relieful Campiei de Vest si relieful Campiei Romane.
Deosebirile se pot referi la oricare dintre următoarele aspecte ale reliefului: mod de formare, tipuri de roci, distribuția spațială a altitudinilor, gradul de fragmentare
, tipuri genetice de relief, alte aspecte specifice ale reliefului.

Deosebiri
.....
.....
.....

Asemanari
.....

3) Clima Romaniei/Clima Europei

2.3 Clima Europei

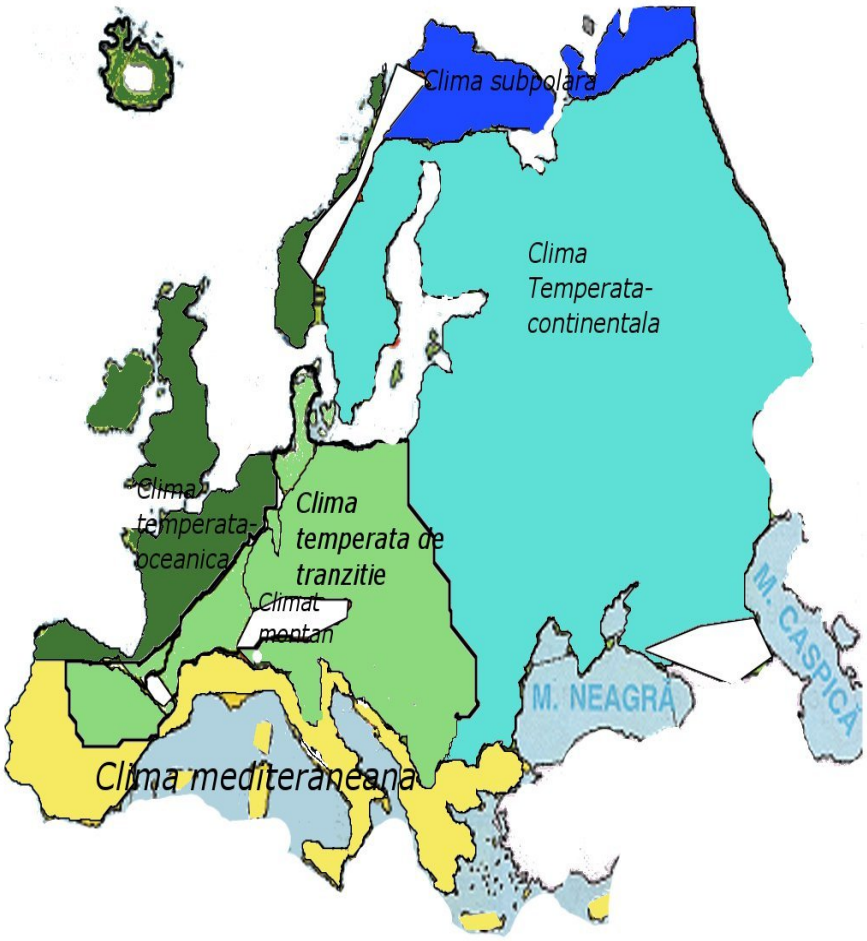

Harta zonelor climatice din Europa

Exercitiul 1

Folosind harta de mai jos raspundeti urmatoarelor cerinte:

- Numiti tipurile climatice notate pe harta cu literele A,B,C,D

A.....
B.....
C.....
D.....

- Precizati temperatura medie anuala din unitatea notata pe harta cu litera C
- Precizati 2 vanturi din unitatea notata pe harta cu litera D

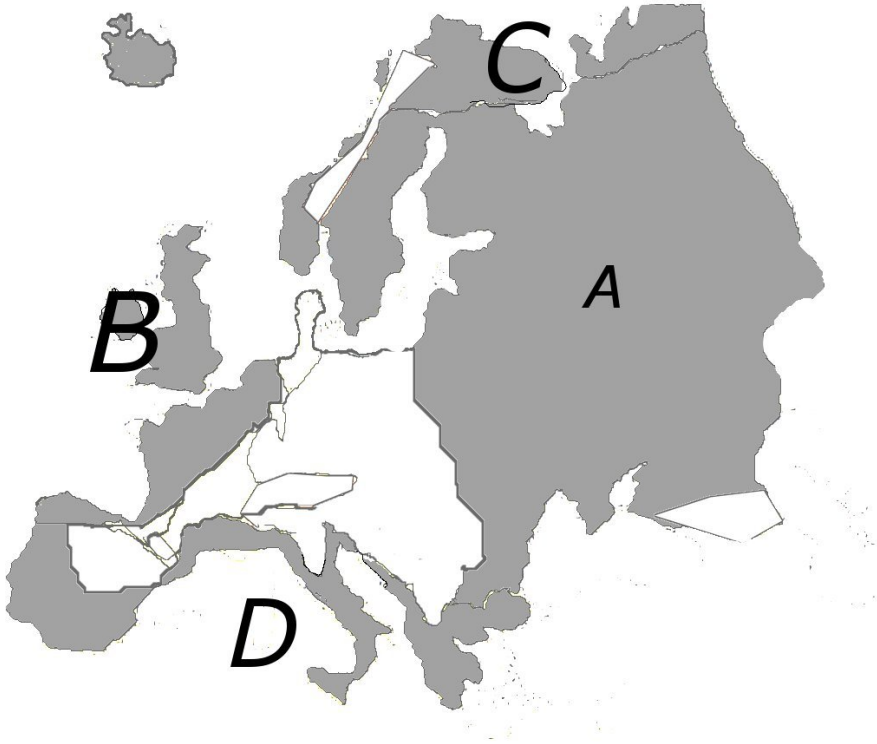

Exercitiul 2

- Realizati o comparatie intre tipul de clima notat pe harta cu litera A si tipul de clima notat pe harta cu litera B. Deosebirile se pot referi la oricare dintre următoarele elemente de climă: tip de climă,
  temperaturi medii anuale, precipitații medii anuale, vânturi, amplitudine termică.

Deosebiri.....;.....;.....
Asemanari.....

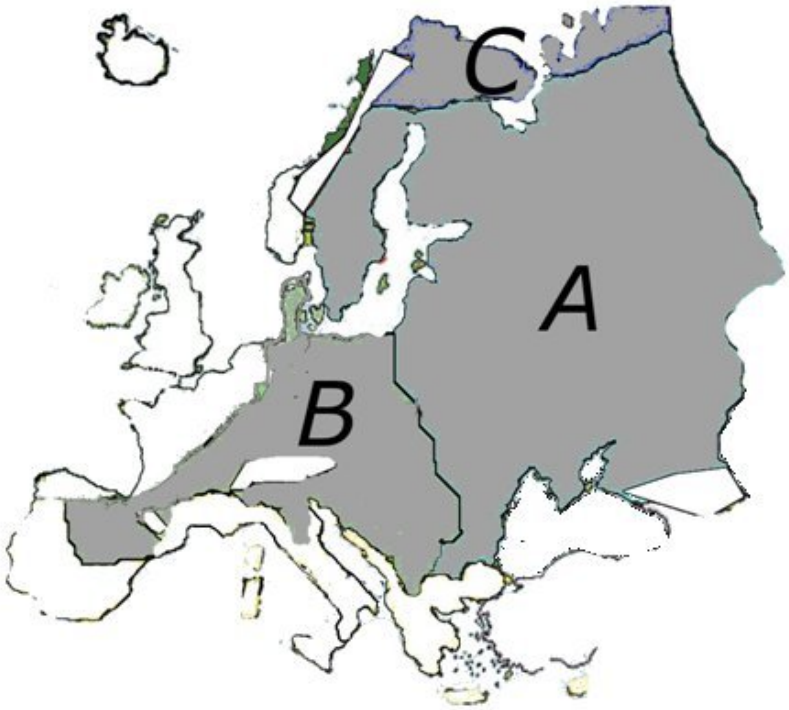

2.4 Clima Romaniei

Exercitiul 1

- Noteaza in dreptunghiurile de pe harta influentele climatice care lipsesc

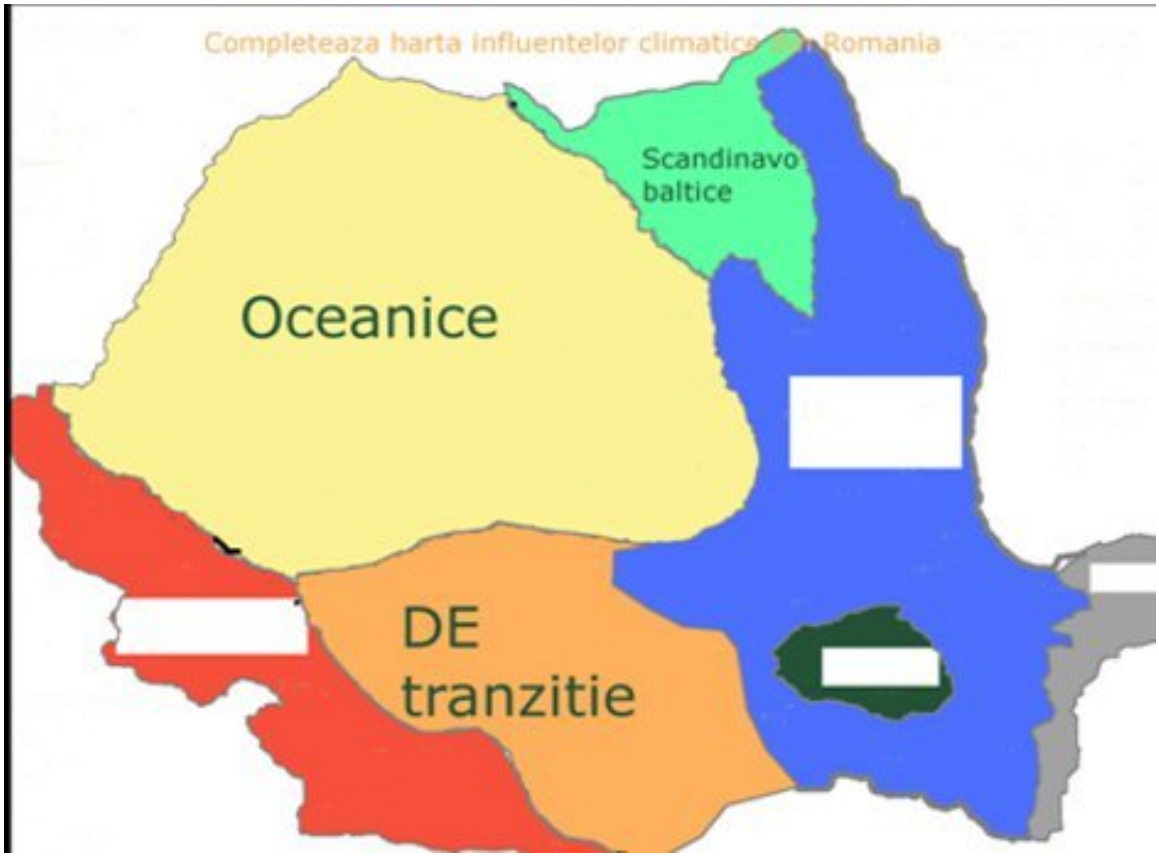

Exercitiul 2

Analizand harta de mai jos raspundeti urmatoarelor cerinte:

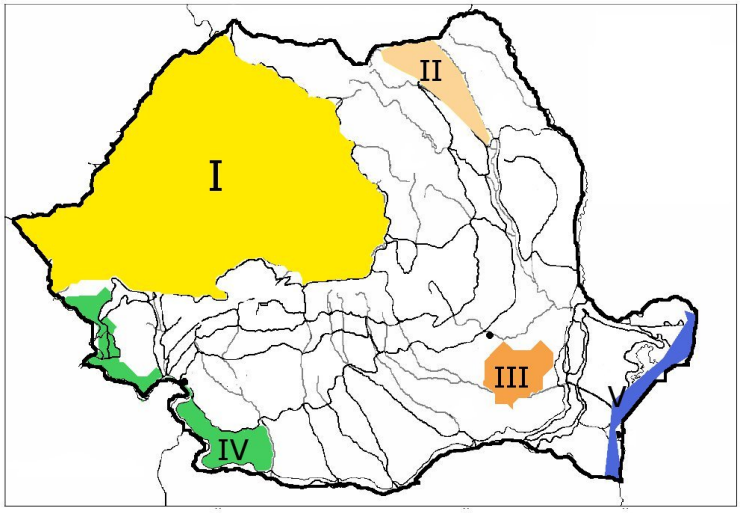

- Numiti influentele climatice care apar in zonele numerotate pe harta cu cifrele: I,II,III,IV,V

I.....
II.....
III.....
IV.....
V.....

- Caracterizati climatul cu influente oceanice din Romania. In elaborarea raspunsului veti avea in vedere urmatoarele:

localizare
precipitatii medii anuale
temperatura medie anuala
vanturi

- Numiti cate un vant pentru fiecare unitate din harta de mai sus

I.....
II.....
III.....
IV.....
V.....

- Realizati o comparatie din punct de vedere climatic intre unitatea fizico-geografica notata cu II si unitatea fizico-geografica notata cu III. Deosebirile se pot referi la oricare dintre următoarele elemente de climă: tip de climă, temperaturi medii anuale, precipitații medii anuale, vânturi, amplitudine termică.

Deosebiri
.....
.....

Asemanari
.....

4) Hidrografia Romaniei/Hidrografia Europei

4.1 Hidrografia Europei

Exercitiul 1

- Noteaza in dreptunghiuri numele raurilor

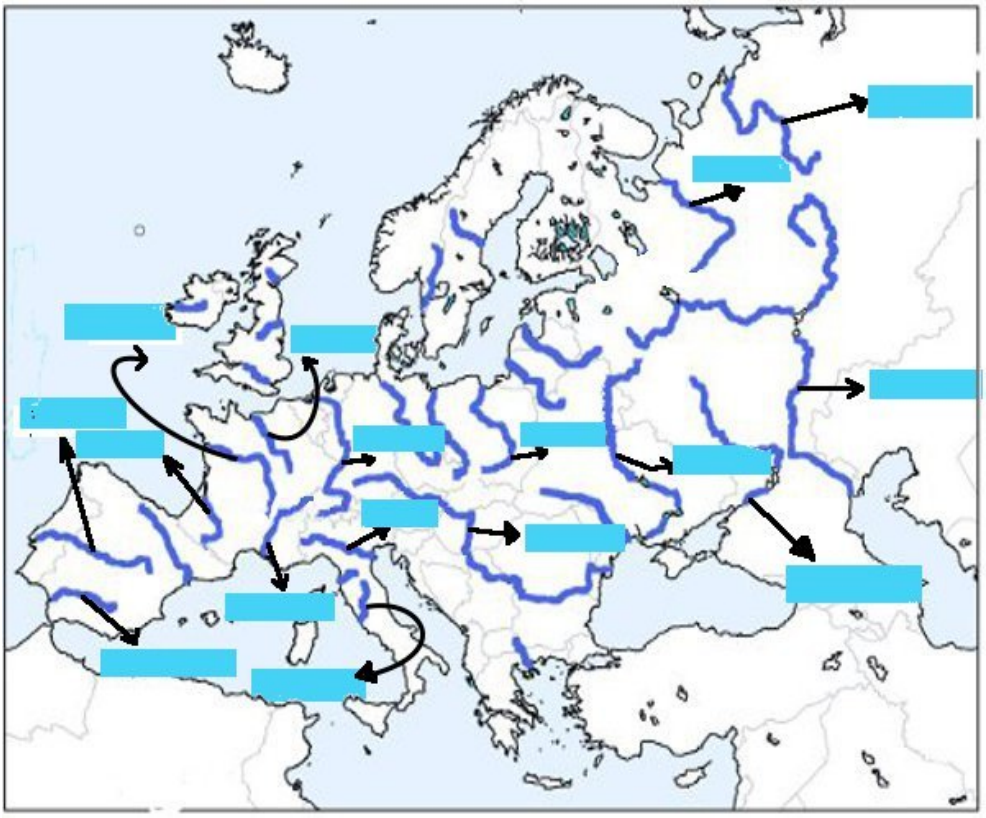

Exercitiul 2

- Identifica raurile notate pe harta cu literele A,B,C,D,E,F,G,H,I,J,K,L,M

A.....
B.....
C.....
D.....
E.....
F.....
G.....
H.....
I.....
J.....
K.....
L.....
M.....

- Numeste din raurile de mai sus 2 rauri ce se varsa prin delta si 2 rauri ce se varsa prin estuar
- Delta

1.....
2.....

Estuar
1.....
2.....

- Numeste un rau ce se incadreaza in tipul vestic de scurgere

.....

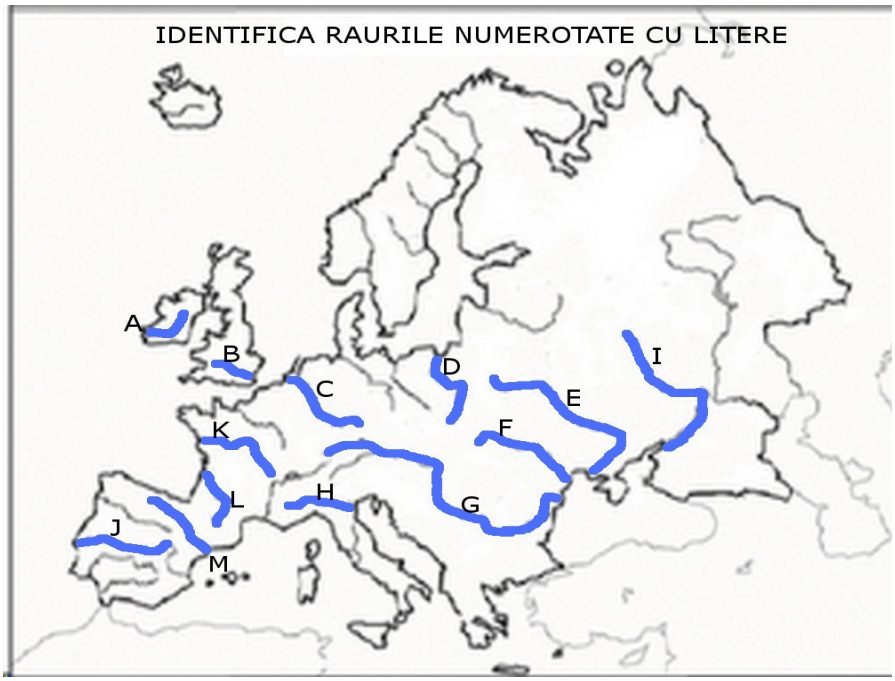

Exercitiul 3

- Notati in dreptunghiuri denumirea corecta a raurilor

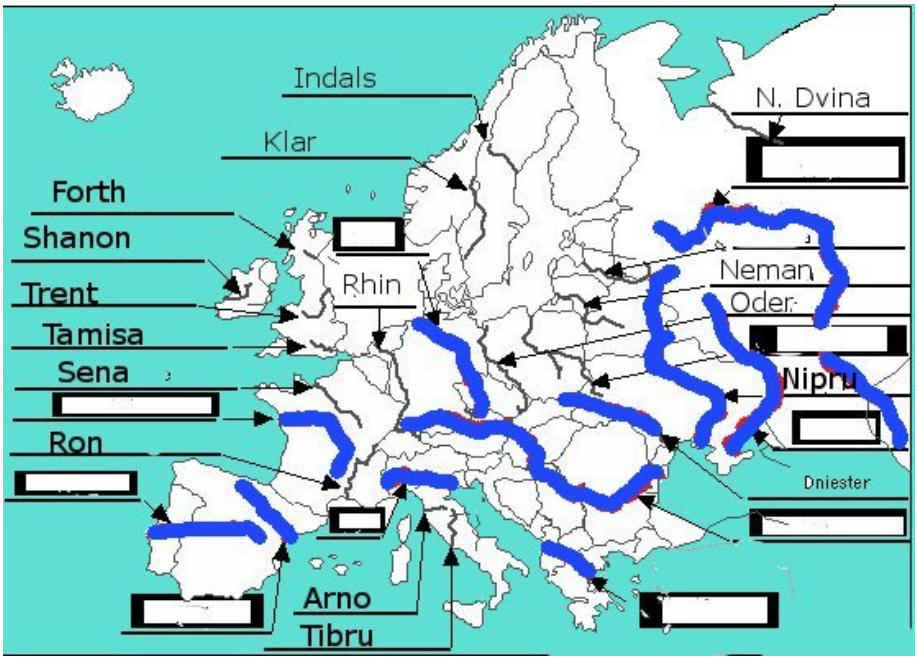

Exercitiul 4

- Grupati corect coloanele:

Lacul Vanern	Lac tectonic
Lacul Maggiore	Lac vulcanic
Lacul Albano	Laguna maritima
Lacul Razim	Lac glaciar montan
Lacul Balaton	Lac glaciar de calota

4.2 Hidrografia Romaniei

Harta raurilor din Romania

Exercitiul 1

Noteaza corect numele raurilor

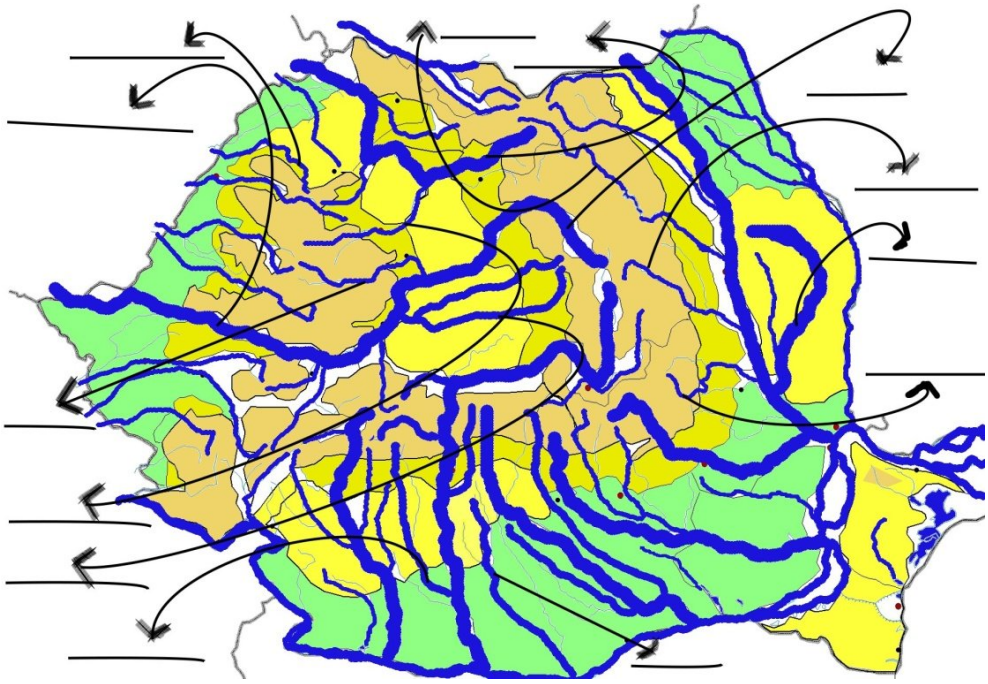

Exercitiul 2

Noteaza in dreptunghiuri numele raurilor

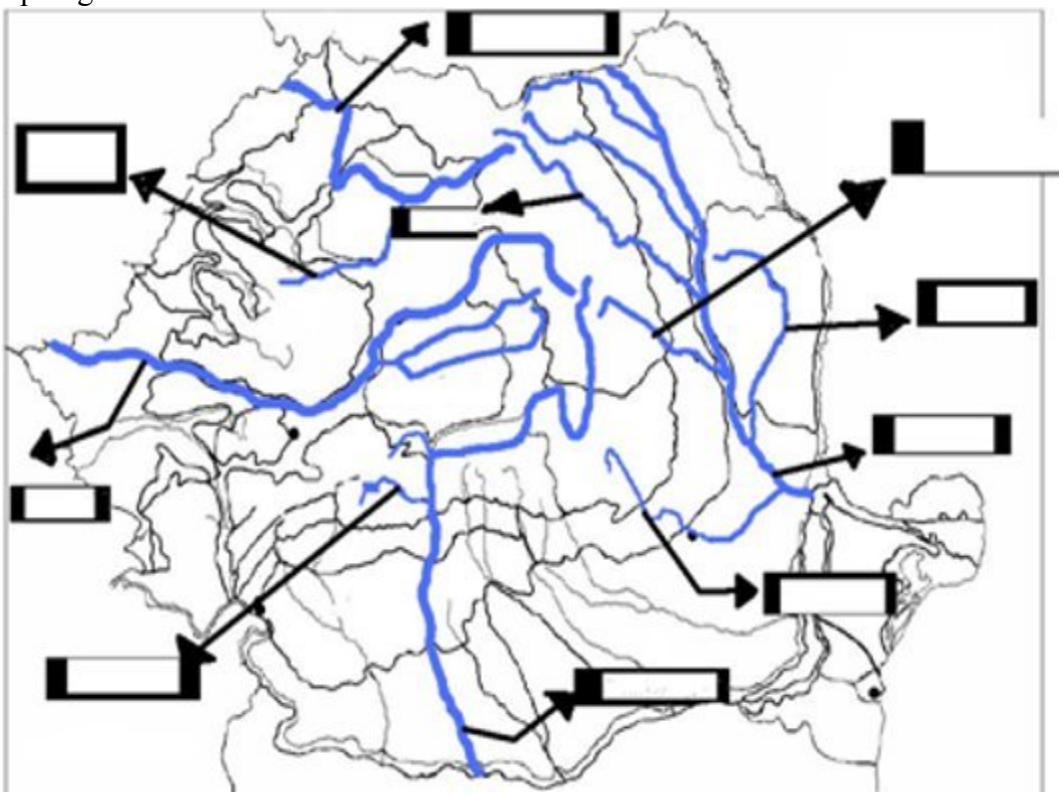

Exercitiul 3

Grupati corect coloanele

Lac glaciar	Balea
Lac vulcanic	Sfanta Ana
Lac salin	Ocna Dej
Lac carstic	Ighiu
Liman fluvio-maritim	Techirghiol

5) Invelisul biopedogeografic in Romania si Europa

5.1 Zonele bio-pedogeografice din Europa

Exercitiul 1

- Numiti principalele specii de plante din zonele de vegetatie ale Europei

Zona arctica si de tundra_____
_____
_____

Zona de taiga _____
_____
_____

Zona padurilor
de foioase _____
_____
_____

Zona mediteraneana _____
_____
_____

5.2 Zonele bio-pedogeografice din Romania

Harta zonelor de vegetatie din Romania

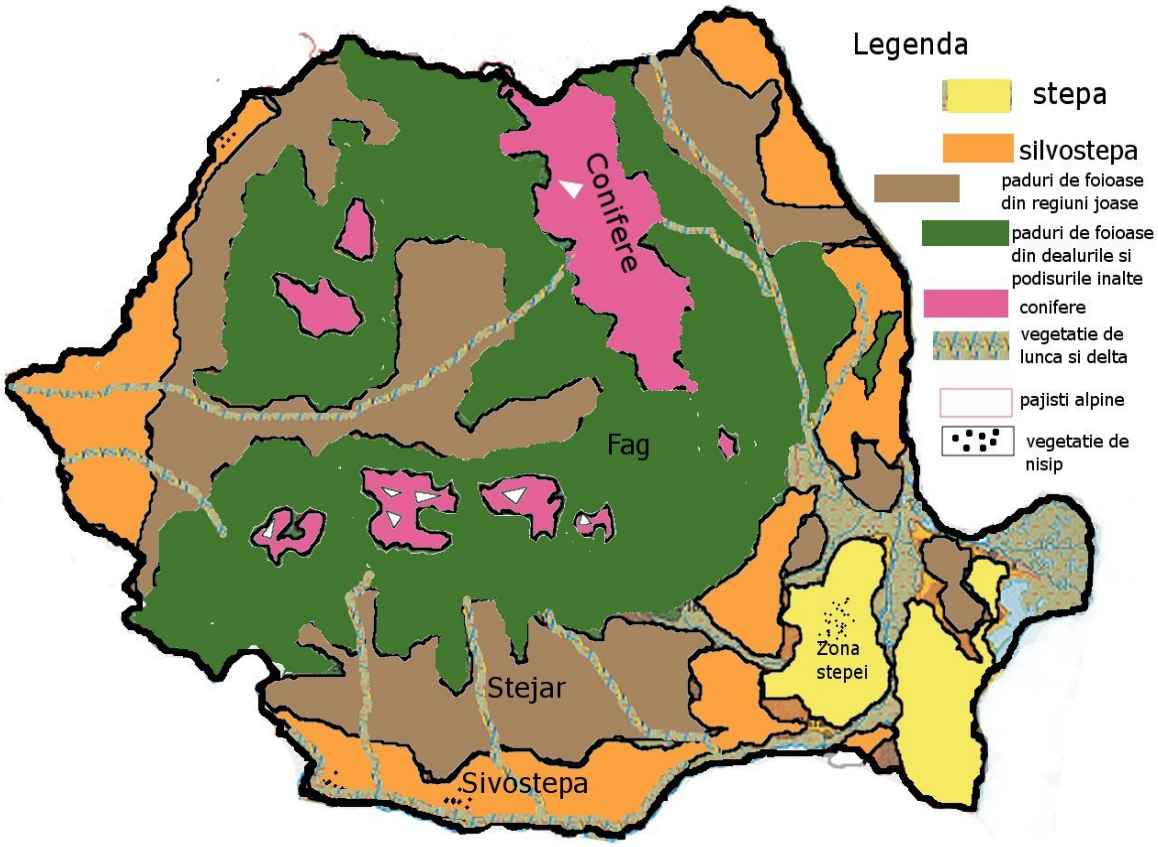

Exercitiul 1

- Identifica zonele de vegetatie notate pe harta cu literele A,B,D,E
- Numeste 3 specii de plante din unitatea notata pe harta cu litera A

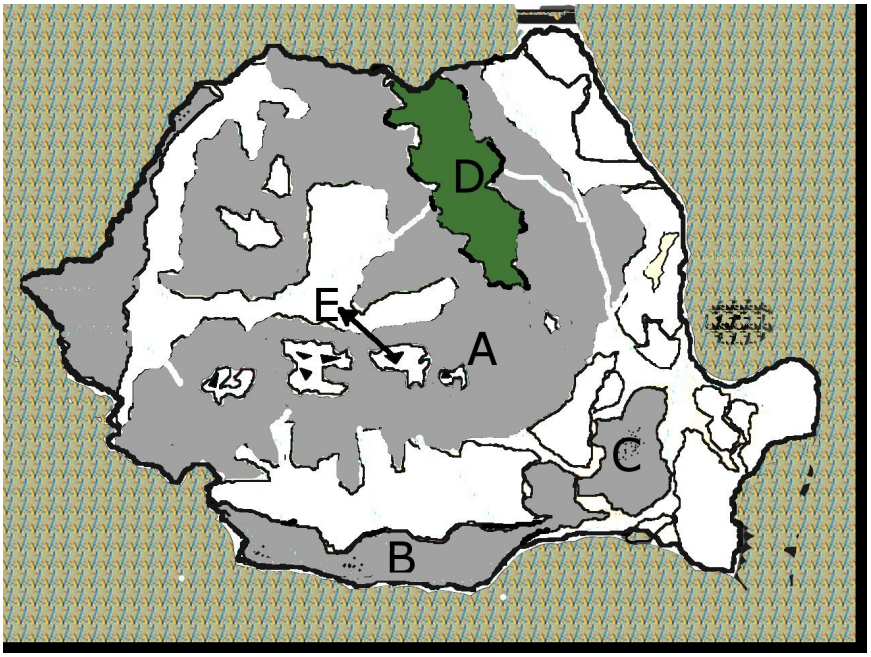

Exercitiul 2

- Notati in tabel speciile de plante caracteristice zonelor de vegetatie

Zona de stepa	
Zona de silvostepa	
Zona padurilor de foioase din dealurile joase	
Zona padurilor de foioase din dealurile inalte	
Zona padurilor de conifere	
Zona subalpina	
Zona alpina	

Harta solurilor din

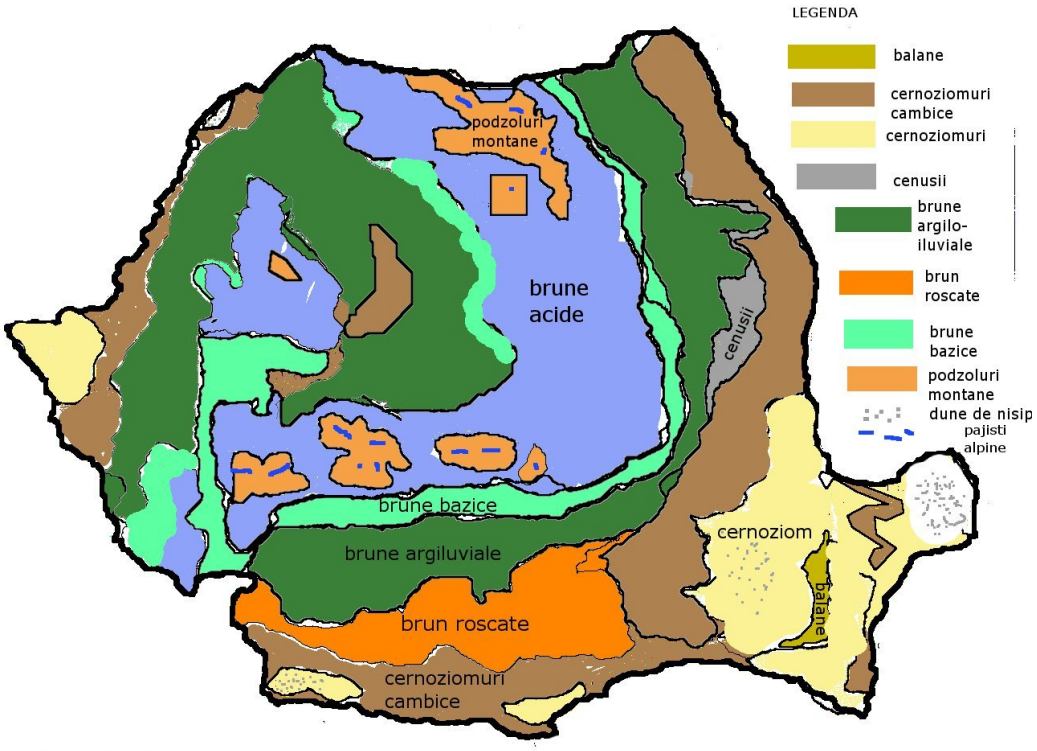

Romania

Exercitiul 1

- Identifica tipurile de sol de pe harta notate cu literele:B,G,F,D,E,A

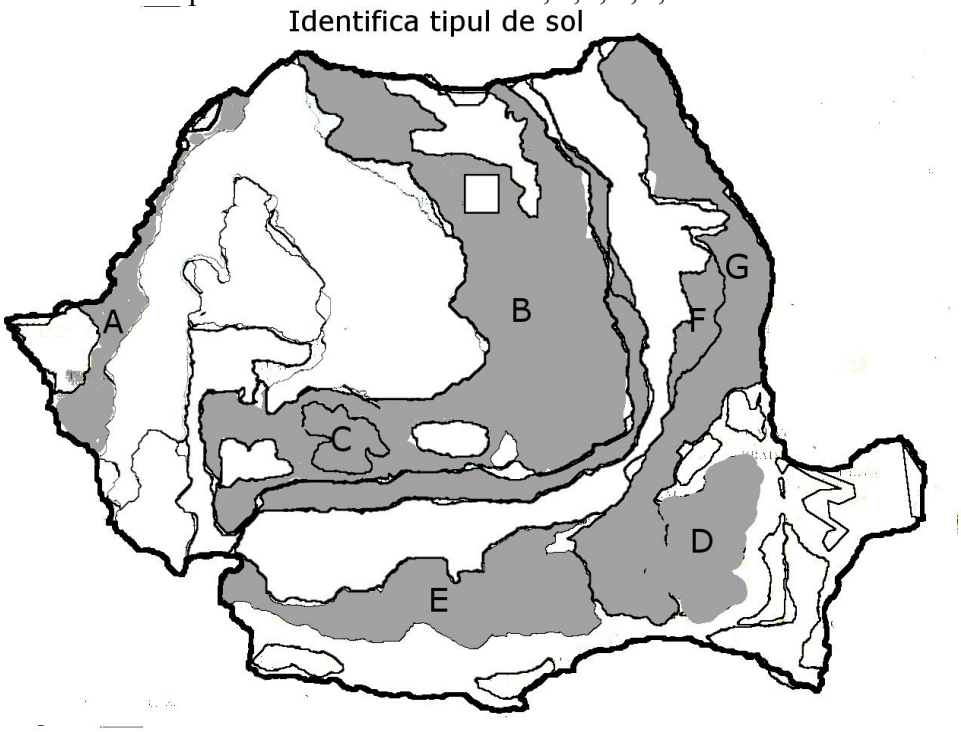

Exercitiul 2

Noteaza in tabel 1 tip de sol pentru urmatoarele unitati fizico-geografice:

Campia Baraganul	
Subcarpatii Curbu	
Podisul Getic	
Grupa muntilor Pa	

6) Resursele naturale ale Europei/Romaniei

Exercitiul 1

Completati tabelul de mai jos cu cate o resursa naturala corespunzatoare

	ROMANIA	EUROPA
Resurse de subsol		
Resurse de apa		
Resurse vegetale		
Resurse de sol		

7) Elemente de geografie umana ale Europei si Romaniei

Harta statelor Europei

Exercitiul 1

Folosind harta de mai jos raspundeti urmatoarelor cerinte:

- Numiti tarile notate pe harta cu cifre de la 1 la 8

1.....
2.....
3.....

4.....
5.....
6.....
7.....
8.....

- Precizati cu aproximatie densitatea populatiei in zonele notate pe harta cu a si b

a.....
b.....

- Numiti tipul de religie din statele notate cu cifrele: 1, 7, 8

1.....
7.....
8.....

- Din tarile reprezentate cu cifre numiti :2 tari latine si o tara care a apartinut URSS

1.....
2.....

1.....

- Numiti principala minoritate din statul notat pe harta cu cifra 8

.....

Exercitiul 2

- Folosind harta de mai jos numiti statele notate pe harta cu literele: A,B,C,J,H,G,E,D,I,F

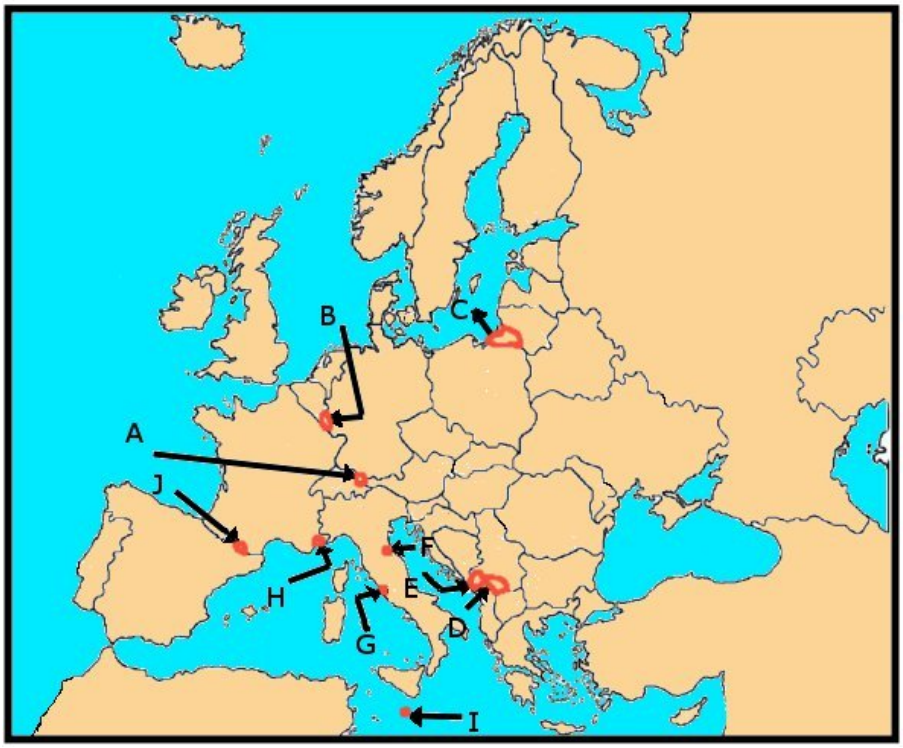

A.....
B.....
C.....
D.....
E.....
F.....
G.....
H.....
I.....

Exercitiul 3

- Notati in tabelul de mai jos numele tarilor corespunzatoare fiecarei litere:

A	
B	
C	
D	
E	
F	

G	

8) Populatia si caracteristicile ei geodemografice

	densitatea	**Structura confesionala**	**Structura lingvistica**	**Structura etnica**	**Aspecte demografice**	
					Natalitate	**Mortalitate**
Europa						

Romania						

9) Sistemul de orase al Europei si Romaniei

9.1 Sistemul de orase din Europa

Exercitiul 1

- Notati in dreptunghiuri denumirea corespunzatoare orasului

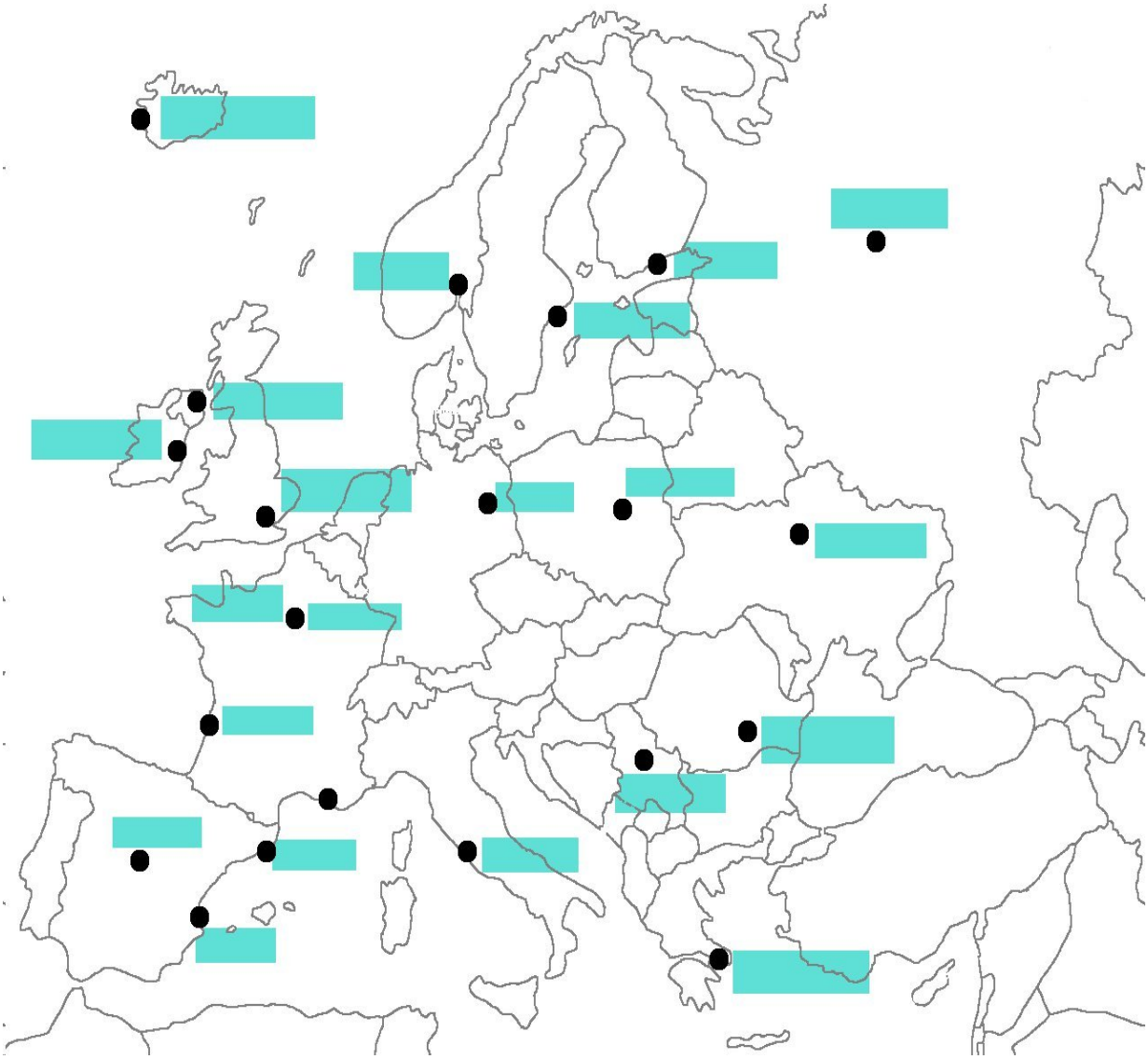

Exercitiul 2

- Numiti capitalele statelor:

Albania.....
Rusia.....
Andora.....
Malta.....
Ucraina.....
Serbia.....
Norvegia.....
Suedia.....
Franta.....
Portugalia.....

Exercitiul 3

- Cauta capitala statului din coloana 2 in sirul de litere din prima coloana

ADLPARISKJL	Franta
VIENASDREA	Austria
KZ KIEVOJYK	Ucraina
WPTOSLOMKS	Norvegia
ASDMINSKMN	Belarus
WERTPRAGAL	Cehia
QBERLINMND	Germania
DSEMROMAMN	Italia
WEMNJATENAN	Grecia
ERBELGRADFGU	Serbia
ESGMADRIDSRH	Spania
ASDEVARSOVIA	Polonia

9.2 Sistemul de orase din Romania

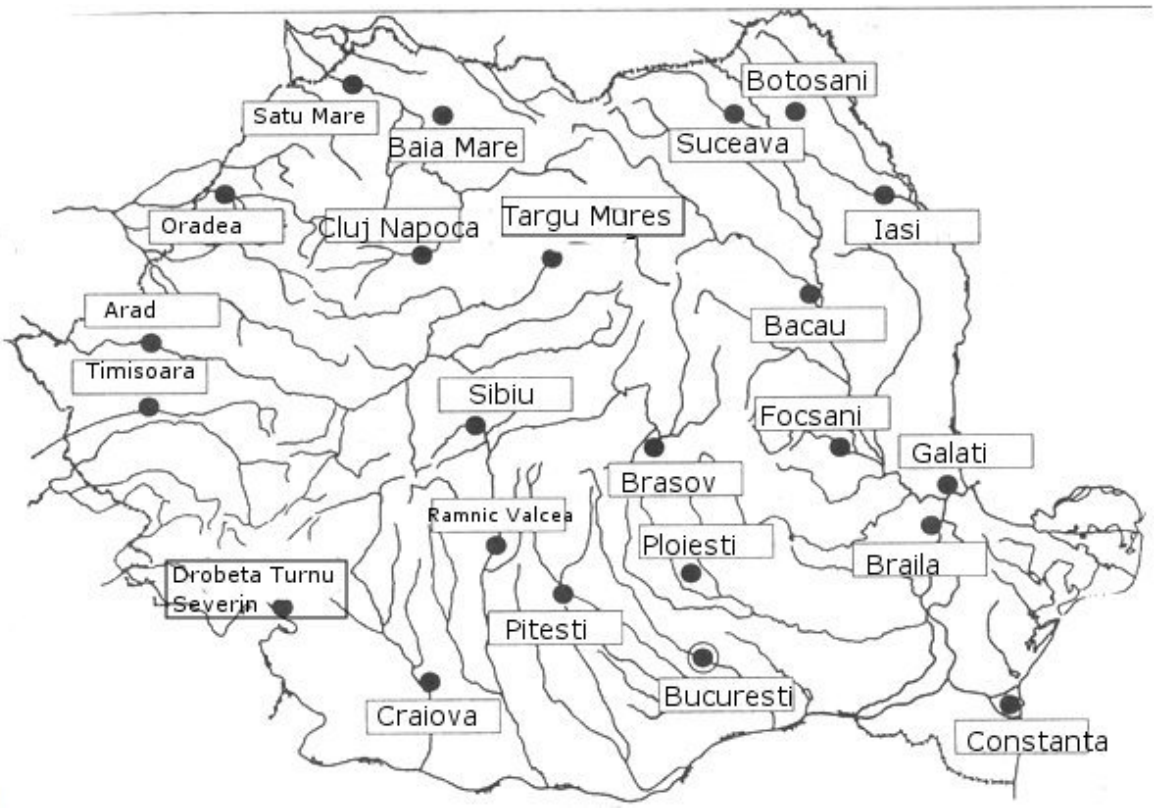

Harta Principalele orase din Romania

Exercitiul 1

- Folosind harta de mai jos noteaza orasele numerotate cu cifre de la 1 la 39

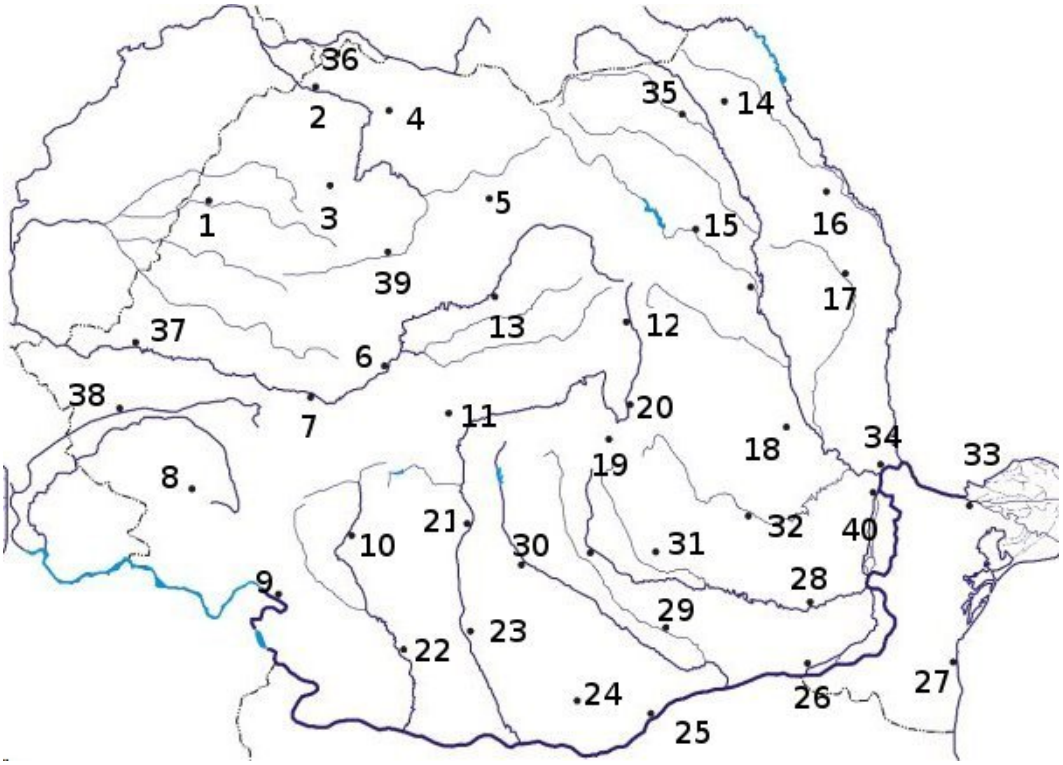

Noteaza numele oraselor

1……..
2…….
3……
4…….
5……..
6……..
7……
8……
…..
9…….
10……
11……
..
12……
……
13……
……
14……
…….
15……
……..
16……
……
17……
……
18……
……..
19……
……..
20……
……..
21……
……..
22……
…….

23……
……
24……
……
25……
……
26……
…….
27……
……..
28……
…….
29……
……
30……
……
31……
……..
32……
……
33……
……
34……
……..
35……
……
36……
……
37……
……
38……
……
39……
……
40……
……

10) Activitatile economice in Europa si Romania

10.1 *Industria Europei*

Exercitiul 1

- Folsind harta de mai sus rezolvati cerintele care vi se cer pentru fiecare tara.

Exercitiul 2

- Folosind tabelul de mai jos completati regiunile de extragere a resurselor de subsol din statele respective:

Statul	Resursa	Regiunea
Franta	Fier	
Polonia	carbune	
Marea Britanie	petrol	
Ucraina	carbune	
Olanda	Gaze naturale	

Spania	Fier	

Exercitiul 3

- Completati in tabel plantele de cultura specifice statelor respective:

Statul	Plante de cultura
Spania	
Germania	
Rusia	

10.2 Industria Romaniei

Exercitiul 1

- Folosind harta de mai sus raspundeti urmatoarelor cerinte:

- numiti o hidrocentrala situata pe raul (sau pe afluentii acestuia) numerotat pe harta cu cifra 9
- numiti o resursa de subsol si 2 centre de extractie din regiunea notata pe harta cu litera E
- numiti o cultura agricola din regiunea notata pe harta cu litera F
- numiti o ramura industriala din orasul notat pe harta cu cifra 1
- numiti o resursa de subsol din unitatea notata pe harta cu A
- numiti o ramura industriala din orasul notat pe harta cu cifra 6

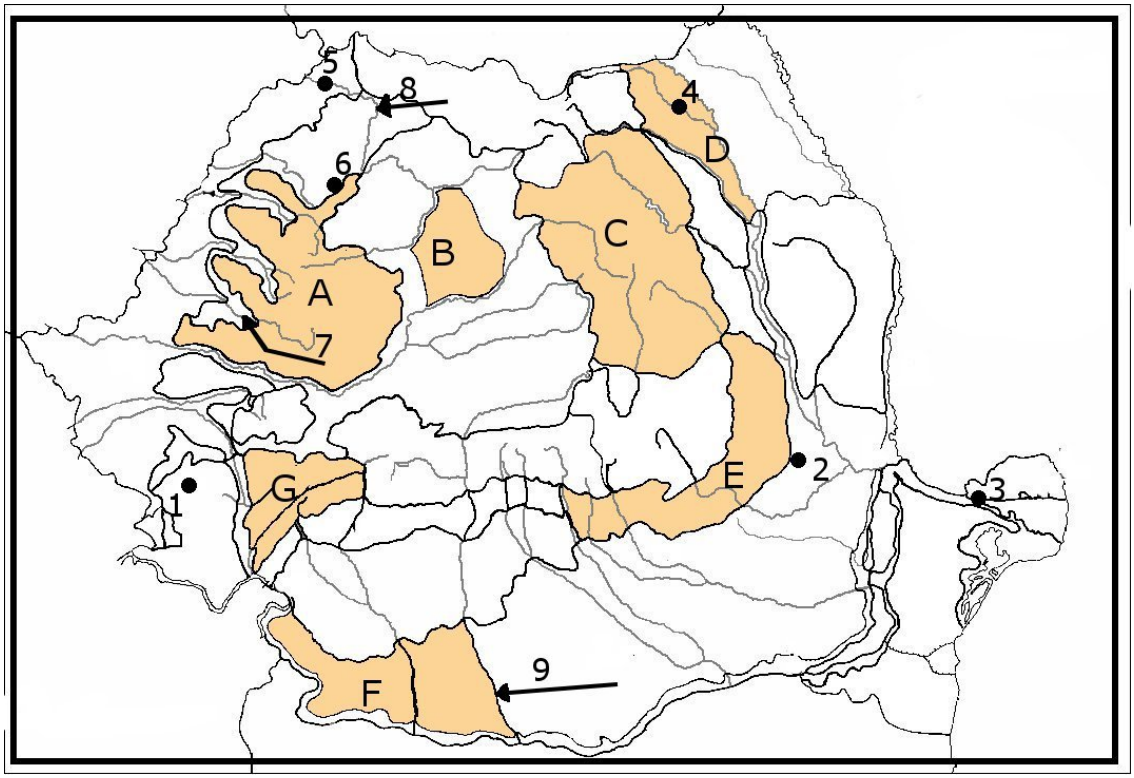

10.3 *Agricultura Europei*

Exercitiul 1

- Alegeti din coloana de mai jos planta corespunzatoare fiecarui stat

ASCARTOFASDE	ITALIA
DERMASLINMJH	SERBIA
DFSTSTRUGURIM	RUSIA
PRUNEMJUHGBFS	
ASGRAUIJHGGSA	

GERMANIA
GRECIA

Exercitiul 2

- Caracterizati peisajul agricol de tip open-fied precizand:

- localizare
- plante de cultura
- dispunerea parcelelor

10.4 *Agricultura Romaniei*

Exercitiul 1

- Precizati o regiune geografica in care se cultiva fiecare dintre plantele de mai jos

Graul si porumbul	
Vita de vie	
Piersicul	
Floarea soarelui	

11) Transporturile in Europa si Romania

11.1 *Transporturile in Europa*

Exercitiul 1

- Numiti pentru fiecare categorie cate 5 exemple

Porturi maritime	
Porturi fluviale	
Aeroporturi	

11.2 *Transporturile in Romania*

- Numiti pentru fiecare categorie cate 1 exemplu

Porturi maritime	
Porturi fluviale	
Aeroporturi	

12) Tarile vecine Romaniei

Ucraina

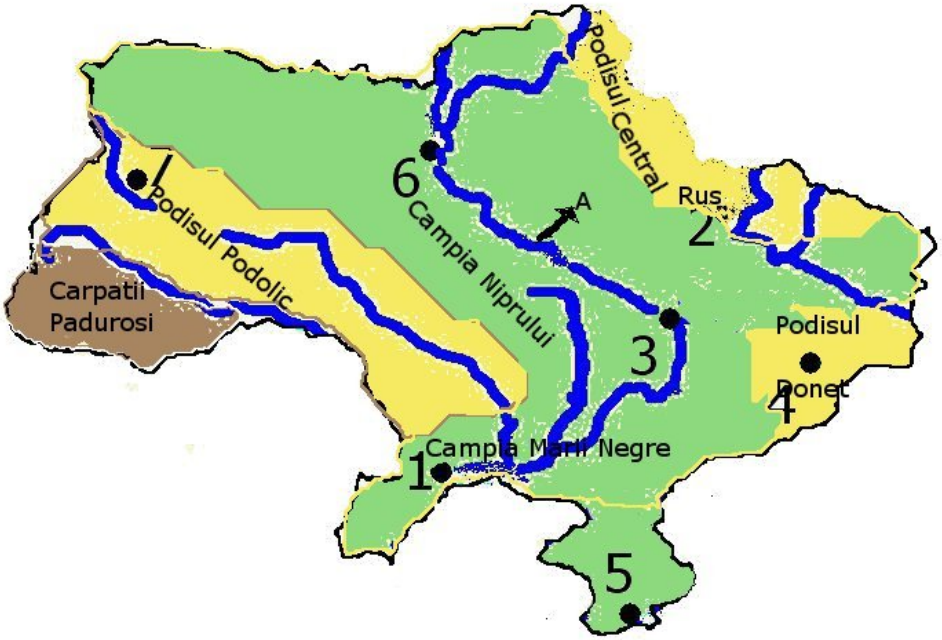

Exercitiul 1

- Utilizand harta de mai sus raspundeti urmatoarelor cerinte:

  - Numiti orasele numerotate pe harta cu cifrele 6 si 3
  - Numiti raul noatat pe harta cu litera A
  - Numiti o resursa de subsol din podisul Donet
  - Numiti tipul de clima din aceasta tara
  - Numiti 3 ramuri industriale din Ucraina

Bulgaria

Exercitiul 1

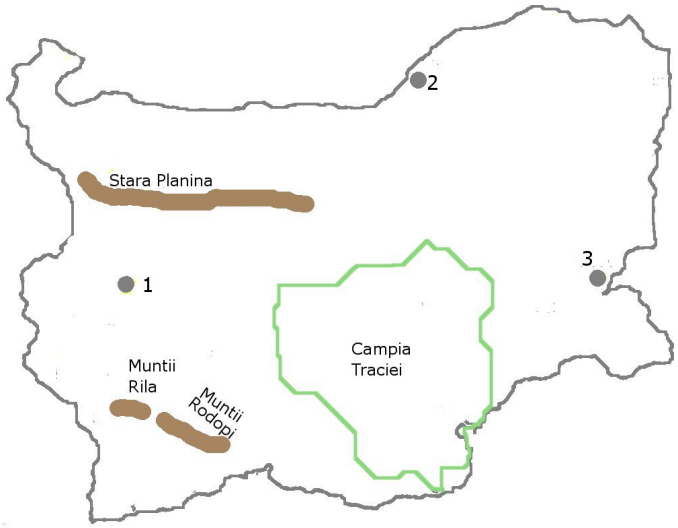

- Precizati:
- numele oraselor notate pe harta cu cifrele 1,2,3
- ramuri industriale
- caracteristici ale reliefului pentru muntii Rila
- zona turistica
- 1 rau

Moldova

Exercitiul 1

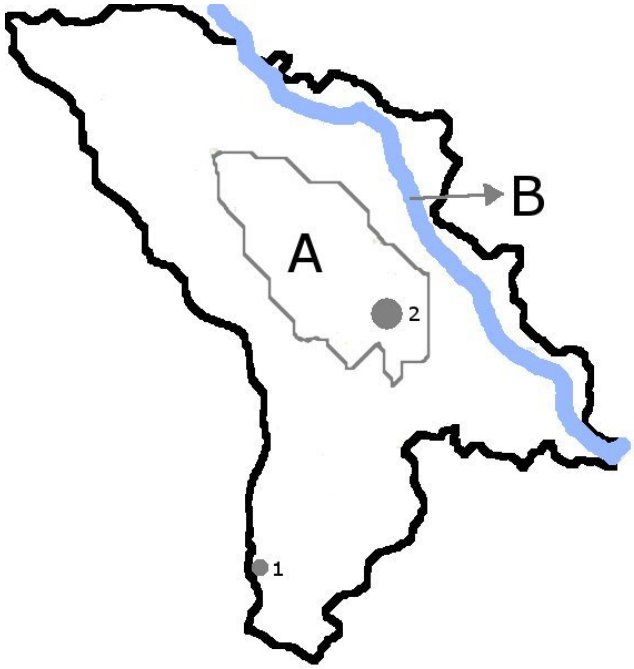

- Precizati:
- unitatea de relief notata pe harta cu litera A
- orasele notate pe harta cu cifrele 1 si 2
- raul notat pe harta cu litera B
- ramura industriala

Serbia

Exercitiul 1

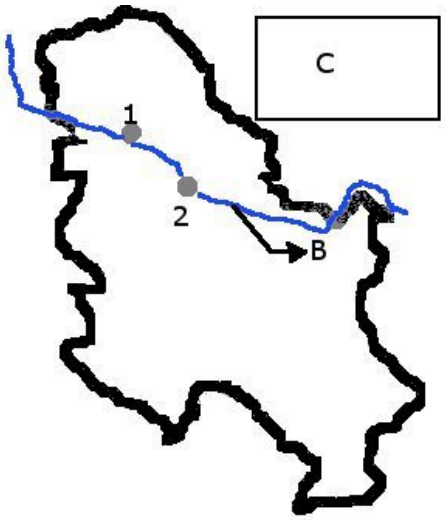

- Precizati:
- numele oraselor notate pe harta cu numerele 1 si 2
- numele raului notat pe harta cu litera B
- numele statului vecin Serbiei notat pe harta cu litera c
- unitate de relief din Serbia
- ramuri economice

Ungaria

Exercitiul 1

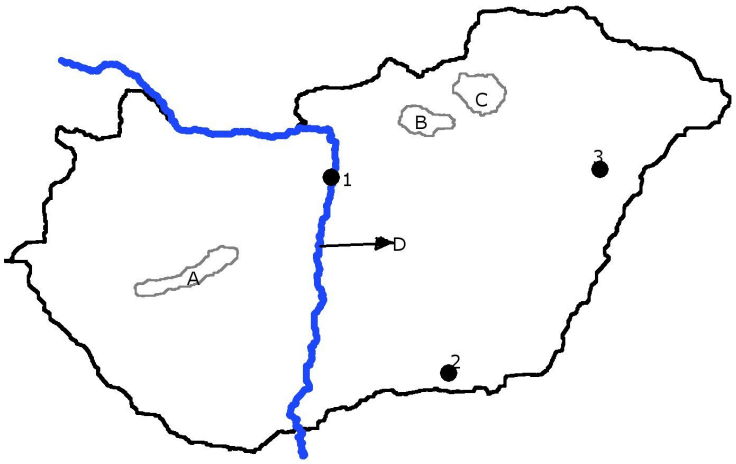

- Precizati:
- numele oraselor notate pe harta cu cifrele 1, 2,3
- numele lacului notat pe harta cu litera A
- numele raului notat cu litera D
- numele unitatilor de relief notate cu literele A si B
- ramuri economice

13) Uniunea Europeana

13.1 Formarea Uniunii Europene si evolutia integrarii europene

Exercitiul 1

- Precizati insemnele Uniunii Europene:
- steagul.....
- imnul.....
- Ziua Europei.....
- Moneda.....
- Deviza.....

Exercitiul 2

- Aderarea tarilor la UE s-a facut succesiv in 5 valuri repartizate in timp astfel:

- Membrii fondatori au fost.....
- Primul val (1973).....
- Al doilea val (1981).....
- Al treilea val (1986).....
- Al patrulea val (1995).....
- Al cincelea val (2004, prima parte).....
- Al cincelea val (2007, a doua parte).....

Exercitiul 3

- In prezent tarile candidate la aderarea in Uniunea Europeana sunt:

- .....,
- .....,
- .....,
- .....,
- .....,
- .....

Exercitiul 4

- Folosind tabelul de mai jos alegeti rolurile corespuzatoare pentru fiecare organism European (fiecarui organism european ii corespunde o singura linie din tabel

Parlamentul European	- interpretează legislația europeană pentru a se asigura că aceasta se aplică în acelaşi fel în toate țările UE. De asemenea solutioneaza litigiile dintre guvernele statelor membre şi instituțiile europene.
Consiliul Uniunii Europene	- Verifica orice persoana sau organizatie ce gestioneaza fonduri europene
Comisia Europeana	- dezbate şi adoptă legislația UE, împreună cu Consiliul - monitorizează alte instituții europene, în special Comisia, pentru a se asigura că acestea funcționează în mod democratic - dezbate şi adoptă bugetul UE, alături de Consiliu.
Curtea de justitie a Uniunii Europene	- Adoptă legislația europeană. - Coordonează politicile economice generale ale statelor membre. - Semnează acorduri între UE şi alte țări.

	- Aprobă bugetul anual al UE. - Elaborează politica externă şi de apărare a UE - Coordonează cooperarea dintre instanțele judecătoreşti şi forțele de poliție din țările membre.
Curtea Europeana de Conturi	- propune proiecte legislative Parlamentului şi Consiliului - gestioneaza bugetul UE şi alocând fonduri - aplica dreptul european (împreună cu Curtea de Justiție) - reprezentaUniunea Europeană la nivel internațional, de exemplu negociind acordurile dintre UE şi alte țări.

Exercitiul 5

- Completati tabelul de mai jos cu numele statului din UE care are:

- 1 cea mai mare suprafata
- cea mai mica suprafata
- cel mai mare numar de locuitori
- cel mai mic numar de locuitori
- statul cu numarul cel mai mare de turisti
- statul cu cel mai mare PIB

1	2	3
4	5	6

13.2 *Caracteristici geografice economice si politice*

Exercitul 6

- Notati in tabel cate o caracteristica pentru fiecare linie

Caracteristici economice	
Caracteristici politice	

Caracteristici demografice	

13.3 Statele Uniunii Europene

Germania

Exercitiul 1

➢ Precizati:

- numele oraselor notate pe harta cu cifrele :1,2,3,4
- numele raurilor notate pe harta cu literele B si A
- numele unitatilor de relief notate pe harta cu literele c si d
- doua caracteristici ale reliefului unitatii notata cu d
- 3 ramuri industriale din economia Germaniei
- doua caracteristici ale reliefului unitatii notata cu c

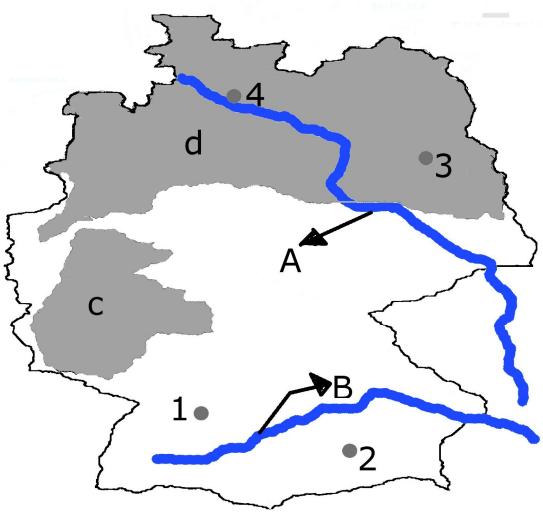

Franta

Exercitiul 1

➢ Precizati:

- numele oraselor numerotate cu cifrele 1,2,3,4,5,6,7,8
- numele raurilor numerotate cu literele A, B,C
- industrie din orasul numerotat cu cifra 6
- scrieti in dreptunghiuri numele vecinilor
- modul de varsare ale raurilor notate cu C si B

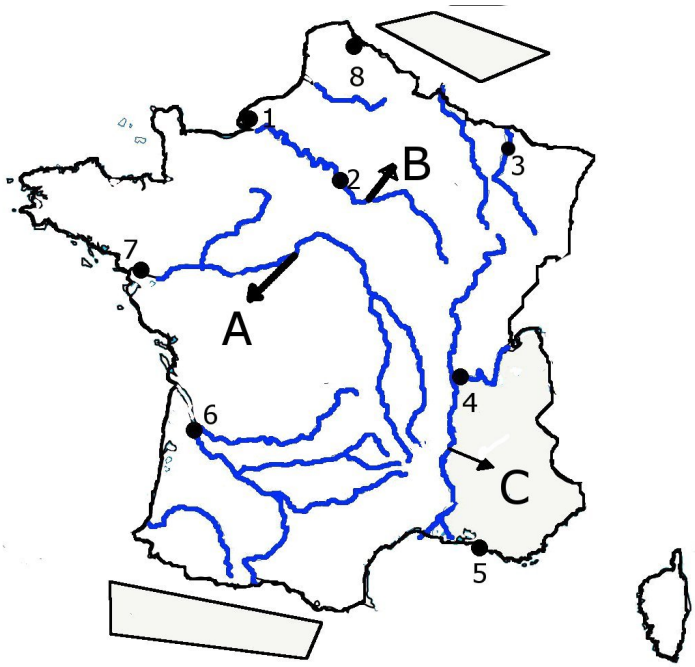

Exercitiul 2

- Precizati:

- numele unitatilor de relief notate cu literele A si B
- numele oraselor numerotate cu cifrele 1,2,3,4,5,6
- tipurile de tarmuri notate cu literele a si b
- doua caracteristici ale reliefului din unitatea notata pe harta cu litera A
- ramura industriala din orasul notat pe harta cu cifra 6

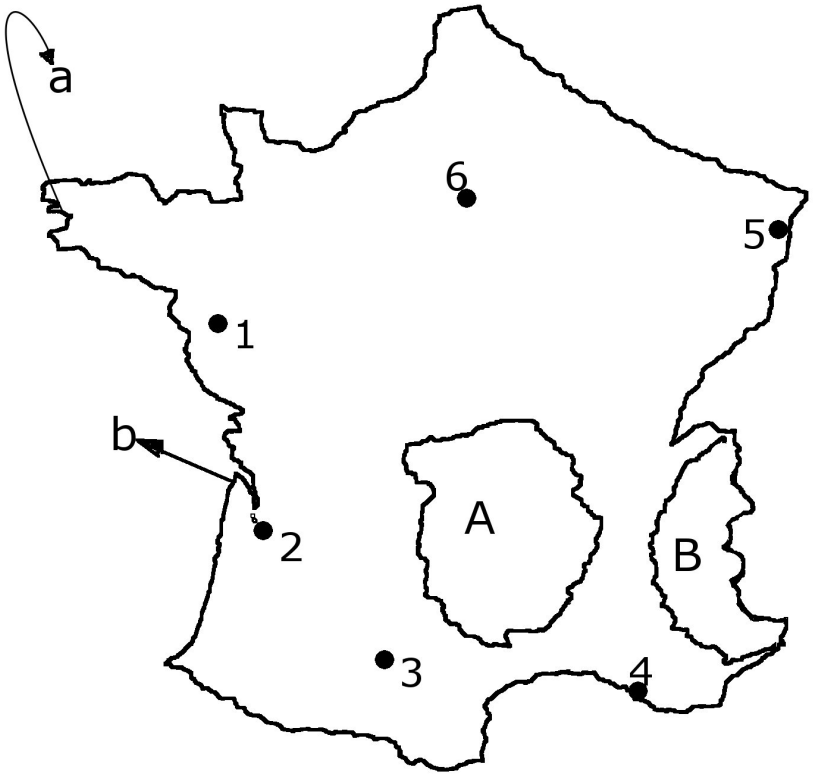

Regatul Unit al Marii Britanii si Irlandei de Nord

Exercitiul 1

- Precizati:
  - numele oraselor numerotate cu cifrele 1,2,3,4,5,6,7
  - numele unitatilor de relief notate cu literele A,B,C
  - numele raului numerotat cu litera D
  - caracteristici ale reliefului din unitatea notata cu B
  - numele statului a carui capitala e orasul numerotat cu cifra 6
  - 1 tip de tarm prezent
- ramuri industriale

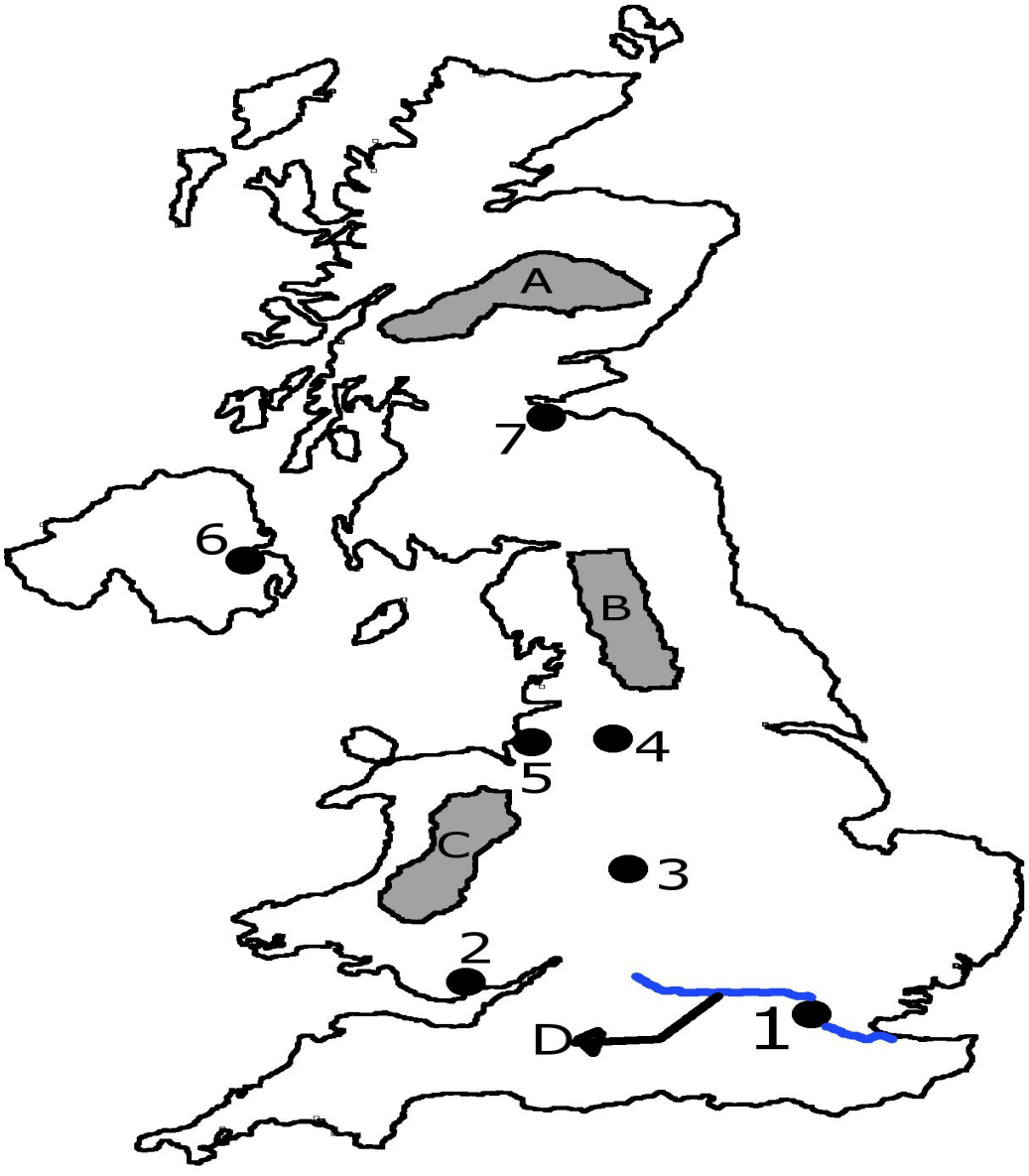

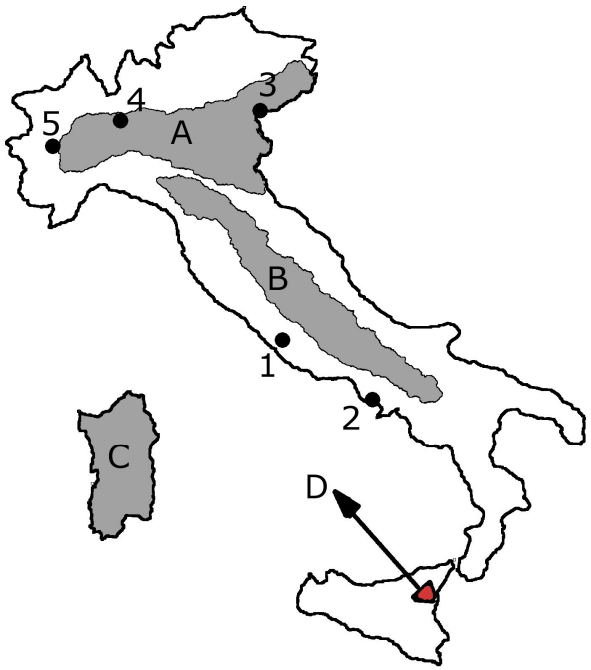

Italia

Exercitiul 1

- Precizati:
  - numele unitatilor de relief notate pe harta cu literele A si B
  - numele oraselor notate pe harta cu cifrele 1,2,3,4,5
  - numele insulei notate pe harta cu litera C
  - numele vulcanului notat pe harta cu litera D
  - plante cultivate in unitatea notata cu litera A
  - caracteristici ale reliefului din unitatea notata cu litera B

Exercitiul 2

- Precizati:
  - numele raurilor notate pe harta cu literele A si B
  - numele oraselor notate cu numerele 1, 5, 6 si 9
  - ramuri industriale
  - zona turistica
  - 1 tip de clima

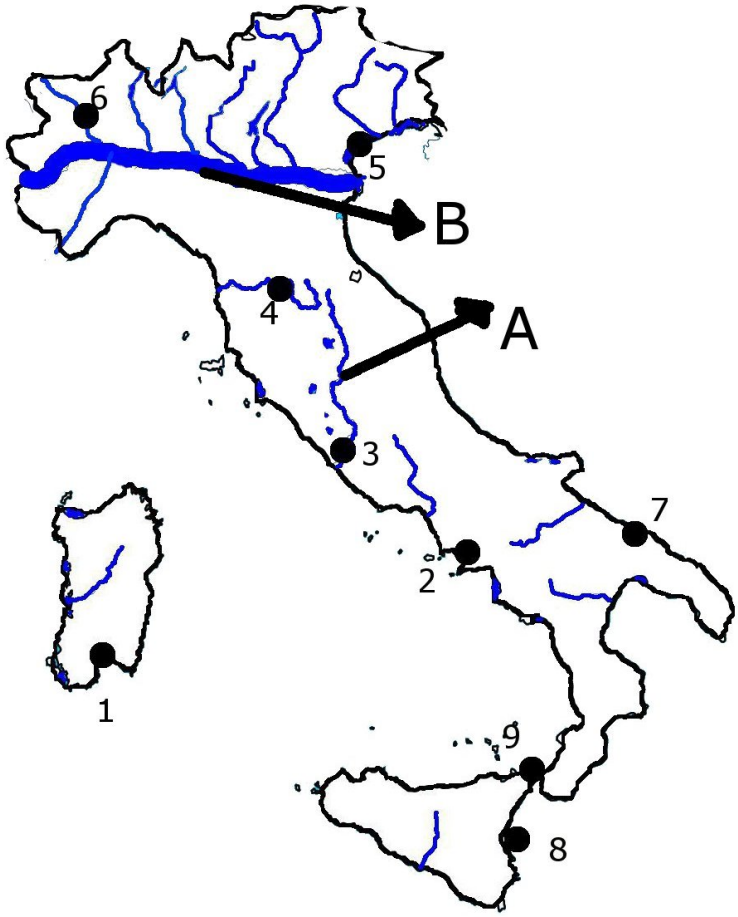

Spania

Exercitiul 1

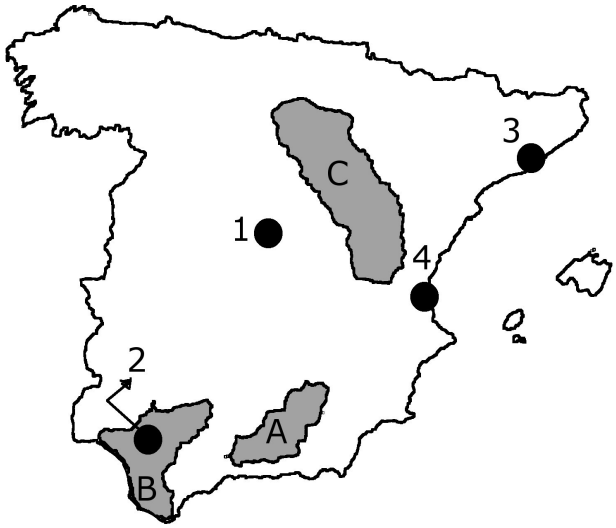

- Precizati:
- numele unitatilor de relief notate cu literele A,B,C
- numele oraselor notate cu cifrele :1,2,3,4
- caracteristica a reliefului din unitatea A
- 1 tip de cultura agricola din unitatea B
- zona turistica

Exercitiul 2

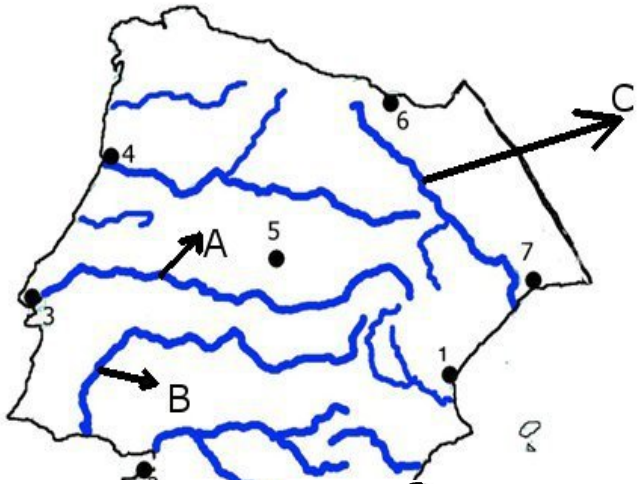

- Precizati:
- Numele oraselor numerotate pe harta cu cifrele 5,4,6,7 si 3
- Numele raurilor notate pe harta cu literele A,B,C
- 1 tip de clima din Spania
- ramuri industriale din Spania

Grecia

- Precizati:
- numele oraselor numerotate pe harta cu cifrele 1,

- numele unitatilor de relief notate cu literele A si B
- numele insulei notate cu litera B
- plante de cultura
- ramuri industriale
- caracteristica a reliefului din unitatea C
- temperatura medie anuala

Tarile Benelux

Belgia

Exercitiul 1

- Precizati:
- capitala statului belgian
- unitate de relief
- un tip de clima
- un bazin carbonifer
- un tip de vegetatie

Olanda

Exercitiul 1

- Precizati:
- ramuri industriale
- orase importante
- un tip de clima
- forme de relief
- o resursa de subsol

Luxembourg

Exercitiul 1

- Precizati:
- O unitate de relief
- O ramura industriala

Tarile nordice

Exercitiul 1

- Grupati corect cuvintele din imaginea de mai jos. Alegeti din cuvintele respective datele care se potri fiecarui stat.

Alpii
Scandinaviei

Colinele
Salpausselka

Campia
Skane

insula Sjaelland

peninsula
Iutlanda

Podisul Norlland

tara celor" 1000" de lacuri

Suedia_____

Danemarca_____

Finlanda_____

Exercitiul 2

Suedia

Helsinki

hidroenergie

Copenhaga

Finlanda

centrele miniere
Kiruna si Gallivare

Stocholm

Lahti

masini

telefoane Nokia

Goteborg

lacul Vanern

mobila Ikeea

industria
jucariilor(Lego)

Uppsala

Suedia_____

Danemarca_____

Finlanda_____

Alte tari central-europene

Exercitiul 1

➢ Precizati:

- resurse de subsol din statul notat pe harta cu litera A
- orase din statul notat pe harta cu litera D
- un lac din statul notat pe harta cu litera G
- unitate de relief din statul notat pe harta cu litera F
- ramura industriala din statul notat pe harta cu litera B
- unitate de relief din statul notat pe harta cu litera A
- un rau din statul notat pe harta cu litera E
- ramura industriala din statul notat pe harta cu litera G
- zona turistica din statul notat pe harta cu litera E
- un lac din statul notat pe harta cu litera D
- 2 orase din statul notat pe harta cu litera G
- un tip de vegetatie din statul notat pe harta cu litera A
- temperatura medie anuala din statul notat pe harta cu litera D
- un tip de relief din unitatea notata pe harta cu litera G

Tarile baltice

Exercitiul 1

➢ Grupati corect cuvintele din imaginea de mai jos. Alegeti din cuvintele respective datele care se potri
fiecarui stat.

Talin Vilnius

2,2 milioane locuitori

Letonia_____

Riga Kaunas

3,5 milioane locuitori

Lituania_____

1,3 milioane locuitori

Raul Nieman

Estonia_____

14) Romania parte a Uniunii Europene

14.1 *Oportunitati geografice ale Romaniei cu semnificatie pentru Uniunea Europeana*

Exercitiul 1

- Precizati 3 caracteristici importante pentru UE ale celor 3 unitati

- Carpatii
  _____

  _____

  _____
- Dunarea
  _____

  _____

  _____
- Marea Neagra

  _____
  _____
  _____

14.2 *Oportunitati umane si ecomice*

Exercitiul 1

- Precizati 3 atuuri geostrategice ale Romaniei

_____
_____
_____

15) Problema energiei in Uniunea Europeana

16) Europa si Uniunea Europeana in lumea contemporana

Exercitiul 1

Cele mai importante probleme ale lumii contemporane sunt:

_____
_____
_____
_____
_____
_____
_____

17) Rolul Europei in constructia lumii contemporane

Exercitiul 1

- Precizati cate o contributie caracteristica a Europei la dezvoltarea lumii pentru fiecare perioada din tabel:

Civilizatia greaca	Civilizatia romana	Renasterea	Revolutia industriala

18) Uniunea Europeana si ansamblurile contemporane

Exercitiul 1

- Precizati 3 obiective ale UE si ONU

_____
_____
_____

Exercitiul 2

- Analizati raporturile UE-NAFTA si UE-MERCOSUR aratand 2 asemanari si 2 deosebiri

- Asemanari

- Deosebiri

Exercitiul 3

- Care dintre statele din tabel apartin grupului NAFTA

Taiati cu o linie raspunsurile gresite din tabel

Ucraina	Rusia	Franta	Canada
SUA	Uruguay	Peru	Spania
Congo	Honduras	Mexic	Moldova

19) Mondializare, internationalizare si globalizare din perspectiva europeana

Exercitiul 1

- Precizati 2 efecte pozitive si 2 elemente negative ale globalizarii

Efecte negative

_____
_____

Efecte pozitive

_____
_____

Exercitiul 2

- Definiti termenii:
  - globalizare_____
  - mondializare_____
  - universal_____
  - internationalizare_____

Exercitiul 3

- Ce inseamna mondializarea economiei?

a) Gruparea regionala a statelor pe criterii strategice

b) Stabilirea de relatii intre state aflate la departare unul fata de altul
c) Schimburi dintre diferite zone pe glob

20) Elemente de geografie a serviciilor si administratie

20.1 *Caile de comunicatii in Europa*

Exercitiul 1

- Gaseste marcile de masina corespunzatoare pentru fiecare stat din coloana 1 si noteaza-le in dreptul statului respectiv

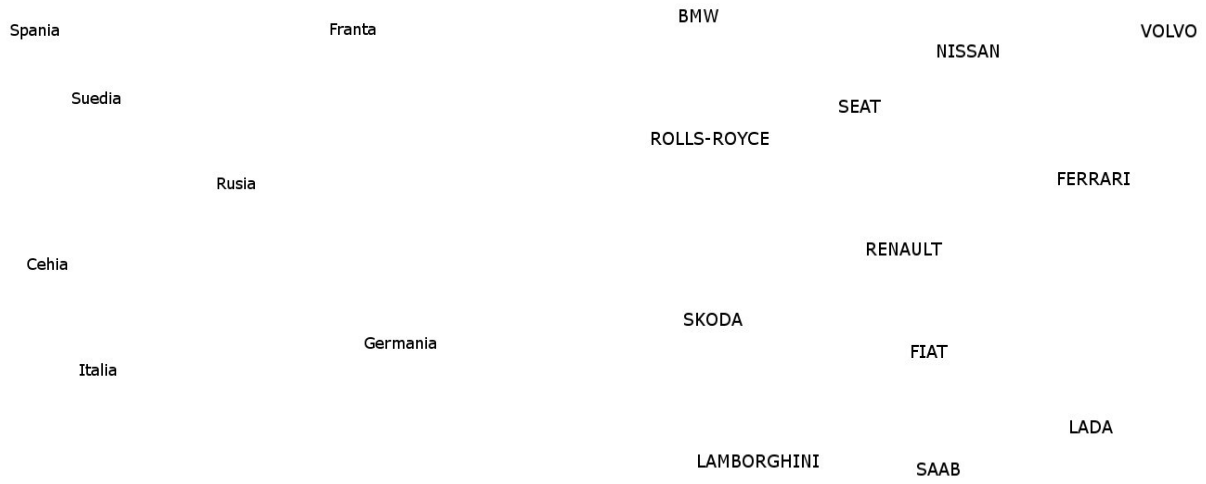

Exercitiul 2

- Completati tabelul de mai jos si notati cate un avantaj si cate un dezavantaj pentru fiecare tip de transport

	Transporturile rutiere	Transporturile maritime	Transporturile feroviare	Transporturile aeriene
Avantaje				
Dezavantaje				

Exercitiul 3

Completati spatiile libere:
Prima tara care a beneficiat de trenuri de mare viteza a fost.....
Magistrala feroviara ce se desfasoara intre orasele:Berlin, Praga, Budapesta, Bucuresti se numeste.....
Cel mai mare port fluvial din Europa este.....
Cea mai veche retea de metrou din lume a fost in orasul.....
Cel mai mare port maritim din Europa este.....
Cel mai mare aeroport din Europa este.....

20.2 *Caile de comunicatii in Romania*

Notati orasele prin care trec urmatoarele magistrale feroviare
Bucuresti-Oradea:_____,_____,_____,_____,_____
Bucuresti –Timisoara _____,_____,_____,_____
Bucuresti-Suceava_____,_____,_____,_____,_____

21) Diversitatea umana Europei (Lingvistica, religioasa si etnica)

21.1 In Europa

21.2 In Romania

	Densitatea	Structura confesionala	Structura lingvistica	Structura etnica	Aspecte demografice	
					Natalitate	Mortalitate
Europa						
Romania						